Synthèse d'algèbre

Yvan Haine

Version 2 - Janvier 2024

Ce recueil d'algèbre a été rédigé suite à une suggestion de M. le Professeur E. Delhez.
Cette deuxième version est une adaptation de la première suite aux modifications des programmes de l'enseignement secondaire qui ont été effectuées depuis la première version de ce recueil.

Ce document est destiné à aider les étudiants à préparer l'examen d'admission aux études d'ingénieur civil.
Il reprend la plupart des notions régulièrement reprises parmi les questions habituellement posées.
Son objectif est de proposer une synthèse des définitions et propriétés utiles. Aucun résultat énoncé n'est démontré.
Certaines notions indispensables sont absentes. Par exemple, les notions de puissances, de racines carrées ou $n^{\text{ème}}$, n'y figurent pas mais il serait fou d'en négliger la maîtrise pour présenter l'examen avec succès.
Cependant, il ne faut pas le considérer comme une bible ! Il est certainement pourvu de nombreux défauts : lacunes, imprécisions, manque d'exemples ou d'exercices, illustrations omises, lapsus ou fautes de frappe,...
Une étude par coeur du contenu de ce recueil n'est pas une bonne méthode de se préparer et ne garantit en rien la réussite de l'examen.

Toutes nos excuses pour ces défauts. Nous espérons profiter des commentaires et remarques des utilisateurs pour perfectionner cette première version pour les années ultérieures.
Merci à Thomas Belligoi pour les nombreux exercices et remarques fournies et à Eveline Moitroux pour le partage de ses notes et ses nombreux conseils judicieux. Merci à Antoine Evens et Christophe Dozot pour leur relecture attentive.

Chapitre 1

Signe sommatoire

1.1 Notation

Si $n \in \mathbb{N}$, la somme des n nombres (réels ou non) $x_1, x_2, \ldots, x_n$ est notée $x_1 + x_2 + \ldots + x_n$ ou

$$\sum_{i=1}^{n} x_i$$

et se lit « somme pour i allant de 1 à n des x_i ».

Le signe Σ (lettre grecque sigma majuscule) est appelé *signe sommatoire* (ou plus couramment signe somme).

La lettre i est l'*indice* du signe sommatoire. Il prend toutes les valeurs entières comprises entre la valeur initiale (ici 1) et la valeur finale (ici n). L'indice peut être un simple numéro (ce qui est généralement le cas en statistiques lorsque les x_i sont des données numériques) ou sa valeur intervient directement dans les différents termes de la somme (par exemple, la somme des n premiers entiers s'écrit $\sum_{i=1}^{n} i$).

1.2 Propriétés

1. L' indice joue un rôle muet càd $\sum_{i=1}^{n} x_i = \sum_{j=1}^{n} x_j$.

2. Si $1 \leq p \leq n$, alors $\sum_{i=1}^{n} x_i = \sum_{i=1}^{p} x_i + \sum_{i=p+1}^{n} x_i$.

   Cette propriété découle simplement de l'associativité de l'addition des réels.

3. Si a est un réel, alors $\sum_{i=1}^{n} a = n\,a$.

   En effet, la somme des n termes $a + a + \ldots + a$ vaut $n\,a$.

4. Si a est un réel (indépendant de i), alors $\sum_{i=1}^{n} a\,x_i = a \sum_{i=1}^{n} x_i$.

   Cela revient à mettre le facteur a en évidence.

5. $\sum_{i=1}^{n} (x_i + y_i) = \sum_{i=1}^{n} x_i + \sum_{i=1}^{n} y_i$.

   Cette propriété découle simplement de l'associativité et de la commutativité de l'addition des réels.

1.3 Exercices

1. Sachant que la moyenne d'une série statistique $\{x_1, x_2, \ldots, x_n\}$ vaut $\bar{x} = \frac{1}{n} \sum_{i=1}^{n} x_i$, prouver que $\sum_{i=1}^{n} (x_i - \bar{x}) = 0$ et $\sum_{i=1}^{n} (x_i - \bar{x})^2 = \sum_{i=1}^{n} x_i^2 - n\,\bar{x}^2$.

2. Une matrice carrée de dimension n est un tableau de nombres disposés en n lignes et n colonnes. L'élément de la i^{e} ligne et de la j^{e} colonne de la matrice A est noté a_{ij}.

   La matrice A s'écrit $\begin{pmatrix} a_{11} & \ldots & a_{1n} \\ \vdots & & \vdots \\ a_{n1} & \ldots & a_{nn} \end{pmatrix}$.

   Exprimer à l'aide d'un signe sommatoire

   (a) la somme des éléments de la 1ère ligne,

   (b) la somme des éléments de la dernière colonne,

   (c) la somme des éléments de la diagonale principale (reliant le coin supérieur gauche au coin inférieur droit),

   (d) la somme de tous les éléments en les groupant ligne par ligne,

   (e) la somme de tous les éléments en les groupant colonne par colonne.

Chapitre 2

Démonstrations par récurrence

2.1 Principe

La démonstration par récurrence s'applique dans le cas où on doit démontrer une proposition P_n pour tout entier $n \geq 0$ ou $n \geq 1$ ou plus généralement $n \geq n_o (n_0 \in \mathbb{N})$.

Une démonstration par récurrence se compose toujours de deux étapes :

1. Initialisation de la récurrence : on démontre que la proposition est vraie pour la plus petite valeur de l'entier $n : 0, 1$ ou n_o.
2. Deuxième phase : on suppose que la proposition P_N est vraie et on démontre sous cette hypothèse, appelée hypothèse de récurrence, que la proposition P_{N+1} est vraie. On démontre donc que la propriété est « héréditaire ».

Et c'est seulement lorsque ces deux étapes sont franchies qu'on peut affirmer que la proposition est vraie pour toutes les valeurs entières de $n \geq 0, 1$ ou n_o.
D'un point de vue plus formel, on peut écrire :

$$\begin{cases} P_0 \text{ est vrai} \\ N \geq 0 \text{ et } P_N \Rightarrow P_{N+1} \end{cases} \Rightarrow \forall n \geq 0 : P_n \text{ est vrai.}$$

Dans la formulation ci-dessus, on peut remplacer 0 par 1 ou n_o en fonction des circonstances.

2.2 Exemple

Démontrons la propriété suivante :

La somme des n premiers naturels vaut $\dfrac{n(n+1)}{2}$.

En utilisant le signe sommatoire, elle s'écrit

$$\sum_{k=1}^{n} k = \frac{n(n+1)}{2}.$$

- Initialisation :

  L'assertion est vraie pour $n = 1$ car le 1er membre vaut 1 et le 2e vaut $\frac{1\cdot 2}{2} = 1$.

- Hérédité :

  Hypothèse de récurrence : $\displaystyle\sum_{k=1}^{N} k = \frac{N(N+1)}{2}$

  Thèse : $\displaystyle\sum_{k=1}^{N+1} k = \frac{(N+1)(N+2)}{2}$

  Dém : On a successivement

  $\displaystyle\sum_{k=1}^{N+1} k = \sum_{k=1}^{N} k + (N+1) = \frac{N(N+1)}{2} + (N+1)$ vu l'hypothèse de récurrence.

  Dès lors, on a $\displaystyle\sum_{k=1}^{N+1} k = \frac{N(N+1)+2(N+1)}{2} = \frac{(N+1)(N+2)}{2}$.

- Puisque la propriété est vraie pour $n = 1$, elle est vraie successivement pour $n = 2, 3, 4, \ldots$ vu que l'hypothèse de récurrence est héréditaire.

2.3 Précautions à prendre !

Dans une démonstration par récurrence, il est fondamental de démontrer les deux étapes (initialisation et hérédité).

Voici deux exemples qui illustrent ce fait.

1. Considérons l'égalité $\displaystyle\sum_{k=1}^{n} k^2 = \frac{5n^2 - 7n + 4}{2}, \forall n \geq 1$.

   - Initialisation :

     La propriété est vraie pour $n = 1$ car le 1er membre vaut 1 et le 2e vaut $\frac{5-7+4}{2} = 1$.

   - Hérédité :

     Hypothèse de récurrence : $\displaystyle\sum_{k=1}^{N} k^2 = \frac{5N^2 - 7N + 4}{2}$

     Thèse : $\displaystyle\sum_{k=1}^{N+1} k^2 = \frac{5(N+1)^2 - 7(N+1) + 4}{2}$

     Dém : On a successivement

$$\sum_{k=1}^{N+1} k^2 = \sum_{k=1}^{N} k^2 + (N+1)^2 = \frac{5N^2 - 7N + 4}{2} + (N+1)^2 \text{ vu l'hypothèse de récurrence}$$

et on a dès lors $\displaystyle\sum_{k=1}^{N+1} k^2 = \frac{5N^2 - 7N + 4 + 2(N^2 + 2N + 1)}{2} = \frac{7N^2 - 3N + 6}{2}$.

Et le 2nd membre vaut $\dfrac{5(N^2 + 2N + 1) - 7N - 7 + 4}{2} = \dfrac{5N^2 + 3N + 9}{2}$.

La propriété n'est donc pas héréditaire. En fait, elle est valable pour $n = 1, 2$ et 3 et fausse pour des valeurs supérieures à 3.

2. Envisageons l'assertion : $7^n + 1$ est un multiple de 6.

   Démontrons que la propriété est héréditaire.

   Hypothèse de récurrence : $7^N + 1 = 6k$ où k est entier.

   Thèse : $7^{(N+1)} + 1$ est un multiple de 6.

   Dém : $7^{(N+1)} + 1 = 7 \cdot 7^N + 1 = 7(6k - 1) + 1 = 42k - 6 = 6(7k - 1)$ est un multiple de 6 car $7k - 1$ est un entier.

   Mais cela ne signifie pas que la propriété est vraie. En effet, pour $n = 1$, l'égalité $7^n + 1 = 8$ n'est pas vraie. Il en est de même pour $n = 2, 3, ..., 30$ (à vérifier avec un tableur par exemple !).

   Si on arrive à déterminer un entier n_o pour lequel la propriété est vraie, alors la propriété sera vraie pour tout $n \geq n_o$!

2.4 Exercices

Plusieurs propriétés données ci-dessous peuvent aussi se démontrer sans raisonnement par récurrence.

1. Démontrer que $4^n + 2$ est un multiple de 3 pour tout naturel n.
2. Démontrer que $n^2 + n + 2$ est pair si n est un naturel (3 méthodes).
3. Démontrer que $12^n - 5^n$ est multiple de 7, $\forall n \geq 1, n \in \mathbb{N}$.
4. Démontrer que $9^n - 1$ est multiple de 8, $\forall n \geq 1, n \in \mathbb{N}$.
5. Démontrer que $5^n \geq 1 + 4n, \forall n \geq 0, n \in \mathbb{N}$.
6. Démontrer que $2^n \geq n^2$ pour tout naturel $n \geq 4$.
7. Démontrer que pour tout naturel n, on a $(1 + x)^n \geq 1 + nx$ si $x \geq -1$.

8. Démontrer que la somme des carrés de n premiers naturels (S_2) vaut $\dfrac{n(n+1)(2n+1)}{6}$.

9. Démontrer que la somme des cubes des n premiers naturels (S_3) vaut le carré de la somme des n premiers naturels :

$$\sum_{k=1}^{n} k^3 = \left(\sum_{k=1}^{n} k\right)^2 = \frac{n^2(n+1)^2}{4}.$$

10. Démontrer que la somme des n premiers nombres impairs est égale à n^2.

11. Démontrer que $\displaystyle\sum_{i=1}^{n} i(i+1) = \frac{n(n+1)(n+2)}{3}, \forall n \geq 1, n \in \mathbb{N}$.

12. Démontrer que $\displaystyle\sum_{i=1}^{n} i(i+1)(i+2) = \frac{n(n+1)(n+2)(n+3)}{4}, \forall n \geq 1, n \in \mathbb{N}$.

13. Démontrer que $\displaystyle\sum_{k=1}^{n} \frac{k}{2^k} = 2 - \frac{n+2}{2^n}, \forall n \geq 1, n \in \mathbb{N}$.

14. Démontrer que $\dfrac{1}{2^2-1} + \dfrac{1}{4^2-1} + \ldots + \dfrac{1}{(2n)^2-1} = \dfrac{n}{2n+1}, \forall n \geq 1, n \in \mathbb{N}$.
Écrire l'égalité à l'aide d'un signe sommatoire.

15. Démontrer que $1 - \dfrac{1}{2} + \dfrac{1}{3} - \dfrac{1}{4} + \cdots - \dfrac{1}{n} = 2\left(\dfrac{1}{n+2} + \dfrac{1}{n+4} + \ldots + \dfrac{1}{2n}\right)$ si n est pair.
Écrire l'égalité à l'aide d'un signe sommatoire.

16. Démontrer la formule de dérivation

$$(x^m)' = m\, x^{m-1}$$

où m est un entier positif.

Utiliser la dérivée d'une constante et la dérivée du produit de deux facteurs.

17. Rechercher la dérivée n^{e} de la fonction $\cos x$. Démontrer la formule.

18. Démontrer par récurrence la formule donnant la valeur acquise C_n par un capital C_o placé pendant n années lorsqu'il y a capitalisation annuelle des intérêts : $C_n = C_o(1+t)^n$ où t est le taux annuel.

Chapitre 3

Valeur absolue

3.1 Définition

La valeur absolue d'un nombre réel x est le nombre positif, noté $|x|$ défini par

$$|x| = \begin{cases} x & \text{si} \quad x \geq 0 \\ -x & \text{si} \quad x < 0 \end{cases} .$$

3.2 Propriétés immédiates

On peut aisément démontrer les propriétés suivantes :

1. La valeur absolue d'un nombre est nulle ssi ce nombre est nul.

$$\forall a \in \mathbb{R}, |a| = 0 \Leftrightarrow a = 0$$

2. Un réel et sa valeur absolue ont le même carré.

$$\forall a \in \mathbb{R}, a^2 = |a|^2$$

3. Un réel est inférieur ou égal à sa valeur absolue.

$$\forall a \in \mathbb{R}, a \leq |a|$$

4. Deux réels opposés ont la même valeur absolue.

$$\forall a \in \mathbb{R}, |a| = |-a|$$

5. La racine carrée du carré d'un réel est égal à la valeur absolue de ce réel.

$$\forall a \in \mathbb{R}, |a| = \sqrt{a^2}$$

3.3 Propriétés algébriques

Les valeurs absolues jouissent des propriétés suivantes (règles de calcul)

1. La valeur absolue du produit de deux réels est égale au produit des valeurs absolues des réels
$$\forall a, b \in \mathbb{R}, |ab| = |a||b|.$$
2. La valeur absolue de la n^{eme} puissance d'un réel égale à la n^{eme} puissance de la valeur absolue de ce réel
$$\forall a \in \mathbb{R}, n \in \mathbb{N}, |a^n| = |a|^n.$$
3. La valeur absolue de l'inverse d'un réel non nul est égale à l'inverse de la valeur absolue de ce réel
$$\forall a \in \mathbb{R}_0, \left|\frac{1}{a}\right| = \frac{1}{|a|}.$$
4. La valeur absolue du quotient produit de deux réels non nuls est égale au quotient des valeurs absolues des réels
$$\forall a, b \in \mathbb{R}_0, \left|\frac{a}{b}\right| = \frac{|a|}{|b|}.$$
5. Inégalité de Minkowski.

   La valeur absolue de la somme de deux réels est inférieure ou égale à la somme des valeurs absolues des réels
$$\forall a, b \in \mathbb{R}, |a + b| \leq |a| + |b|.$$
   L'égalité ne se produisant que si a et b sont de même signe.
6. La valeur absolue de la différence des valeurs absolues de deux réels est inférieure ou égale à la valeur absolue de la différence de ces réels
$$\forall a, b \in \mathbb{R}, ||a| - |b|| \leq |a - b|.$$

3.4 Egalités et inégalités

- Deux réels ont la même valeur absolue

  ssi ils sont égaux ou opposés

  ssi leurs carrés sont égaux
$$\forall a, b \in \mathbb{R}, |a| = |b| \Leftrightarrow a = b \text{ ou } a = -b \Leftrightarrow a^2 = b^2.$$

- Les carrés de deux réels vérifient une inégalité ssi les valeurs absolues de ces réels vérifient la même inégalité

$$\forall a, b \in \mathbb{R}, |a| \leq |b| \Leftrightarrow a^2 \leq b^2.$$

3.5 Exercices

1. Si deux réels ont la même valeur absolue, que peut-on dire de ces réels ? Exprimer la réponse à cette question en français et en symboles mathématiques.
2. Que peut-on dire de l'équation $||x| - |x^2|| + 2 = 0$? Pourquoi ?
3. (a) Si x est un réel et n un naturel non nul, que peut-on dire du signe de x^{2n} ? de x^{2n+1} ?

   (b) En tenant compte de ces renseignements, que vaut $|x^{2n}|$? et $|x^{2n+1}|$?
4. Si r est un réel strictement négatif, que vaut $|r - 1|$?
5. Si $x \in [-3, 2]$, que vaut $|x + 3| + |x - 2|$?
6. Si x et y sont des réels, montrer que $|x| + |y| \leq |x + y| + |x - y|$ (suggestion : $2A = (A + B) + (A - B)$).
7. Répondre par vrai ou faux et justifier.

   (a) $|(-5)^2| = -25$.

   (b) $|5 - 7| = |5| - |7| = -2$.

   (c) $|(-7)(-5)| = |-7||-5| = 35$.

   (d) Si $a > 0$ et $b < 0$, $|ab| = ab$.

   (e) Pour tout x appartenant à $\mathbb{R}, |-x| = x$.

Chapitre 4

Équations et Inéquations

4.1 Définitions

Une *équation* est une égalité qui n'est vraie que pour certaines valeurs de l'inconnue (généralement x).
Résoudre une équation, c'est trouver (toutes) les valeurs de l'inconnue qui vérifient l'égalité.
Une équation est dite de *degré* n lorsqu'elle peut s'écrire sous la forme $P(x) = 0$ où $P(x)$ est un polynôme de degré n, càd peut s'écrire sous la forme

$$P(x) = \sum_{i=0}^{n} a_i x^i$$

avec $a_n \neq 0$.

Une *inéquation* est une inégalité qui n'est vraie que pour certaines valeurs de l'inconnue (généralement x).
Résoudre une inéquation, c'est trouver (toutes) les valeurs de l'inconnue qui vérifient l'inégalité.
Une inéquation est dite de *degré* n lorsqu'elle peut s'écrire sous la forme $P(x) > 0$ ou $P(x) \geq 0$ ou $P(x) < 0$ ou $P(x) \leq 0$ où $P(x)$ est un polynôme de degré n.

4.2 Principes d'équivalence pour les équations

Pour résoudre une équation, on la simplifie en équations équivalentes jusqu'à obtenir la solution.
Deux équations sont *équivalentes* si elles ont le même ensemble de solutions. A chaque étape

de calcul, on note l'équivalence à l'aide du signe $\ll \Leftrightarrow \gg$ On utilise les *principes d'équivalence* suivants :

1. On obtient une équation équivalente (à une équation donnée) en ajoutant ou soustrayant une même quantité aux deux membres d'une équation

   Exemple :

   $$x + 3 = 0 \Leftrightarrow x + 3 - 3 = 0 - 3 \Leftrightarrow x = -3$$

   Ce principe d'équivalence est aussi parfois énoncé "Lorsqu'un terme change de membre, il change de signe"

2. On obtient une équation équivalente (à une équation donnée) en multipliant ou divisant les deux membres d'une équation par une même quantité non nulle

   Exemple :

   $$2x = 7 \Leftrightarrow x = \frac{7}{2}$$

3. un produit est nul si et seulement si un des facteurs est nul (principe de disjonction).

   Exemple :

   $$2x(x + 3) = 0 \Leftrightarrow 2x = 0 \text{ ou } x + 3 = 0 \Leftrightarrow x = 0 \text{ ou } x = -3$$

Remarques

— Ces principes sont applicables à toutes les équations. Les deux premiers suffisent pour résoudre toutes les équations du premier degré.

— Il est faux d'écrire

$$2x(x + 3) = 0 \Leftrightarrow \begin{cases} \text{2x=0} \\ \text{x+3=0} \end{cases}$$

car l'accolade est un signe utilisé pour signifier "et" et pas "ou".

4.3 Equations du second degré

Si l'équation est du second degré ou peut se ramener à une telle équation, càd est équivalente à

$$ax^2 + bx + c = 0,$$

on peut aussi la résoudre à l'aide du réalisant (Δ ou ρ).

On calcule $\Delta = b^2 - 4ac$.

— Si $\Delta > 0$, l'équation admet deux solutions distinctes : $x_1 = \dfrac{-b+\sqrt{\Delta}}{2a}$ et $x_2 = \dfrac{-b+\sqrt{\Delta}}{2a}$

— Si $\Delta = 0$, l'équation admet une solution double : $x_1 = x_2 = \dfrac{-b}{2a}$

— Si $\Delta < 0$, l'équation n'admet pas de solution réelle. On verra dans le chapitre des nombres complexes que cette équation admet alors deux solutions complexes.

4.4 Equations du n^{eme} degré

Pour les équations d'un degré supérieur ou égal à 2 ou pouvant se ramener à une équation de ce type, on cherche mettre l'équation sous la forme

$$P(x) = 0,$$

où $P(x)$ est un polynôme de degré n, puis à factoriser le polynôme.

Pour factoriser, on utilise, par ordre de préférence, une des méthodes suivantes :

— la mise en évidence

— les produits remarquables à savoir

* $(a^2 - b^2) = (a-b)(a+b)$
* $a^2 + 2ab + b^2 = (a+b)^2$
* $a^2 - 2ab + b^2 = (a-b)^2$
* $a^3 \pm 3a^2b + 3ab^2 \pm b^3 = (a \pm b)^3$
* $a^3 \pm b^3 = (a \pm b)(a^2 \mp ab + b^2)$

— les groupements

— la grille de Horner

Une fois le polynôme factorisé, on applique le principe de disjonction (ou du produit nul).

4.5 Principes d'équivalence pour les inéquations

Pour résoudre une inéquation, on la simplifie en inéquations équivalentes jusqu'à obtenir la solution.

Deux inéquations sont *équivalentes* si elles ont le même ensemble de solutions. A chaque

étape de calcul, on note l'équivalence à l'aide du signe $\ll \Leftrightarrow \gg$. On utilise les *principes d'équivalence* suivants :

1. On obtient une inéquation équivalente (à une inéquation donnée) en ajoutant ou soustrayant une même quantité aux deux membres d'une inéquation

   Exemple :

   $$x + 3 > 0 \Leftrightarrow x + 3 - 3 > 0 - 3 \Leftrightarrow x > -3$$

   Ce principe d'équivalence est aussi parfois énoncé "Lorsqu'un terme change de membre, il change de signe".

2. On obtient une inéquation équivalente (à une inéquation donnée) de même sens en multipliant ou divisant les deux membres d'une inéquation par une même quantité strictement positive

   Exemple :

   $$2x < 7 \Leftrightarrow x < \frac{7}{2}$$

3. On obtient une inéquation équivalente (à une inéquation donnée) de sens opposé en multipliant ou divisant les deux membres d'une inéquation par une même quantité strictement négative

   Exemple :

   $$-2x < 7 \Leftrightarrow x > -\frac{7}{2}$$

Remarques

— Ces principes sont applicables à toutes les équations. Les deux premiers suffisent pour résoudre toutes les équations du premier degré.

— Il est faux d'écrire

$$2x(x+3) > 0 \Leftrightarrow \begin{cases} 2x > 0 \\ x + 3 > 0 \end{cases}$$

car un produit est positif si et seulement si le nombre de facteurs négatifs est pair.

Dans le cas-ci-dessus, le produit serait aussi strictement positif si les deux facteurs étaient négatifs.

La résolution d'une inéquation de degré supérieur à 1 se fait généralement en écrivant l'inéquation sous la forme $P(x) > 0$ puis en factorisant le polynôme en facteurs du 1er ou 2nd degré et en dressant un tableau de signes.

4.6 Inéquations du premier et du second degré

4.6.1 Signe d'une expression du premier degré

Une expression du type $a+b$ a toujours le signe du coefficient du terme du premier degré (a) à droite du zéro ($-\frac{b}{a}$) et le signe opposé à gauche. On rassemble ces renseignements dans le tableau suivant :

x		$-\frac{b}{a}$	
$ax+b$	Signe opposé à a	0	Signe de a

4.6.2 Signe d'une expression du second degré

Une expression du type ax^2+bx+c a toujours le signe du coefficient du terme du second degré (a) sauf entre les éventuels zéros du trinôme.
Si $\Delta > 0$ et si les zéros du trinôme sont respectivement x_1 et x_2 supposés tels que $x_1 < x_2$, on rassemble ces renseignements dans le tableau suivant :

x		x_1		x_2	
ax^2+bx+c	Signe de a	0	Signe opposé à a	0	Signe de a

4.7 Equations et inéquations fractionnaires

Une (in)équation fractionnaire est une (in)équation dans laquelle l'inconnue figure au dénominateur. Dans ce cas, des conditions d'existence doivent être annoncées pour exiger que chaque dénominateur contenant l'inconnue soit non nul.

Pour résoudre une équation fractionnaire, la méthode générale est de réduire tous les termes au même dénominateur, puis de chasser ce dénominateur commun : cela revient à multiplier les deux membres de l'équation par un même nombre non nul ou considérer qu'une fraction est nulle ssi son numérateur est nul.

Pour résoudre une inéquation fractionnaire, la méthode générale est de transférer tous les termes dans un membre puis de factoriser le membre non nul en produit et quotient de facteurs du 1er ou 2nd degré. On utilise alors un tableau de signes pour étudier le signe de ce membre.

Remarque

Généralement, il est vivement déconseillé de chasser le dénominateur commun dans une inéquation irrationnelle car on ne connaît (généralement) pas le signe de ce dénominateur. Exemple :

$$x > \frac{1}{x} \Leftrightarrow x^2 > 1$$

est faux. Cela revient à multiplier les deux membres par x dont on ne connaît pas le signe.

4.8 Equations et inéquations irrationnelles

4.8.1 Principes d'équivalence

Une équation irrationnelle est une équation dans laquelle l'inconnue figure sous un radical. Si l'indice de la racine est pair (généralement une racine carrée), des conditions d'existence doivent être annoncées (le radicand doit être positif).
Si l'indice de la racine est impair, les seules conditions d'existence sont celles des radicands. Pour résoudre une inéquation irrationnelle, on utilise le principe d'équivalence suivant :

Si a et b sont strictement positifs, alors $a^2 = b^2 \Leftrightarrow a = b$.

4.8.2 Equation exemple

Soit l'équation

$$\sqrt{3x+1} = 1 - x.$$

La condition d'existence est

$$3x + 1 \geq 0 \Leftrightarrow x \geq -\frac{1}{3}$$

- Si $1 - x < 0$ càd si $x > 1$, alors le premier membre est positif et le second négatif. L'équation est impossible.
- Si $1 - x \geq 0$ càd si $x \leq 1$, alors les deux membres sont positifs. L'équation est équivalente à $3x + 1 = (1-x)^2 \Leftrightarrow 5x - x^2 = 0 \Leftrightarrow x = 0$ ou $\underbrace{x = 5}_{\text{à rejeter}}$

Remarques

— Isoler autant que possible le terme contenant la racine carrée dans un membre avant l'élévation au carré. Si ce n'est pas possible (par exemple, deux termes contenant chacun une racine carrée), une deuxième élévation des deux membres au carré est nécessaire.

— La condition $1 - x \geq 0$ est souvent improprement appelée "condition d'élévation au carré". Improprement car on a toujours $a = b \Rightarrow a^2 = b^2$. Par contre $a^2 = b^2 \Rightarrow a = b$ est faux si a et b ne sont pas de même signe.

4.8.3 Inéquation exemple

Ex : Soit l'inéquation

$$\sqrt{x+1} > x - 1.$$

La condition d'existence est

$$x + 1 \geq 0 \Leftrightarrow x \geq -1.$$

Le 1er membre est alors toujours positif.

— Si $x - 1 < 0$, càd si $x < 1$, alors le premier membre est positif et le deuxième négatif. L'inéquation est toujours vérifiée.
  Un premier morceau de l'ensemble des solutions est $[-1, 1[$.

— Si $x - 1 \geq 0$, càd si $x \geq 1$, alors les deux membres sont de même signe.
  L'inéquation est équivalente à

$$x + 1 > (x - 1)^2 \Leftrightarrow x^2 - 3x < 0 \Leftrightarrow 0 < x < 3.$$

  Un deuxième morceau de l'ensemble des solutions est $[1, 3]$. On en déduit que l'ensemble des solutions est $S = [-1, 3]$.

Remarque

Si le sens de l'inégalité avait été opposé à celui de l'exemple, aucune valeur de l'inconnue $x < 1$ n'aurait étré solution.

4.9 Equations et inéquations contenant des valeurs absolues

4.9.1 Principes d'équivalence

Au vu des propriétés des valeurs absolues (voir chapitre adéquat), on a les principes d'équivalence suivants :

- Si $a \geq 0$, on a
  - ⋆ $|x| = a \Leftrightarrow x = a$ ou $x = -a$
  - ⋆ $|x| \leq a \Leftrightarrow -a \leq x \leq a$
  - ⋆ $|x| \geq a \Leftrightarrow x \leq -a$ ou $x \geq a$
- Si $a < 0$, on a
  - ⋆ $|x| = a$ est une équation impossible. S $= \emptyset$
  - ⋆ $|x| \leq a$ est une équation impossible. S $= \emptyset$
  - ⋆ $|x| \geq a$ est une équation toujours vérifiée. S $= \mathbb{R}$ (s'il n'y a pas de CE).

Remarque

ces principes d'équivalences sont immédiats à comprendre si on a en tête le graphique de la fonction $|x|$.

4.10 Exercices

4.10.1 Inéquations

1. Résoudre, dans les nombres réels, l'inéquation suivante
$$\left(x - \frac{2}{x}\right)^6 \leq 1.$$
2. Résoudre, dans les nombres réels, l'inéquation suivante
$$|2 - 2x| < |x^2 - 1|.$$
3. Résoudre, dans les nombres réels, l'inéquation suivante
$$\frac{2x^2 - x - 3}{3x^2 - 2x - 5} \leq 5.$$

4. Résoudre l'inéquation
$$\left(\frac{3-2x}{x-1}\right)^2 \leq \left(\frac{6-5x}{x+2}\right)^2.$$

5. Résoudre l'inéquation
$$\frac{1}{1-x} < \frac{1}{|1+x|}.$$

6. Résoudre l'inéquation
$$\frac{1}{x^2-4x+3} \leq \frac{2}{x^2-4x+4}.$$

4.10.2 Inéquations irrationnelles

1. Résoudre l'inéquation
$$\frac{\sqrt{-x^3+3x+2}}{\sqrt{x^2-7x+10}} \leq \frac{\sqrt{x^2+x}}{\sqrt{x^2-x}}.$$

2. Résoudre et discuter l'inéquation
$$\sqrt{\frac{x+m}{m^2}} \leq 1 - \frac{\sqrt{x}}{m},$$
où m est un paramètre réel.

3. Résoudre l'inéquation
$$\frac{1}{x+\sqrt{1-x^2}} \leq x.$$

4. Résoudre l'inéquation
$$\frac{1}{x(x-1)} \leq \frac{1}{\sqrt{x(x+9)}} \quad (x \in \mathbb{R}).$$

5. Résoudre l'inéquation
$$\frac{x-2}{\sqrt{x^2-5x+6}} \leq \frac{\sqrt{x^2-3x+2}}{x-4}.$$

6. Résoudre l'inéquation
$$\frac{\sqrt{x^3(x-1)}}{x} \leq \frac{3}{8}.$$

7. Résoudre l'inéquation
$$\frac{\sqrt{x^3-2x^2+x}}{2-x} \leq \frac{1}{\sqrt{x}}.$$

8. Résoudre l'inéquation
$$\frac{1}{x} \leq \frac{1}{\sqrt{2-x}}.$$

9. Résoudre l'inéquation
$$\sqrt{\frac{6x-11}{3x-2}} \leq \frac{1}{x} \qquad (x \in \mathbb{R}).$$

10. Résoudre l'inéquation
$$\sqrt{\frac{x}{x^2-1}} \leq \frac{1}{\sqrt{1-x}} \qquad (x \in \mathbb{R}).$$

11. Résoudre l'inéquation
$$\frac{1}{x(x-1)} \leq \frac{1}{\sqrt{x(x+9)}} \qquad (x \in \mathbb{R}).$$

12. Résoudre l'inéquation
$$\frac{1}{x(x-1)} \leq \frac{1}{\sqrt{x(x+9)}} \qquad (x \in \mathbb{R}).$$

13. Résoudre l'inéquation
$$\frac{3}{x-1} \leq \sqrt{x+3} \qquad (x \in \mathbb{R}).$$

14. Résoudre l'inéquation suivante dans $\mathbb{R}$:
$$\frac{x-2}{x+2} \geq -2 + \sqrt{-x}.$$

15. Résoudre l'inéquation
$$\frac{x+\sqrt{3x+10}}{x-\sqrt{3x+10}} \leq \frac{x+1}{x-1}\,.$$

16. Dans $\mathbb{R}$, résoudre l'inéquation :
$$\frac{1}{1+\sqrt{|x-1|}} < x\,.$$

17. Résoudre l'inéquation
$$1-\sqrt{\frac{3-x}{x}} \leq \frac{2}{x-1}\,.$$

4.10.3 Inéquations paramétriques

1. (09/10) Résoudre dans $\mathbb{R}\backslash\{a, -a-1\}$ l'inéquation paramétrique
$$\frac{x}{x-a} + \frac{x+1}{x+a+1} \geq 0$$
où $a \in [0, +\infty]$

Chapitre 5

Discussion d'équations paramétriques du second degré

5.1 Somme et produit des solutions d'une équation du second degré

5.1.1 Propriété

Soit l'équation $ax^2 + bx + c = 0$ où $a \neq 0$.

Si $\Delta \geq 0$, l'équation admet deux solutions (peut-être confondues) notées x_1 et x_2. On a alors

$$x_1 + x_2 = \frac{b}{a}$$

et

$$x_1 \cdot x_2 = \frac{c}{a}$$

.

5.1.2 Conséquences

Ces propriétés ne sont pas difficiles à démontrer.

Elles ont des conséquences énormes : lorsque $\Delta > 0$,

- si $\frac{c}{a} > 0$, alors x_1 et x_2 sont de même signe
- si $\frac{c}{a} < 0$, alors x_1 et x_2 sont de signes opposés

- si $\frac{c}{a} = 0$, alors x_1 ou x_2 est nulle.

De plus,

Remarque

Certaines de ces combinaisons ne sont pas compatibles entre elles. Ainsi, par exemple,

- $\Delta > 0$ et $\frac{c}{a} < 0$,
- $\Delta > 0$, $\frac{c}{a} > 0$ et $-\frac{b}{a} = 0$
- $\cdots$

Si on obtient de tels cas de figure, c'est qu'une erreur a été commise.

5.2 Discussion d'équation paramétrique du second degré

5.2.1 Théorie

Une équation paramétrique est une équation dont les coefficients n'ont pas une valeur numérique fixée. Ils dépendent d'une (ou plusieurs) grandeur, appelée(s) paramètre(s) (souvent notée m).

Discuter une équation paramétrique, c'est faire l'étude quantitative et qualitative des solutions càd pouvoir déterminer le nombre de solutions de l'équations ainsi que leurs propriétés. Dans le cas d'une équation du second degré, cette discussion se fait très aisément en étudiant 3 grandeurs : Δ, $\frac{c}{a}$ et $-\frac{b}{a}$. et en utilisant les propriétés ci-dessus.

5.2.2 Exemple

Discussion d'équation du second degré

Discuter l'équation

$$ax^2 + (a+1)x + 1 = 0$$

Pour quelles valeurs du paramètre a réel a-t-on

$$ax^2 + (a+1)x + 1 \geq 0, \forall x \geq 0\,?$$

Réponse

$\Delta = (a+1)^2 - 4a(-1) = a^2 - 2a + 1 = (a-1)^2$. Donc $\Delta = 0 \Leftrightarrow a = 1$.

$\frac{c}{a} = \frac{1}{a}$. Donc $\frac{c}{a} \neq 0$ et admet $a = 0$ comme pôle.
$-\frac{b}{a} = -\frac{a+1}{a}$. Donc $-\frac{b}{a} = 0 \Leftrightarrow a = -1$ et admet $a = 0$ comme pôle.

a	Δ	$\frac{c}{a}$	$-\frac{b}{a}$	Conclusions	Représentation
	$+$	-	-	2 zéros de signes distincts, le négatif a la plus grande valeur absolue	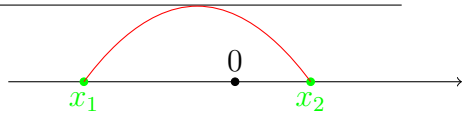
-1	$+$	-	0	2 zéros opposés	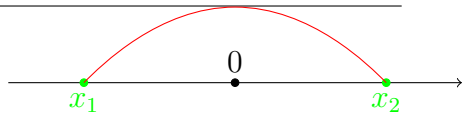
	$+$	-	$+$	deux zéros de signes contraires, le positif a la plus grande valeurs absolue	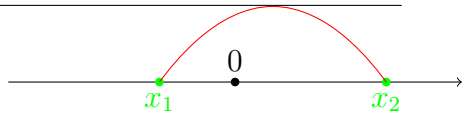
0	$+$	$\nexists$	$\nexists$	le trinôme devient $x+1$. Si $x \geq 0$, on a $x+1 \geq 0$. La valeur $m = 0$ convient.	
	$+$	$+$	-	2 zéros distincts négatifs	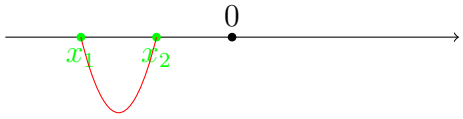
1	0	$+$	-	1 zéro double négatif	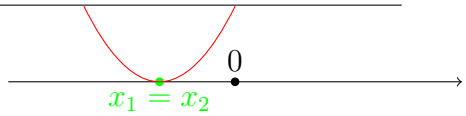
	$+$	$+$	-	2 zéros distincts négatifs	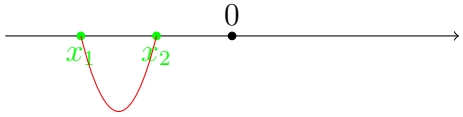

Les valeurs de a qui conviennent sont donc $[0, +\infty[$.

Remarques

1. la dernière colonne de ce tableau (représentation) n'est pas obligatoire. Elle permet simplement de visualiser la fonction du second degré et donc de mieux répondre aux questions relatives au signe du trinôme

2. Le nom du paramètre a peut prêter à confusion avec le nom habituellement donné au coefficient de x^2 dans le trinôme $ax^2 + bx + c$. Il se fait que, dans cet exemple, il sont identiques. mais il s'agit évidemment d'un cas particulier.

5.3 Position d'un nombre α par rapport aux solutions d'une équation du 2nd degré

5.3.1 Théorie

Soit l'équation $ax^2 + bx + c = 0$ dont le $\Delta > 0$ et x_1, x_2 les solutions telles que $x_1 < x_2$.
Désignons par $f(x) = ax^2 + bx + c$ et α un nombre réel.
On a

α		x_1		x_2	
$f(\alpha)$	Signe de a	0	Signe opposé à a	0	Signe de a
a	Signe de a	Signe de a	Signe de a	Signe de a	Signe de a
$a \cdot f(\alpha)$	$+$	0	$-$	0	$+$

Conclusion :

— si $a \cdot f(\alpha) < 0$, alors $\alpha \in]x_1, x_2[$

— si $a \cdot f(\alpha) > 0$, alors $\alpha \in]-\infty, x_1[$ ou $\alpha \in]x_2, +\infty[$

5.3.2 Exemple

Pour quelles valeurs du paramètre a réel a-t-on

$$ax^2 + (a+1)x + 1 \geq 0, \forall x \in [0,1]\,?$$

Si le trinôme est positif $\forall x \geq 0$, il est certainement positif sur [0,1]. Toutes les valeurs de m satisfaisant au premier point satisfont donc aussi à cette nouvelle condition.
Il est possible que d'autres valeurs de m vérifient cette condition. Pour cela, on doit déterminer la position de 1 par rapport aux racines du trinôme. On a

$$a \cdot f(1) = a \cdot (a + (a+1) + 1) = 2a \cdot (a+1).$$

Or $a \cdot f(1) < 0 \Leftrightarrow -1 < a < 0$.
Le nombre 1 est donc compris entre les zéros du trinôme ssi $-1 < a < 0$.

Si $a = -1$, un des zéros est égal à 1.

Si $a = 0$, le trinôme devient une fonction du 1er degré qui s'annule en $x = 1$.

a	Δ	$\frac{c}{a}$	$-\frac{b}{a}$	$a \cdot f(1)$	Conclusions	Représentation
	$+$	-	-	$+$	2 zéros de signes distincts, le négatif a la plus grande valeur absolue ; 1 est extérieur aux zéros	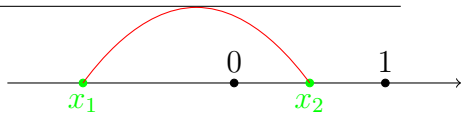
-1	$+$	-	0	0	2 zéros opposés, 1 est un des zéros	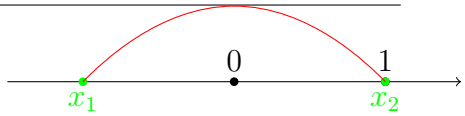
	$+$	-	$+$	-	deux zéros de signes contraires, le positif a la plus grande valeurs absolue, 1 est compris entre les zéros.	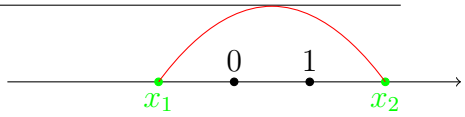

Les valeurs de m qui conviennent sont donc $[-1, +\infty[$.

5.4 Exercices

1. Déterminer les valeurs réelles de m pour lesquelles le trinôme $x^2 + mx - m$ n'a pas de racine strictement négative.

2. Déterminer tous les α réels pour lesquels

$$\alpha x^2 + \alpha x + 1 \geq 0, \quad \forall x \in [-1, 1].$$

3. Déterminer tous les α réels pour lesquels

$$\alpha x^2 - x + \alpha \geq 0, \ \forall\, x > 0.$$

4. Donner, pour chaque valeur de $m \in \mathbb{R}$, le nombre de racines du trinôme

$$x^2 + 2m\,x + 7m - 10$$

strictement supérieures à 1. *Suggestion* : il peut être utile de poser $x = y + 1$.

5. Donner le nombre de solutions strictement positives de l'équation

$$(m^2 - 1)x^2 + 2mx - \sqrt{2}\;\; m = 0$$

où m est un paramètre réel.

6. Pour quelles valeurs réelles de m le trinôme $x^2 + mx + m$ est-il strictement positif dans l'intervalle $[0, 1]$? *Suggestion* : discuter la position de 0 et de 1 par rapport aux racines du trinôme, quand il y en a.

7. Déterminer le nombre de racines réelles *distinctes* de

$$x^4 - mx^2 + m$$

($m \in \mathbb{R}$).

8. Déterminer les valeurs réelles de m pour lesquelles le trinôme

$$mx^2 + mx + (1 + m)$$

possède deux racines réelles de même signe.

9. Pour quelles valeurs rélles de m le trinôme

$$mx^2 + 2mx + 1$$

possède-t-il deux racines distinctes dans l'intervalle $]-2, 0[$?

10. Déterminer l'ensemble des valeurs (réelles) de a pour lesquelles l'énoncé :

"Pour tout réel x tel que $|x| < 1/2$, on a $ax^2 + (a + 1)x + 1 \geq 0$."

est vrai.

11. Pour quels $a \in \mathbb{R}$ a-t-on

$$0 \leq x \leq 1 \text{ alors } ax^2 + (a + 1)x - 1 \leq 0\ ?$$

12. Déterminer l'ensemble des valeurs (réelles) de m pour lesquelles l'énoncé

$$\text{“Pour tout réel } x\text{, on a } mx^2 - (m+1)^2x + 2(m+1) \leq 0.\text{”}$$

est vrai.

13. Déterminer les valeurs du paramètre réel m pour lesquelles l'inéquation suivante est vérifiée pour tout x réel

$$\left|\frac{x^2 - mx + 1}{x^2 + x + 1}\right| < 3.$$

Chapitre 6

SUITES ARITHMETIQUES ET GEOMETRIQUES

6.1 Suites numériques

6.1.1 Définition

Une *suite numérique* (u_n) est une liste ordonnée de réels.
Les éléments de la liste sont appelés *termes* et sont numérotés à partir de 1 ou 0 ; ils sont notés $(u_o,)$ u_1, u_2,..., u_n,...
u_n est appelé *terme général* de la suite.

6.1.2 Détermination

- Une suite peut être déterminée par son terme général, c'est à dire par une relation qui unit la valeur de chaque terme u_n à son numéro n.
- Une suite peut aussi être déterminée par le premier terme de la suite et par une relation qui lie un terme et son prédécesseur. On dit que la suite est définie par *récurrence*.

Exemple

Considérons la suite $1, 3, 5, \ldots$ On a $u_1 = 1$, $u_2 = 3$, $\ldots$
Le terme général est $u_n = 2n - 1$.
La formule de récurrence est : $u_1 = 1$, $u_n = u_{n-1} + 2$.

6.2 Suites arithmétiques

6.2.1 Définitions

Une *suite arithmétique* est une suite numérique telle que

- chaque terme (à partir du deuxième) est égal au précédent augmenté du même nombre r qui est appelé *raison* :

  $$u_n = u_{n-1} + r, \text{ pour tout entier } n > 1 \text{ (ou 2)}.$$

  ou encore

- la différence entre deux termes consécutifs est une constante r qui est appelée *raison* :

  $$u_n - u_{n-1} = r, \text{ pour tout entier } n > 1 \text{ (ou 2)}.$$

  Les deux formulations étant équivalentes.

6.2.2 Propriétés

- Le terme général d'une suite arithmétique de premier terme u_1 et de raison r est donné par :

  $$u_n = u_1 + (n-1)r, n > 1.$$

- La somme des n premiers termes d'une suite arithmétique est

  $$S_n = u_1 + \ldots + u_n = \sum_{i=1}^{n} u_i = n\frac{u_1 + u_n}{2}, n \geq 1.$$

- Une suite est arithmétique ssi chaque terme est la moyenne arithmétique du terme qui le précède et du terme qui le suit.

6.3 Suites géométriques

6.3.1 Définition

Une *suite géométrique* est une suite numérique telle que

- chaque terme est égal au précédent multiplié par le même nombre q appelé raison :

  $$u_n = u_{n-1} \cdot q, \forall n \in \mathbb{N}, n \geq 1 \text{ (ou 2) }.$$

  Ou encore

- le quotient de deux termes consécutifs est une constante q qui est appelée *raison*

$$\frac{u_n}{u_{n-1}} = q, \forall n > 1.$$

Les deux formulations étant équivalentes si aucun terme de la suite n'est nul.

6.3.2 Propriétés

- Le terme général d'une suite géométrique de premier terme u_1 de raison q est donné par $u_n = u_1 \cdot q^{n-1}$ ou $u_n = u_0 \cdot q^n$,$\forall n \geq 1$.
- La somme des n premiers termes d'une suite géométrique de raison $q \neq 1$ est

$$S_n = u_1 + \cdots + u_n = \sum_{i=1}^{n} u_i = u_1 \frac{1-q^n}{1-q}, \forall n \in \mathbb{N}, n \geq 1.$$

- Une suite positive est géométrique ssi chaque terme est la moyenne géométrique du terme qui le précède et du terme qui le suit.

6.4 Exercices

1. Calculer la somme des n premiers naturels non nuls.
2. Un ouvrier est embauché avec un salaire mensuel initial de 900 €(s_1). Chaque mois, son salaire est augmenté de 22,50 €. Caractériser la suite composée des salaires successifs. Calculer le salaire qu'il touchera le 30e mois ainsi que la somme totale perçue depuis son embauche.
3. En 1972, la population d'un pays était de 52,3 millions d'habitants. En 1991, elle n'est plus que de 48,5 millions. Si on suppose que la population se comporte comme une suite arithmétique, déterminer la diminution de population sur une année.
4. Sur le plat de fromage, il reste un demi camembert. Chaque fois que Pierre se sert, il prend la moitié de ce qui reste. A la 8e fois quelle portion se sert-il ? Que reste-t-il sur le plat ? Quelle portion total du camembert a-t-il mangée ?
5. Un capital de 5000 € est placé à du 8%. Calculer les sommes obtenues après 1, 2, 3,..., n années dans le cas où le placement est à intérêts simples et dans le cas où il y a capitalisation des intérêts. Caractériser les deux suites obtenues.

6. On raconte que l'inventeur de l'échiquier demanda, comme humble récompense, un grain de blé sur la 1ère case, deux sur la 2ème, quatre sur la 3ème et ainsi de suite en doublant à chaque case le nombre de grains jusqu'à la 64ème case de l'échiquier. Quel est le nombre de grains de blé correspondant à la 64ème case ? Calculer le nombre total de grains à donner à l'inventeur.
   Un grain de blé pèse 0,05g. La production mondiale de blé en 1995 est de 600 millions de tonnes. Cette production suffit-elle à payer l'inventeur ?

7. Monsieur Minver achète un ficus de 1 m de haut (hors pot). Chaque année son ficus grandit de 8%. Estimer le nombre d'années au bout desquelles il atteindra le plafond à 2,5 m du sol sachant que le pot a 25 cm de haut.

8. Une bande de voleurs ont tous un grade différent. Comme une nuit, ils ont volé un lot d'appareils photographiques, leur chef déclare : " Le moins gradé en prend un. Celui qui a le grade supérieur : 2 ; le suivant : 3 et ainsi de suite ". Mais les voleurs se révoltent contre l'injustice. " Nous en prendrons 5 chacun ", déclare le plus audacieux. Mais combien y a-t-il de voleurs ?

9. Une subvention de 76 800 € est débloquée pour rechercher une nappe souterraine dans le désert. Le coût du forage est ainsi fixé : le 1er mètre à 100 €, le mètre suivant à 140 €, $\cdots$; le coût augmentant de 40 € à chaque mètre creusé. Trouver la profondeur maximale que l'on peut atteindre avec le budget fixé.

10. En photographie, le diaphragme règle la dimension du trou d'entrée de la lumière dans l'objectif. Voici une suite d'indications relatives au diaphragme reprise sur la bague de l'appareil : ...2 ; 2.8 ; 4 ; 5.6 ; 8 ; 11 ; 16 ;... Caractériser la suite et la compléter en trouvant le 1er et le dernier terme.

11. A partir d'un carré de 10 cm de côté, on construit le carré dont les sommets sont les milieux des côtés du carré donné et ainsi de suite. Pour les 6 premiers carrés, calculer la longueur des côtés, le périmètre, l'aire. Calculer la somme des périmètres et la somme des aires.

12. Une suite arithmétique est telle que la somme des 100 premiers termes est égale à 20800 et la somme de ses 60 premiers termes est égale à 7680. Calculer le 50eme terme de cette suite.

13. Déterminer une suite arithmétique dont la somme des 10 premiers termes est égale à 355 et dont le 3eme terme est égal à 18
14. Une suite arithmétique est telle que son premier terme est strictement positif et égal à sa raison. Quel est le rang du terme égal à 100 fois le premier terme ?
15. La somme de 12 nombres impairs consécutifs vaut 264. Quels sont ces nombres ?
16. Déterminer le réel x pour que les trois réels $2x-1$, $x+2$ et $1-3x$ soient trois nombres consécutifs d'une suite arithmétique.
17. Un pèlerin part de Bruxelles et se rend à Saint Jacques de Compostelle au Nord de l'Espagne. En seize jours, il a parcouru 384 km. Chaque jour, il parcourt 2 km de plus que la veille.
    (a) Calculer le nombre de km parcourus après 24 jours.
    (b) Sachant que la distance totale est d'environ 1848 km, calculer le nombre de jours nécessaires pour accomplir le trajet
    (c) Quel est le nombre de km parcourus le jour précédent l'arrivée ?
18. Déterminer le 6eme terme d'une suite géométrique croissante dont le 3eme terme est égal à 80 et le 5eme vaut 1280.
19. La somme des trois premiers termes d'une suite géométrique est égale à 52. Déterminer cette suite sachant que le 3eme terme est égal à 9 fois le premier.
20. Déterminer le réel y pour que les trois réels 3, $y-1$ et $2y-1$ soient trois nombres consécutifs d'une suite géométrique
21. (u_n) est un suite géométrique de raison 3 telle que $u_n = 486$ et $S_n = 728$. Déterminer u_1 et n.

6.5 Convergence d'une suite

6.5.1 Définitions

Convergence vers un réel u

La suite (u_n) *converge vers le nombre réel* u si, quelque soit $\varepsilon > 0$, il existe un naturel M tel que $u - \varepsilon < u_n < u + \varepsilon$ ou encore $|u_n| < \varepsilon$ pour tout $n \geq M$.

Le nombre u est appelé *limite* de la suite (u_n). On note $u_n \Rightarrow u$ ou $\lim\limits_{n\to+\infty} u_n = u$.

Convergence vers l'infini

La suite (u_n) *tend vers* $+\infty$ si, quelque soit $N > 0$, il existe un naturel M tel que $u_n > N$ pour tout $n \geq M$. On note $u_n \Rightarrow +\infty$ ou $\lim\limits_{n\to+\infty} u_n = +\infty$.

Remarques

- La limite d'une suite est unique.
- Toutes les suites n'ont pas de limite.

  Exemple : La suite de terme général $u_n = (-1)^n$ n'a pas de limite.

6.5.2 Limite d'une suite géométrique

- Si (u_n) est une suite géométrique de raison q, alors (u_n) converge vers $\begin{cases} 0 \text{ si } |q| < 1 \\ u_1 \text{ si } q = 1 \\ +\infty \text{ si } q > 1 \text{ et } u_1 > 0 \\ -\infty \text{ si } q > 1 \text{ et } u_1 < 0 \end{cases}$
- Si (u_n) est une suite géométrique de raison q, alors (S_n) converge vers $u_1 \dfrac{1}{1-q}$ si $|q| < 1$.

6.5.3 Exercices

1. Exprimer $0,99999999\ldots$ sous une autre forme en tenant compte qu'il peut s'exprimer sous la forme $0,9 + 0,09 + 0,009 + \ldots$
2. Avec une ficelle de 100 cm, on veut tracer une figure géométrique "grecque" en utilisant la méthode suivante : on trace un segment de 50 cm, puis on répète la manoeuvre "effectuer une rotation de 90°, tracer un segment d'une longueur égale à la moitié du précédent".
   (a) Dispose-t-on d'assez de ficelle pour poursuivre la construction indéfiniment ?
   (b) Combien de côtés contient la figure que l'on peut tracer avec une ficelle de 99 cm ?
3. Un pendule d'une longueur de 20 cm oscille en laissant à chaque passage par le point le plus bas une trace dans le sable. A cause de frottements, le pendule remonte à partir

de la position la plus basse le long d'un arc de cercle dont la longueur diminue de 5% par rapport à l'arc de cercle précédent. Sachant qu'on lâche le pendule depuis une position faisant un angle de 45° avec la verticale,

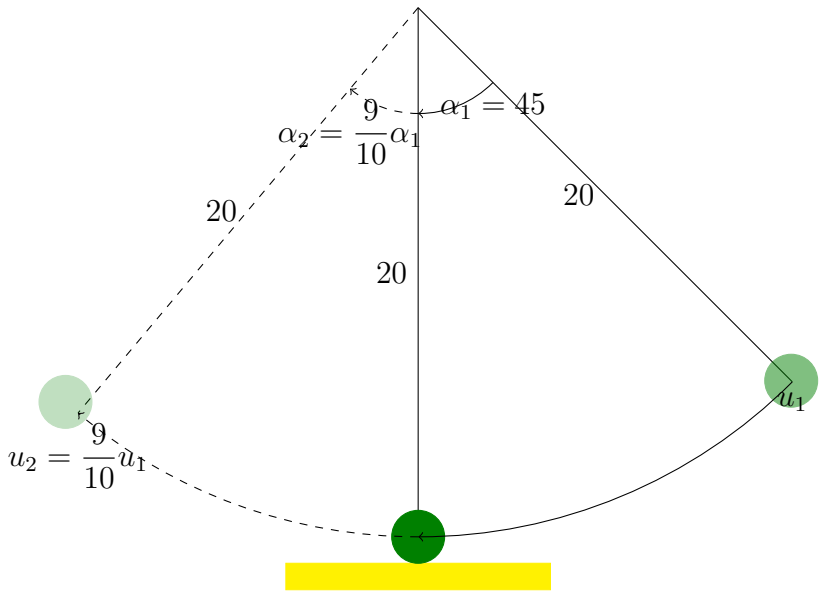

(a) Quelle est la longueur u_1 de l'arc de cercle joignant la position de lâcher au point le plus bas ?

(b) Quelle est la longueur u_2 de l'arc de cercle joignant la position la plus basse au sommet suivant de la trajectoire ?

(c) Quelle est l'expression de la longueur du nème arc de cercle joignant la position la plus basse au sommet suivant de la trajectoire ?

(d) Quelle est la longueur totale parcourue par l'extrémité du pendule après 10 oscillations ?

(e) Quelle est la limite de la longueur totale si on laisse le pendule osciller indéfiniment ?

4. Dans un grand cercle de rayon 8 cm, on trace successivement

— deux cercles de rayons 4 cm,

— 4 cercles de rayon 2 cm,

— etc

en multipliant chaque fois le nombre de cercles par deux et en divisant les rayons par 2. Les cercles de même taille étant coloriés dans le même couleur.

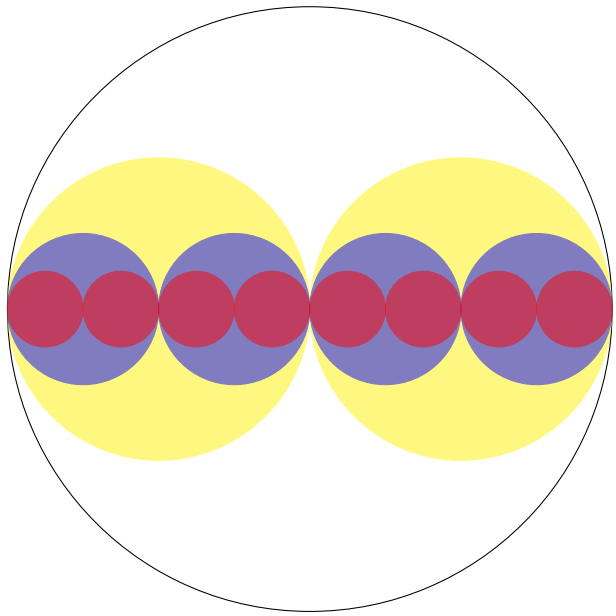

(a) caractériser la suite (r_n) des rayons des cercles. Donner le terme général r_n de cette suite.

(b) caractériser la suite (a_n) des aires des cercles de rayon r_n. Donner le terme général de cette suite.

(c) On construit la suite (u_n) contenant la somme des surfaces de tous les cercles de même rayon (même couleur) :

$$u_n = \sum_{i=1}^{2^{n-1}} a(i).$$

Caractériser la suite (u_n).

(d) Quelle est la surface totale de tous les cercles de toutes tailles ?

5. Soit $\mathcal{C}$ le cercle de centre O et de rayon r. On trace n rayons successifs distants chacun d'un angle $\alpha (0 < \alpha < 90)$. Soit A_0 le point d'intersection du premier rayon avec $\mathcal{C}$. On construit

— le segment $[A_0A_1]$ perpendiculaire au deuxième rayon passant par A_0,

— puis le segment $[A_1A_2]$ perpendiculaire au deuxième rayon passant par A_1,

— et ainsi de suite.

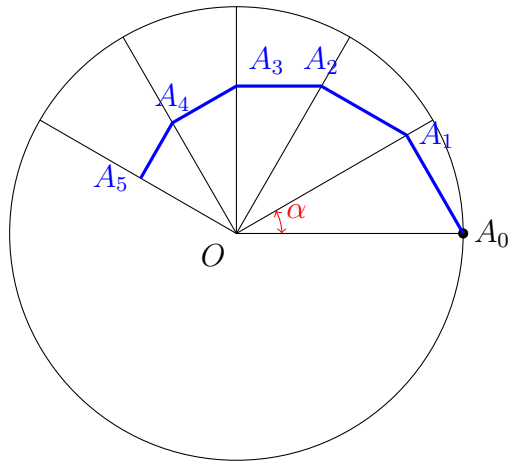

Si $\mathcal{L}_n$ désigne la somme des longueurs des segments $[A_0A_1]$, $[A_1A_2]$, $\ldots$, $[A_{n-1}A_n]$, on demande

(a) de donner l'expression de $\mathcal{L}_n$ en fonction de r et n

(b) de prouver que $\mathcal{L}_{+\infty} = \lim\limits_{n\to+\infty} \mathcal{L}_n = r\dfrac{1+\cos\alpha}{\sin\alpha}$

(c) Dans le cas où $\alpha = 30$, montrer que $\mathcal{L}_{+\infty}$ est la somme du diamètre du $\mathcal{C}$ et du côté du triangle équilatéral inscrit dans $\mathcal{C}$.

Chapitre 7

Analyse combinatoire

7.1 Dénombrements

Dénombrer un ensemble fini, c'est en déterminer le nombre d'éléments.

Il est souvent difficile d'énumérer la liste complète des éléments pour ensuite pouvoir les compter. Il faut donc mettre en évidence différentes méthodes qui permettent de dénombrer des ensembles, c'est l'objet de l'analyse combinatoire.

7.1.1 Principe de multiplication

Si, pour établir une liste d'éléments, on effectue des **choix successifs**, on peut construire un arbre régulier càd un arbre tel que chaque branche se ramifie en un même nombre de branches.

Le nombre d'éléments dans la liste est le nombre de branches terminales de l'arbre qui est le **produit** des nombres de branches de chaque niveau.

Dans l'exemple ci-dessous, le 1er choix s'effectue parmi n éléments, le 2e parmi p et le 3e parmi q éléments. Le nombre de choix est donc $n \cdot p \cdot q$.

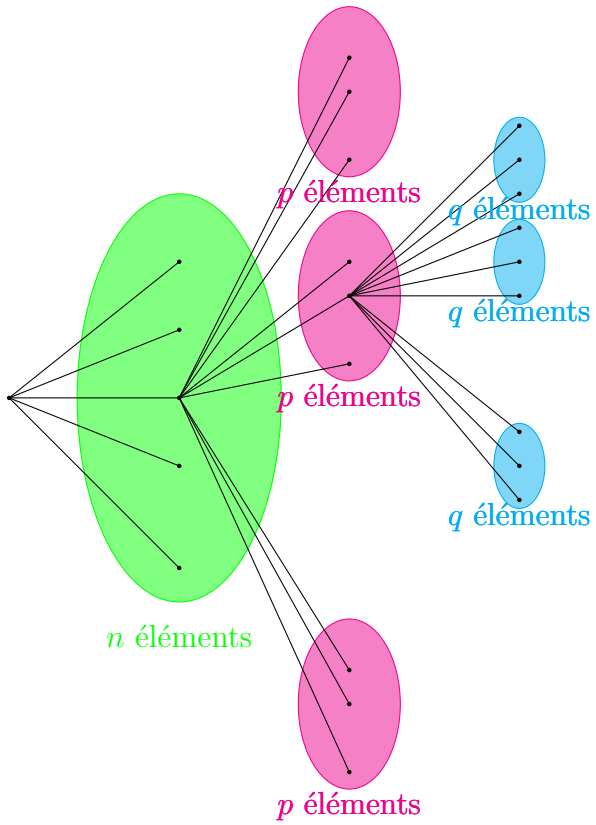

Exemple

La carte d'un restaurant propose 3 entrées, 4 plats et 2 desserts.

Le nombre de menus contenant les 3 services est donné par $3 \cdot 4 \cdot 2 = 24$.

7.1.2 Principe de l'addition

Si, pour établir une liste d'éléments, on choisit un élément **ou** un autre, on effectue une **somme**.

Exemple

La carte d'un restaurant propose 3 entrées, 4 plats et 2 desserts.

Le nombre de menus contenant une entrée et un plat ou un plat et un dessert est donné par $3 \cdot 4 + 4 \cdot 2 = 20$.

7.2 Groupements sans répétition

7.2.1 Permutations

- Une *permutation sans répétition* de n éléments est un groupement ordonné de ces n éléments distincts.

  Par conséquent, deux permutations de n éléments diffèrent par l'ordre.
- Le nombre de permutations de n éléments distincts est

$$P_n = n \cdot (n-1) \cdot \ldots \cdot 1$$

  où n est un naturel non nul.

Factorielle

Si $n \in \mathbb{N}_0$, la *factorielle* de n est le nombre noté $n!$ tel que

$$n! = n \cdot (n-1) \cdot (n-2) \cdots 2 \cdot 1.$$

Par convention, $0! = 1$

Exemple

Le nombre de façons de ranger 5 chemises de couleurs différentes sur une tringle est $P_5 = 5! = 120$

7.2.2 Arrangements sans répétition

- Un *arrangement sans répétition* de p éléments pris parmi n ($p \leq n$) est un groupement ordonné de p éléments distincts pris parmi n.

  Par conséquent, deux arrangements diffèrent soit par la nature, soit par l'ordre de leurs éléments.
- Le nombre d'arrangements sans répétition de p éléments pris parmi n est

$$A_n^p = n \cdot \ldots \cdot (n-p+1) = \frac{n!}{(n-p)!}$$

  où n, p sont des naturels tels que $0 < p \leq n$.

Remarques

1. Cas particulier ($p = n$) : un arrangement sans répétition de n éléments pris parmi n est une permutation de n éléments. On remarque d'ailleurs que $A_n^n = P_n$.

2. Pour que la formule $A_n^p = \dfrac{n!}{(n-p)!}$ soit valable lorsque $p = n$, il fallait adopter la convention $0\,! = 1$.

3. L'expression A_n^0 devrait représenter le nombre d'arrangements de 0 éléments pris par n. Cela n'a pas vraiment de sens, mais on lui donne une valeur en accord avec la convention adoptée : $A_n^0 = \dfrac{n!}{n!} = 1$. On pose donc $A_n^0 = 1$.

Exemple

Le nombre de façons de superposer 3 chemises prises parmi 5 chemises de couleurs différentes est $A_5^3 = \dfrac{5!}{2!} = 60$

7.2.3 Combinaisons sans répétition

- Une *combinaison sans répétition* de p éléments pris parmi n ($p \leq n$) est un groupement non ordonné de p éléments distincts pris parmi n.

  Par conséquent, deux combinaisons diffèrent par la nature de leurs éléments et non par l'ordre.

- Le nombre de combinaisons différentes de p éléments pris parmi n est

$$C_n^p = \frac{A_n^p}{P_p} = \frac{n!}{(n-p)! \cdot p!}$$

  où n, p sont des naturels tels que $0 < p \leq n$.

Remarques

1. Comme pour les arrangements, C_n^0 n'a pas de sens ; mais en accord avec la définition et les conventions, on a $C_n^0 = 1$.

2. $\forall n \in \mathbb{N}, C_n^0 = C_n^n = 1$,
3. $\forall n \in \mathbb{N}, C_n^1 = C_n^{n-1} = n$,
4. $\forall n, p \in \mathbb{N}, 0 \leq p \leq n, C_n^p = C_n^{n-p}$

Exemple

Le nombre de façons de choisir 3 chemises prises parmi 5 chemises de couleurs différentes est $C_5^3 = \dfrac{5!}{2! \cdot 3!} = 10$

7.3 Groupements avec répétition

7.3.1 Arrangements avec répétition

- Un *arrangement avec répétition* de p éléments pris parmi n est un groupement ordonné de p éléments pris parmi n.
- Le nombre d'arrangements avec répétition de p éléments pris parmi n est

$$\alpha_n^p = n^p$$

où n, p sont des naturels.

Exemple

Le nombre de codes PIN composés de 4 chiffres est 10^4.

7.3.2 Permutations avec répétition

- Une *permutation avec répétition* de n éléments dont certains sont indiscernables est un groupement ordonné de n éléments.
- Étant donné un ensemble de $n = n_1 + \cdots + n_k$ éléments comportant n_1 éléments indiscernables de type 1, n_2 éléments indiscernables de type 2, $\cdots, n_k$ éléments indiscernables de type k, le nombre de permutations avec répétition de ces n éléments est

$$P_n^{n_1, n_2, \ldots, n_k} = \frac{n!}{n_1! \cdots n_k!}.$$

Exemple

Le nombre de mots différents que l'on peut construire en permutant les lettres du mot "répétition" est $P_{10}^{2,2,2} = \dfrac{10!}{2! \cdot 2! \cdot 2!}$ car, parmi les 10 lettres du mot, il y a 2 "é", 2 "i" et 2 "t".

7.3.3 Combinaisons avec répétition

- Un *combinaison avec répétition* de p éléments pris parmi n éléments est un groupement (non ordonné) de p éléments pris parmi n dans lequel chaque élément peut apparaître plusieurs fois.
- Le nombre de combinaisons avec répétition de p éléments pris parmi n est

$$C_{n+p-1}^{p}$$

où n, p sont des naturels.

7.3.4 Organigramme de synthèse

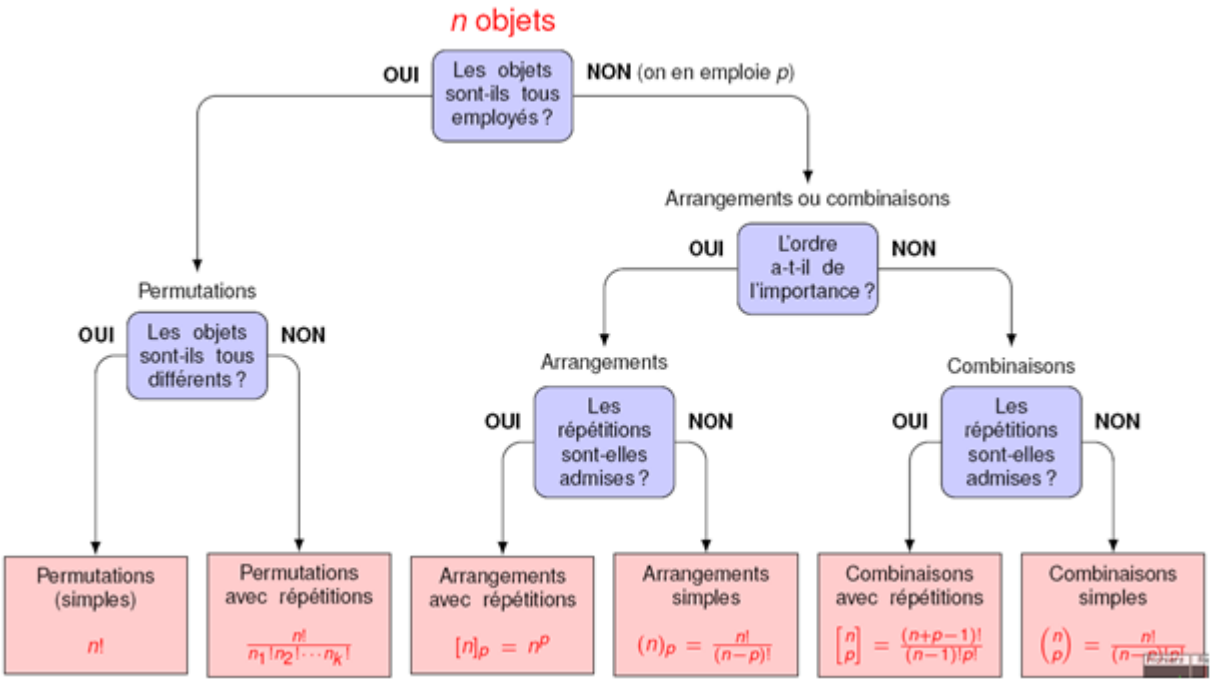

7.4 Triangle de Pascal

Le triangle de Pascal est un tableau à deux entrées dont la cellule située à la n ème ligne et $p^{\text{ème}}$ colonne contient le nombre C_n^p.

	0	1	2	3	4	5
0	1					$\cdots$
1	1	1				
2	1	2	1			
3	1	3	3	1		
4	1	4	6	4	1	
5	1	5	10	10	5	1
$\vdots$						

- les lignes du triangle de Pascal sont symétriques : $\forall n, p \in \mathbb{N}$ avec $n > p$,

$$C_n^p = C_n^{n-p}$$

- $\forall n, p \in \mathbb{N}$ avec $n > p$,

$$C_{n+1}^p = C_n^p + C_n^{p-1}$$

- la somme des éléments de la n ème ligne du triangle de Pascal est égale à 2^n

$$2^n = \sum_{i=0}^{n} C_n^i$$

7.5 Binôme de Newton

$\forall n \in \mathbb{N}, \forall a, b \in \mathbb{C}$, on a

$$(a+b)^n = \sum_{i=0}^{n} C_n^i \cdot a^{n-i} \cdot b^i$$

Remarque

En particulier, on a

$$(1+x)^n = \sum_{i=0}^{n} C_n^i \cdot x^i$$

En dérivant cette égalité membre à membre, on obtient

$$n \cdot (1+x)^{n-1} = \sum_{i=0}^{n} C_n^i \cdot i \cdot x^{i-1}$$

En remplaçant x par 1 dans chacune des 2 égalités précedentes, on obtient

$$2^n = \sum_{i=0}^{n} C_n^i$$

et

$$n \cdot 2^{n-1} = \sum_{i=0}^{n} i \cdot C_n^i$$

7.6 Exercices

7.6.1 Dénombrement

1. Une marque d'automobiles produit 4 modèles A, B, C et D.

   Les modèles A et B sont proposés en 2 versions : berline et coupé.

   Les modèles C et D sont proposés en berline, coupé, cabriolet et utilitaire.

   Chaque voiture est vendue en 7 coloris.

   Combien de choix s'offrent à un client désirant acheter une voiture de cette marque ?

2. Combien de sous-ensembles de 7 éléments peut-on former à partir d'un ensemble de 15 éléments ?

3. De combien de manières peut-on colorier une carte représentant trois pays à l'aide de 10 couleurs (deux pays ne pouvant pas être coloriés dans la même couleur) ?

4. Avec les chiffres de 1 à 9, combien peut-on former

   (a) de nombres de 5 chiffres différents ?

   (b) de nombres de 5 chiffres différents se terminant par 7 ?

   (c) de nombres de 5 chiffres différents se terminant par 79 ?

   (d) de nombres de 5 chiffres différents qui comprennent 4 ?

   (e) de nombres de 5 chiffres différents qui comprennent 7 et pas 8 ?

   (f) de nombres de 5 chiffres différents qui comprennent 7 et 8 ?

   (g) de nombres de 5 chiffres différents qui comprennent 78 (c'est-à-dire qui comprennent 7 et 8 ; groupés et dans cet ordre) ?

5. (a) Combien peut-on former de mots de 7 lettres différentes formés de 3 consonnes et 4 voyelles ?

(b) Même question si les consonnes doivent être au début du mot ?

(c) Même questions si les voyelles doivent être groupées ?

6. De combien de manières un professeur d'éducation physique peut-il former une équipe de 11 joueurs en prenant 8 joueurs dans une classe de 15 élèves et 3 dans une autre de 12 élèves,

   (a) si l'on ne tient pas compte de la place ?

   (b) si l'on tient compte de la place ?

7. De combien de façons peut-on partager 10 objets différents entre Luc, Michel et Jean, s'ils doivent en recevoir respectivement 2, 3 et 5 ?

8. Hors d'un jeu de 52 cartes, combien de mains différentes de 5 cartes peut-on extraire ? Parmi les mains dénombrées ci-dessus, combien contiennent

   (a) seulement des coeurs ?

   (b) seulement des rouges ?

   (c) exactement 2 coeurs ?

   (d) exactement 2 as et exactement 2 rois ?

   (e) au moins 3 as ?

   (f) au moins 2 rois ?

9. De combien de façons les 12 élèves d'une classe (9 filles et 3 garçons) peuvent-ils se placer en file indienne,

   (a) si les filles doivent précéder les garçons ?

   (b) si les garçons doivent être groupés ?

   (c) si les filles restent groupées et les garçons aussi ?

10. Six amis sont partis ensemble au Club Med pour deux semaines de vacances.

    (a) Ils ont, pour entrer dans leur bungalow, un code secret composé de 5 chiffres. Combien y a-t-il de codes possibles ?

    (b) Deux terrains de tennis étant à leur disposition, ils décident de jouer chaque jour un simple et un double simultanément. Si dans une paire de double, on ne tient pas compte du côté où chaque joueur évolue, leurs vacances sont-elles assez longues pour jouer tous les matches possibles ?

(c) Ils décident un jour de se mesurer à la course à pieds. Combien y a-t-il de podiums possibles ?

11. On compose un livret de quatre feuilles recto-verso, soit huit pages de texte. Combien y a-t-il de compositions possibles, selon l'ordre et l'orientation (recto ou verso) des pages ?

12. Cinq athlètes participent à une compétition internationale de haut niveau pour laquelle des médailles d'or, d'argent et de bronze sont attribuées aux trois meilleurs scores. Combien y a-t-il de façons différentes de décerner ces médailles aux athlètes.

13. Si un étudiant doit répondre à quatre des huit questions que comporte un examen tout en choisissant exactement deux questions parmi les cinq premières, combien a-t-il de possibilités pour répondre ?

7.6.2 Démonstrations

1. Prouver que

$$C_n^0 + C_n^1 + \ldots + C_n^n = 2^n,$$

$$C_n^0 - C_n^1 + C_n^2 - \ldots + C_n^n = 0.$$

En déduire que

$$C_n^0 + C_n^2 + C_n^4 + \ldots = 2^{n-1},$$

$$C_n^1 + C_n^3 + C_n^5 + \ldots = 2^{n-1}.$$

2. Montrer que

$$C_n^0 - C_n^2 + C_n^4 - C_n^6 \ldots = \sqrt{2^n} \cos \frac{n\pi}{4},$$

$$C_n^1 - C_n^3 + C_n^5 - C_n^7 \ldots = \sqrt{2^n} \sin \frac{n\pi}{4}.$$

3. Des deux derniers points, calculer les sommes suivantes

$$S_1 = C_n^0 + C_n^4 + C_n^8 + \ldots,$$

$$S_2 = C_n^2 + C_n^6 + C_n^{10} + \ldots,$$

$$S_3 = C_n^1 + C_n^5 + C_n^9 + \ldots,$$

$$S_4 = C_n^3 + C_n^7 + C_n^{11} + \ldots.$$

4. Démontrer la relation

$$C_n^{p-1} + C_n^p = C_{n+1}^p.$$

En déduire que

$$C_n^p + C_{n+1}^{p+1} + \cdots + C_{n+q}^{p+q} = C_{n+q+1}^{p+q} - C_n^{p-1},$$

si $1 \leq p \leq n, \quad q \geq 0$.

Que devient le second membre de cette dernière relation lorsque p est nul ?

5. (a) Démontrer la relation

$$k\, C_n^k = n\, C_{n-1}^{k-1} \quad \text{si} \quad n \geq k \geq 1.$$

(b) En déduire la valeur de la somme

$$C_n^1 + 2C_n^2 + 3C_n^3 + \cdots + n\, C_n^n.$$

6. (a) Démontrer l'égalité suivante, pour tout $n \in \mathbb{N}$

$$C_n^1 + 2C_n^2 + \cdots + kC_n^k + \cdots + nC_n^n = n2^{n-1}.$$

(b) En déduire, pour tout $n \in \mathbb{N} \setminus \{0\}$

$$C_n^2 + \cdots + (k-1)C_n^k + \cdots + (n-1)C_n^n = (n-2)2^{n-1} + 1\,.$$

Rappel : une somme de m termes est nulle quand $m = 0$.

7. Calculer la valeur de

$$C_n^1 - C_n^3 + C_n^5 - C_n^7 + \ldots.$$

Vérifier le résultat obtenu quand $n = 9$.

Suggestion : donner l'expression algébrique et trigonométrique de $(1+i)^n$.

8. (a) Simplifier l'expression

$$\sum_{k=0}^{n} (-1)^k C_n^k (1+x)^{n+k}.$$

(b) En déduire la valeur de

$$\sum_{k=0}^{n} (-1)^k C_n^k C_{n+k}^j \quad (0 \leq j \leq n).$$

(c) Vérifier le résultat pour $n = 3$ et $j = 2$ et 3.

9. Démontrer que, pour tout entier naturel m, on a

$$C_{2m+1}^{m} \;=\; C_{2m}^{m} + C_{2m-1}^{m-1} + \cdots + C_{m}^{0}\,.$$

10. En évaluant de deux manières différentes une puissance de $(1+i)$, démontrer que

$$\sum_{k=0}^{2m} C_{4m}^{2k}(-1)^{m+k} \;=\; 4^m\,.$$

En déduire que

$$2\left(1 - C_{40}^{2} + C_{40}^{4} - C_{40}^{6} + \cdots - C_{40}^{18}\right) \;=\; 2^{20} - C_{40}^{20}\,.$$

11. Montrer que, pour $n \geq 1$, on a

$$C_{2n}^{n} = \sum_{k=0}^{n} \left(C_n^k\right)^2.$$

Suggestion : identifier le coefficient d'une puissance de x bien choisie dans le polynôme $(x+1)^{2n}$ et dans le polynôme $(x+1)^n(x+1)^n$.

12. Calculer les sommes suivantes

$$S_n = \sum_{k=0}^{n}(-1)^k \left(C_n^k\right)^2 \quad \text{et} \quad T_n = \sum_{k=0}^{n} k\left(C_n^k\right)^2.$$

Suggestion : pour S_n, introduire les polynômes $P(x) = (x+1)^n$, $Q(x) = (x-1)^n$ et chercher le coefficient d'une puissance de x bien choisie du produit PQ de deux façons différentes ; pour T_n, considérer le polynôme $P(x)$ et sa dérivée $P'(x)$.

13. Montrer que pour $0 \leq p \leq n$, on a

$$\sum_{k=0}^{k} C_n^k C_{n-k}^{p-k} = 2^p C_n^p$$

et

$$\sum_{k=0}^{k}(-1)^k C_n^k C_{n-k}^{p-k} = 0.$$

14. Calculer, pour tout naturel n,

$$I_n = \sum_{k=0}^{n} C_{2n}^{2k} \quad \text{et} \quad J_n = \sum_{k=0}^{n-1} k C_{2n}^{2k+1}.$$

Suggestion : calculer $I_n + J_n$ et $I_n - J_n$.

15. Démontrer que, pour tout naturel k tel que $1 \leq k \leq n$, on a

$$(k+1)C_{n+1}^{k+1} = (n+1)C_n^k.$$

En déduire la valeur de la somme

$$\sum_{k=0}^{n} \frac{1}{1+k}\ C_n^k.$$

16. Soit k un naturel tel que $2 \leq k \leq n+1$. Montrer que

$$k(k-1)C_{n+1}^k = n(n-1)C_{n-1}^{k-2}.$$

En déduire la valeur de la somme

$$\sum_{k=0}^{n+1} k(k-1)\ C_{n+1}^k.$$

17. Calculer, pour tout naturel $n > 0$, la valeur de

$$\sum_{k=0}^{n-1} (k+1)\ \frac{C_n^{k+1}}{C_n^k}.$$

18. (07/11) Démontrer l'égalité

$$\sum_{k=1}^{n} C_k^2 = C_{n+1}^3, \forall n \in \mathbb{N}_0.$$

Chapitre 8

Nombres complexes

8.1 Définitions

Il y a plusieurs méthodes différentes pour introduire les nombres complexes. Dans cette synthèse, nous accepterons la définition brutale suivante :
si a et b sont deux nombres réels, on appelle nombre complexe z un nombre de la forme $z = a + ib$ où i est tel que $i^2 = -1$.
L'ensemble des nombres complexes est noté $\mathbb{C}$.

Pour des raisons dépendant de l'introduction, on appelle

- partie réelle de z le nombre a. On la note $\Re z$
- partie imaginaire de z le nombre b. On la note $\Im z$

Si $b = 0$, le nombre complexe est un réel ; si $a = 0$, on dit que le nombre complexe est un imaginaire pur.

Dans la suite de ce chapitre, a et b désignent toujours des nombres réels.

Deux nombres complexes $z = a + ib$ et $z' = a' + ib'$ sont égaux ssi leurs parties réelles et leurs parties imaginaires sont égales.

$$z = z' \Leftrightarrow a = a' \text{ et } b = b'.$$

8.2 Opérations

8.2.1 Somme de deux nombres complexes

Si $z_1 = a_1 + ib_1$ et $z_2 = a_2 + ib_2$ sont deux nombres complexes, leur somme est le nombre complexe z défini par

$$z = (a_1 + a_2) + i(b_1 + b_2).$$

L'ensemble $\mathbb{C}$, muni de l'addition est un groupe commutatif ; ce qui veut dire (entre autres)

— existence d'un neutre (0),

— existence d'un opposé $(-z)$ pour chaque complexe (et donc de la différence de deux nombres complexes)

8.2.2 Produit de deux nombres complexes

Si $z_1 = a_1 + ib_1$ et $z_2 = a_2 + ib_2$ sont deux nombres complexes, leur produit est le nombre complexe z défini par

$$z = (a_1 \cdot a_2 - b_1 \cdot b_2) - i(a_2 \cdot b_1 + a_1 \cdot b_2).$$

L'ensemble $\mathbb{C}_0$, muni de la multiplication est un groupe commutatif, ce qui veut dire (entre autres)

— existence d'un neutre (le réel 1),

— existence d'un inverse noté $\dfrac{1}{z}$ pour chaque complexe non nul (et donc du quotient de deux nombres complexes)

8.2.3 Conjugué d'un nombre complexe

Si $z = a + ib$ est un nombre complexe, on appelle conjugué du nombre complexe z le nombre noté $\bar{z}$ défini par $\bar{z} = a - ib$.

Propriétés :

- $\bar{\bar{z}} = z$
- $\overline{z_1 + z_2} = \overline{z_1} + \overline{z_2}$
- $\overline{z_1 \cdot z_2} = \overline{z_1} \cdot \overline{z_2}$
- $z + \bar{z} = 2a (= 2\Re z)$
- $z \cdot \bar{z} = a^2 + b^2$

Remarque

: Dès qu'une propriété est vraie pour le produit de deux nombres, elle est vraie pour l'inverse d'un nombre non nul, le quotient de deux nombres, la n^{e} puissance d'un nombre,...

8.3 Module d'un nombre complexe

Si $z = a+ib$ est un nombre complexe, on appelle module du nombre complexe z le nombre positif noté $|z|$ défini par $|z| = \sqrt{a^2 + b^2}$.
Propriétés :

- $|z| = 0 \Leftrightarrow z = 0$
- $|\bar{z}| = |z|$
- $|z_1 \cdot z_2| = |z_1| \cdot |z_2|$
- $\cdots$

Remarque

Dès qu'une propriété est vraie pour le produit de deux nombres, elle est vraie pour l'inverse d'un nombre non nul, le quotient de deux nombres, la n^{e} puissance d'un nombre,$\cdots$

Attention : le module d'une somme n'est pas la somme des modules. On a l'inégalité de Minkowski :

$$|z_1 + z_2| \leq |z_1| + |z_2|.$$

8.4 Racines carrées d'un nombre complexe

On appelle racine carré d'un nombre complexe $z = a + ib$ tout nombre complexe $x + iy$ où $x, y \in \mathbb{R}$ tel que

$$(x + iy)^2 = a + ib.$$

On a

$$(x + iy)^2 = a + ib \Leftrightarrow \begin{cases} x^2 - y^2 = a \\ 2xy = b \end{cases}$$

Il suffit de résoudre ce système d'inconnues x et y. On trouve toujours deux solutions opposées. Un nombre complexe admet donc toujours deux racines carrées complexes opposées.

Cas particuliers :

— un nombre réel positif étant un nombre complexe particulier, on en déduit que, dans $\mathbb{C}$, un nombre positif admet deux racines carrées réelles opposées (ex : les racines carrées complexes de 5 sont $\sqrt{5}$ et $-\sqrt{5}$).

— un nombre réel négatif étant un nombre complexe particulier, on en déduit que dans $\mathbb{C}$ un nombre négatif admet deux racines carrées imaginaires pures opposées (ex : les carrées complexes de $-5 = 5i^2$ sont $i\sqrt{5}$ et $-i\sqrt{5}$).

Conséquences :

— une équation du second degré à coefficients réels $az^2 + bz + c = 0$ où $a, b, c \in \mathbb{R}$ admet toujours deux solutions complexes. En effet,
si $\Delta \geq 0$, les solutions sont réelles ;
si $\Delta < 0$, les solutions de l'équation sont

$$z = \frac{-b + i\sqrt{-\Delta}}{2a} \text{ ou } z = \frac{-b - i\sqrt{-\Delta}}{2a}$$

qui sont conjuguées.

— une équation du second degré à coefficients complexes ademet toujours deux solutions complexes.

8.5 Plan de Gauss

De même qu'on représente un nombre réel sur la droite des réels, on peut représenter un nombre complexe dans un plan (appelé plan de Gauss ou plan complexe).
Pour cela, on muni le plan d'un reprère orthonormé dont l'axe des abscisses est l'axe des réels et l'axe des ordonnées l'axe des imaginaires.
On représente alors le nombre $z = a + ib$ par le point de coordonnées (a, b).

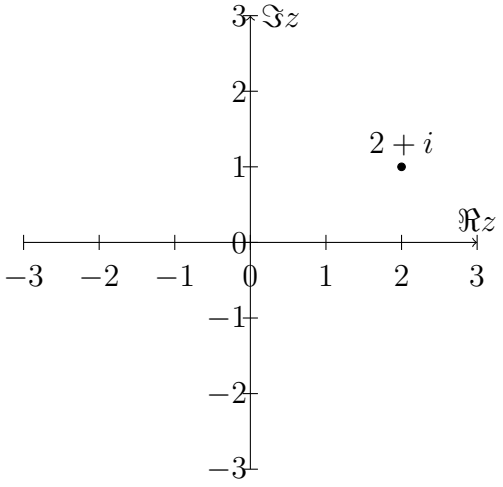

A chaque point du plan correspond un nombre complexe et réciproquement.

8.6 Argument d'un nombre complexe

Cette représentation d'un nombre complexe ouvre une nouvelle possibilité de décrire un nombre complexe. En effet, pour localiser un point dans le plan (et donc définir le nombre complexe qui lui correspond), on peut utiliser deux autres grandeurs.
Si $z = a + ib$ est le nombre complexe représenté par le point $Z(a, b)$, alors on peut localiser Z par

— la distance ρ séparant le point de l'origine O des axes

— l'angle orienté θ formé par la demi-droite $[OZ$ avec l'axe des réels.

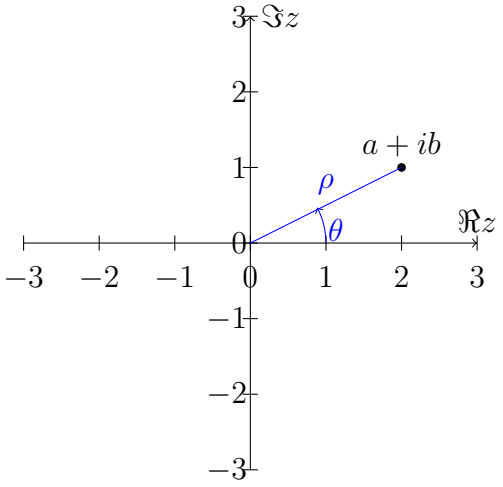

Remarques

— le nombre ρ est toujours positif ; le seul cas où il est nul c'est lorsque le nombre complexe représenté est nul.

— une application simple du théorème de Pythagore permet de démontrer que

$$\rho = \sqrt{a^2 + b^2}.$$

Autrement dit, ρ est le module du nombre complexe z

— il y a une infinité d'angles θ qui conviennent, égaux à $2k\pi$ près ($k \in \mathbb{Z}$). Par convention, on considère que seul l'angle compris dans $]-\pi, \pi]$ est le bon angle. Cet angle θ est appelé l'argument du nombre complexe z.

— Grâce aux relations dans un triangle rectangle, on démontre facilement que

$$\tan\theta = \frac{b}{a}.$$

— Ces relations peuvent être utilement complétées par

$$a = \rho\cos\theta$$

et

$$b = \rho\sin\theta.$$

8.7 Forme trigonométrique d'un nombre complexe

A partir de ces deux dernières relations, on constate que tout nombre complexe $z = a + ib$ peut s'écrire sous la forme

$$z = \rho(\cos\theta + i\sin\theta).$$

Cette dernière expression est appelée forme trigonométrique du nombre complexe.
Deux nombres complexes $z = \rho e^{i\theta}$ et $z' = \rho' e^{i\theta'}$ sont égaux ssi ils ont les mêmes modules et mêmes arguments :

$$z = z' \Leftrightarrow \begin{cases} \rho = \rho' \\ \theta = \theta' + 2k\pi (k \in \mathbb{Z}) \end{cases}$$

8.7.1 Propriétés

Cette forme trigonométrique a pour avantages de jouïr des propriétés suivantes (faciles à démontrer).

Si $z = \rho(\cos\theta + i\sin\theta)$ et $z' = \rho'(\cos\theta' + i\sin\theta')$, alors

- $zz' = \rho\rho'(\cos(\theta+\theta') + i\sin(\theta+\theta'))$
- $\dfrac{1}{z} = \dfrac{1}{\rho}(\cos(-\theta) + i\sin(-\theta))$
- $\dfrac{z}{z'} = \dfrac{\rho}{\rho'}(\cos(\theta-\theta') + i\sin(\theta-\theta'))$
- $z^n = \rho^n(\cos(n\theta) + i\sin(n\theta))$

Remarque

la relation

$$(\cos\theta + i\sin\theta)^n = \cos n\theta + i\sin n\theta$$

est appelée formule de Moivre.

8.7.2 Notation exponentielle

L'expression $\cos\theta + i\sin\theta$ est parfois notée $cis\theta$. Mais cette notation désuette est de moins en moins souvent utilisée au profit d'une autre ; elle est généralement notée

$$e^{i\theta}$$

où e est le même e que la base de l'exponentielle réelle. Il s'agit donc de généraliser la notion d'exponentielle à des nombres complexes. Cette généralisation est justifiable par les nombreuses propriétés communes aux expressions $\cos\theta + i\sin\theta$ et $e^{i\theta}$.

Ainsi, si $z = \rho e^{i\theta}$ et $z' = \rho' e^{i\theta'}$ les propriétés ci-dessus s'écrivent

- $zz' = \rho\rho' e^{i(\theta+\theta')}$
- $\dfrac{1}{z} = \dfrac{1}{\rho}e^{-i\theta}$
- $\dfrac{z}{z'} = \dfrac{\rho}{\rho'}e^{i(\theta-\theta')}$
- $z^n = \rho^n e^{in\theta}$

Remarque

On ne peut passer sous silence la merveilleuse formule d'Euler

$$e^{i\pi} = -1.$$

8.8 Racines n^{e} d'un nombre complexe

On appelle racine n^{eme} d'un nombre complexe $z' = \rho' e^{i\theta'}$ tout nombre complexe $z = \rho e^{i\theta}$ tel que

$$z^n = z'.$$

On a donc

$$(\rho e^{i\theta})^n = \rho' e^{i\theta'} \Leftrightarrow \rho^n e^{in\theta} = \rho' e^{i\theta'} \Leftrightarrow \begin{cases} \rho = \sqrt[n]{\rho'} \\ \theta = \dfrac{\theta' + 2k\pi}{n} \end{cases}$$

Le nombre complexe z' admet donc les n racines n^{eme} suivantes :

- $z_0 = \sqrt[n]{\rho'} e^{i\dfrac{\theta'}{n}}$
- $z_1 = \sqrt[n]{\rho'} e^{i\dfrac{\theta' + 2\pi}{n}}$
- $z_2 = \sqrt[n]{\rho'} e^{i\dfrac{\theta' + 4\pi}{n}}$
- $\vdots$
- $z_{n-1} = \sqrt[n]{\rho'} e^{i\dfrac{\theta' + 2(n-1)\pi}{n}}$

On constate que

— les racines n^{eme} d'un nombre complexe quelconque ont toutes le même module. Géométriquement, leurs points images appartiennent tous au même cercle centré à l'origine.

— les arguments des racines n^{eme} d'un nombre complexe quelconque forment une suite arithmétique de raison $\dfrac{2\pi}{n}$. Géométriquement, le polygone formé par les n points images est donc régulier.

— les racines n^{eme} d'un nombre complexe quelconque forment une suite géométrique de premier terme z_0 et de raison $e^{\frac{2i\pi}{n}}$.

8.9 Racines n^{e} de l'unité

Les racines n^{eme} de 1 vérifient les propriétés suivantes :

- elles sont égales à 1, ω, ω^2, $\cdots$, ω^{n-1} où $\omega = e^{\frac{2i\pi}{n}}$.
- la somme des racines n^{eme} de 1 est égale à 0
- le produit des racines n^{eme} de 1 est égale à $(-1)^{n-1}$.

Ces propriétés s'énoncent en français sans problème et ont des interprétations géométriques :

— les points images des racines n^{eme} de 1 sont les sommets d'un polygone régulier à n côtés, inscrit dans le cercle de rayon 1 centré à l'origine, dont un des sommets est le point (1,0).

— le centre de gravité des n sommets est l'origine des axes

Remarque

les racines n^{eme} d'un nombre complexe z quelconque peuvent être obtenues en multipliant une des racines n^{eme} de z (par exemple z_0) par chacune des racines n^{eme} de 1.

8.10 Exercices

8.10.1 Equations, racines

1. Résoudre et discuter l'équation
$$\frac{z}{\overline{z}} = \alpha,$$
(α complexe). Représenter l'ensemble des solutions dans le plan des nombres complexes.

2. Représenter graphiquement l'ensemble
$$\left\{ z \in \mathbb{C} : \left| \; z + |z| \; \right| = |z| \right\}.$$

3. Montrer que $\dfrac{1+iz}{1-iz}$ est de module 1 si et seulement si z est réel.

4. Résoudre l'équation
$$\begin{vmatrix} 1 & z^2 & z^6 \\ 1 & i & -i \\ 1 & 1 & 1 \end{vmatrix} = 0.$$
Représenter l'ensemble des solutions dans le plan complexe.

5. Calculer la somme des k^e puissances des racines 5e de l'unité (k entier > 0).

6. Résoudre l'équation

$$z^3 = -|z|$$

($z \in \mathbb{C}$).

7. Résoudre l'équation dans $\mathbb{C}$

$$z^3 = |z|^2 + i\sqrt{2}\,|z|.$$

Suggestion : rechercher $|z|$ en égalant les modules des deux membres. En déduire la forme trigonométrique des solutions. Pour en obtenir la forme algébrique, noter que

$$\frac{\pi}{12} = \frac{\pi}{3} - \frac{\pi}{4}.$$

8. (a) En utilisant la formule de Moivre, montrer que $\cos 5\vartheta$ peut se mettre sous la forme

$$\cos 5\vartheta = \cos\vartheta\ P_4(\cos\vartheta)$$

où $P_4(x)$ est un polynôme de degré 4 en x.

(b) Calculer les racines de $P_4(x)$.

(c) En déduire la valeur de $\cos\dfrac{\pi}{10}$.

9. Soient a et b deux nombres réels vérifiant l'inégalité

$$|b| < 2|a|.$$

(a) Montrer que l'équation

$$az^2 + bz + a = 0$$

possède deux solutions conjuguées.

(b) Calculer le module de ces solutions.

(c) Calculer le cosinus de l'argument de ces solutions.

10. Donner la forme algébrique des racines cubiques de $2 + 2i$. Représenter ces racines dans le plan de Gauss. Donner la valeur de leur produit.

11. (a) Calculer $(1 + \omega)^n$, où ω est une racine cubique de 1 (n entier positif).

(b) Combien de valeurs différentes obtient-on quand $\omega \neq 1$? Lesquelles ?

12. Calculer les racines carrées de $-16 - 30i$.

13. Résoudre l'équation
$$z^2 = -\frac{3}{\sqrt{5}}|z| + 4i \qquad (z \in \mathbb{C}).$$
Suggestion : Egaler les modules des deux membres pour déterminer $|z|$.

14. Si z_1, z_2, z_3 désignent les trois racines du polynôme
$$24z^3 - 26z^2 + 9z - 1,$$
calculer
$$\frac{1}{z_1^2} + \frac{1}{z_2^2} + \frac{1}{z_3^2}.$$
Suggestion : identifier le polynôme et sa décomposition en facteurs pour obtenir la somme, le produit et la somme des produits 2 à 2 des racines.

15. Déterminer les formes algébrique et trigonométrique des racines cubiques de $(-i)$.

16. (a) Résoudre l'équation
$$(z+1)^3 = iz^3 \qquad (z \in \mathbb{C})$$
(b) Vérifier que les points représentatifs des solutions dans le plan "complexe" sont situés sur une même droite parallèle à l'axe "imaginaire".

17. Calculer la partie réelle de $\dfrac{1}{1+iz}$ lorsque $|z| = 1$ $(z \in \mathbb{C})$.

18. Soit n un entier naturel.
(a) En utilisant la formule de de Moivre et celle du binôme de Newton, donner deux expressions différentes de
$$(\cos\theta + i\sin\theta)^n.$$
(b) En déduire la formule suivante :
$$\tan(n\theta) = \tan\theta \cdot \frac{n - C_n^3 \tan^2\theta + C_n^5 \tan^4\theta - \cdots}{1 - C_n^2 \tan^2\theta + C_n^4 \tan^4\theta - \cdots}$$
(c) En déduire que les racines du polynôme
$$p(x) = x^6 - 21x^4 + 35x^2 - 7$$
sont les réels $-\tan(\frac{\pi}{7})$, $\tan(\frac{\pi}{7})$, $-\tan(\frac{2\pi}{7})$, $\tan(\frac{2\pi}{7})$, $-\tan(\frac{3\pi}{7})$ et $\tan(\frac{3\pi}{7})$.
(d) En conclure que si α est une racine du polynôme $p(x)$ dont il est question au point précédent, alors $\frac{2\alpha}{1-\alpha^2}$ est également une racine de $p(x)$.

19. Résoudre dans $\mathbb{C}$

    (a) $(1+i)z^2 + (1-5i)z - (4-2i) = 0$.

    (b) $z^4 + z^2 = 12$.

    (c) $z^n - z^{n-1} - z + 1 = 0$ $(n > 1)$.

20. Résoudre l'équation suivante dans $\mathbb{C}$ sachant qu'elle a une racine réelle

$$z^3 - (\sqrt{2} + 4i)z^2 - 4(1 - \sqrt{2}i)z + 4\sqrt{2} = 0.$$

21. Pour quelle(s) valeur(s) de $\lambda \in \mathbb{R}$ l'équation suivante admet-elle deux racines réelles

$$(2+i)z^2 + (6 + i\lambda)z - 4 - 2i = 0?$$

    Quelles sont ces racines ?

22. Démontrer que, quelques soient les complexes α et β, on a

$$|\alpha + \beta|^2 + |\alpha - \beta|^2 = 2\left(|\alpha|^2 + |\beta|^2\right).$$

23. Démontrer que l'expression suivante

$$\frac{(1+i)^n - (1-i)^n}{2i}$$

    est réelle.

24. Dans le plan de Gauss, déterminer le lieu des nombres complexes z tels que

$$z + \overline{z} = |z|.$$

25. Montrer que, quelques soient les complexes a et b, si $\omega = \cos\frac{2\pi}{3} + i\sin\frac{2\pi}{3}$, alors on a

$$|a+b|^2 + |a + \omega b|^2 + |a + \omega^2 b|^2 = 3|a|^2 + 3|b|^2.$$

26. Résoudre dans $\mathbb{C}$

$$\left(\frac{z-i}{z+i}\right)^3 + \left(\frac{z-i}{z+i}\right)^2 + \left(\frac{z-i}{z+i}\right) + 1 = 0.$$

    Généraliser ensuite le résultat lorsque n est un naturel non nul

$$\left(\frac{z-i}{z+i}\right)^n + \left(\frac{z-i}{z+i}\right)^{n-1} + \ldots + \left(\frac{z-i}{z+i}\right) + 1 = 0.$$

27. Si $x \in \mathbb{C}_0$ et si $x + \frac{1}{x} = 2\cos\theta$, montrer que

$$x^n + \frac{1}{x^n} = 2\cos n\theta.$$

Suggestion : commencer par résoudre $x + \frac{1}{x} = 2\cos\theta$.

28. Résoudre l'équation (en nombres complexes) :

$$(2z^2 - 1)^3 = (z^2 + 1)^3.$$

29. Résoudre l'équation (en nombres complexes) :

$$z^8 + 4z^6 - 10z^4 + 4z^2 + 1 = 0.$$

Suggestion : développer $(z^2 + 1)^4$.

30. On donne les nombres complexes

$$z_1 = \sqrt{3} - i, z_2 = -1 + 2i, z_3 = i, z_4 = 1 + \sqrt{3}i.$$

(a) Donner la partie réelle et la partie imaginaire de $z_1 z_2$, $\frac{z_1}{z_4}$ et $(z_3)^2$.

(b) Donner la forme trigonométrique de z_4. En déduire le calcul de z_4 à la sixième puissance.

(c) Calculer $|z_1|$, $\left|\frac{z_1}{z_4}\right|$, $|z_1 z_2|$ et $|(z_3)^3|$.

31. Soit les complexes $3 - 4i$, $2 + i$, $-3 + 4i$, $2i$ et π. Calculer le module, la partie réelle, la partie imaginaire et le conjugué de ces complexes.

32. Simplifier la fraction

$$\frac{(1+i)^3 + 2i(i-1)}{2i}.$$

33. Si $2e^{i\pi/7}$ est une racine quatrième de z, quelles sont les autres racines quatrièmes de z ? Représenter ces racines dans le plan complexe.

34. Montrer que si z est un nombre complexe différent de 1, on a

$$\Re\frac{1+z}{1-z} = \frac{1-|z|^2}{|1-z|^2} \quad \text{et} \quad \Im\frac{1+z}{1-z} = \frac{2\Im z}{|1-z|^2}.$$

35. Répondre par vrai, faux ou n'a pas de sens.

(a) La somme de deux racines n^{èmes} de l'unité a pour module 1.

(b) $i < 2$.

(c) Le produit de deux racines n^{èmes} de l'unité a pour module 1.

(d) $||x| + |y|| \leq |x| + |y|$.

(e) $\Re z \leq |z|$.

(f) La somme des racines 5 ^{èmes} de $3 + i$ est nulle.

36. Démontrer que si a et b sont des nombres complexes distincts de module 1, alors pour tout $z \in C$,

$$\frac{z + ab\overline{z} - (a + b)}{b - a}$$

est imaginaire pur.

37. Soit z un nombre complexe de module 1 tel que z ne soit pas un réel et soit a un nombre complexe. Montrer que

$$|a - z| = |1 - az|$$

si et seulement si a est un réel.

38. (09/10) Résoudre dans $\mathbb{C}$ l'équation

$$i(1 + z)^4 = 1.$$

39. (07/11) Résoudre l'équation

$$z^4 + |z| = 0.$$

Suggestion : calculer d'abord $|z|$.

8.10.2 Complexes et analyse combinatoire

1. Calculer de deux façons différentes

$$\left(\cos\frac{\pi}{4} + i\sin\frac{\pi}{4}\right)^{10}.$$

En déduire que

$$2C_{10}^1 - 2C_{10}^3 + C_{10}^5 = 2^5.$$

2. Soit le nombre complexe

$$(\cos\theta + i\sin\theta)^5.$$

Déterminer une expression de $\cos^5\theta$ en fonction de $\cos\theta$, de $\sin^5\theta$ en fonction de $\sin\theta$ et de $\mathrm{tg}^5\theta$ en fonction de $\mathrm{tg}\theta$ (suggestion : exprimer le complexe sous deux formes différentes).

3. Calculer

$$S = \cos\frac{\pi}{11} + \cos\frac{3\pi}{11} + \cos\frac{5\pi}{11} + \cos\frac{7\pi}{11} + \cos\frac{9\pi}{11}$$

(suggestion : remarquer que les angles sont en progression arithmétique de raison r que l'on déterminera).

Chapitre 9

Polynômes dans $\mathbb{C}$

9.1 Définitions

Un polynôme de z est une combinaison linéaire à coefficients complexes de puissances naturelles de z. Un polynôme $P(z)$ s'écrit donc sous la forme

$$P(z) = \sum_{i=0}^{n} a_i z^i$$

où $a_i \in \mathbb{C}, \forall i = 0, 1, \cdots, n$.
n est alors le degré de $P(z)$.

9.2 Division polynomiale

9.2.1 Définitions

On peut démontrer le théorème suivant :
Si $P(z)$ et $D(z)$ sont deux polynômes tels que degré $P >$ degré D, alors il existe deux polynômes uniques $Q(z)$ et $R(z)$ tels que

$$P(z) = D(z) \cdot Q(z) + R(z)$$

et

$$\text{degre } R < \text{degre } D$$

On définit alors les notions suivantes :

Les polynômes $Q(z)$ et $R(z)$ sont respectivement appelés quotient et reste de la division de P par D.

Le polynôme $P(z)$ est divisible par $D(z)$ ssi $R(z) = 0$.

9.2.2 Loi du reste

Théorème :

Le reste de la division de $P(z)$ par $x - a$ est $P(a)$.

Corrolaire :

Un polynôme $P(z)$ est divisible par $x - a$ ssi $P(a) = 0$.

On dit alors que a est un zéro de $P(z)$ et on a

$$P(z) = (z - a) \cdot Q(z).$$

9.2.3 Zéro multiple

Un réel a est zéro de multiplicité α de $P(z)$ si $P(z) = (z - a)^\alpha \cdot Q(z)$ où $Q(a) \neq 0$.

On peut démontrer que a est un zéro multiple de $P(z)$ ssi $P(a) = 0$ et $P'(a) = 0$.

9.3 Théorême fondamental de l'algèbre

Un polynôme $P(z)$ de degré n admet n zéros complexes comptés avec leurs multiplicités.

Ainsi, si $P(z)$ est un polynôme de degré n et si $a_1, \cdots, a_p$ sont des zéros de $P(z)$ de multiplicités respectives $\alpha_1, \cdots, \alpha_p$ tels que $\sum_{i=1}^{p} \alpha_i = n$, alors

$$P(z) = a_n(z - a_1)^{\alpha_1} \cdot \ldots \cdot (z - a_p)^{\alpha_p}.$$

Conséquence : Identification des coefficients

- Deux polynômes de degré n prennent les mêmes valeurs en au moins n points ssi leurs coefficients correspondants sont proportionnels.

- Deux polynômes de degré n prennent les mêmes valeurs en au moins $n+1$ points ssi leurs coefficients correspondants sont égaux.

9.4 Polynômes à coefficients réels

9.4.1 Théorème

Soit $P(z)$ un polynôme à coefficients réels.
Si z_0 est un zéro de multiplicité α de $P(z)$, alors son conjugué $\bar{z}_0$ est aussi un zéro de multiplicité α de $P(z)$.

9.4.2 Conséquences

- Un polynôme à coefficients réels admet toujours un nombre pair de zéros complexes (non réels) conjugués.
- Un polynôme de degré impair à coefficients réels admet toujours au moins un zéro réel.
- De plus, le nombre de zéros réels d'un polynôme de degré impair à coefficients réels est impair (comptés avec leurs multiplicités).
- Le nombre de zéros réels, comptés avec leurs multiplicités) d'un polynôme de degré pair à coefficients réels est toujours pair (éventuellement nul).

9.5 Exercices

1. Décomposer $2a^3 + b^3 - 3a^2b$ en facteurs polynomiaux du premier degré.

2. Quelles conditions faut-il imposer aux nombres réels a et b pour que le polynôme $x^4 + x^3 + ax^2 + bx + 1$ possède deux racines réelles distinctes et opposées ?

3. (a) Résoudre dans $\mathbb{C}$ l'équation

$$z^3 + 1 + i = 0.$$

Remarque : on demande seulement les formes trigonométriques des racines.

(b) Résoudre dans $\mathbb{R}$ l'équation

$$x^3 - 7x^2 - 28x + 160 \;=\; 0$$

sachant qu'elle admet une racine n ?gative ainsi que deux racines positives dont l'une est le double de l'autre.

4. (a) Résoudre dans $\mathbb{C}$ l'équation

$$4z^3 + 4z + \frac{1}{z} \;=\; 0.$$

Suggestion : on donnera la forme algébrique et la forme trigonométrique de chaque racine.

(b) Résoudre dans $\mathbb{R}$ l'équation

$$4x^3 - 6x^2 - 12x + 9 \;=\; 0$$

sachant qu'elle admet une racine négative, ainsi que deux racines positives dont le quotient est $2 + \sqrt{3}$.

5. (a) Construire un polynômedu troisième degré P_1 tel que

$$\sum_{i=0}^{n} i(i+1) \;=\; P_1(n)$$

pour tout entier naturel n. Justifier le résultat proposé, par exemple par la méthode de récurrence.

(b) Généralisation : pour quelles valeurs de k existe-t-il un polynôme du troisième degré P_k tel que

$$\sum_{i=0}^{n} i(i+k) \;=\; P_k(n)$$

pour tout entier naturel n ? Justifier la réponse.

6. Résoudre dans $\mathbb{C}$ l'équation

$$z^4 - 9z^3 + 33z^2 - 54z + 36 = 0\,,$$

sachant qu'aucune racine n'est réelle et que l'une est double d'une autre.

7. (a) Trouver tous les nombres $z \in \mathbb{C}$ tels que

$$(z + 2\cos\alpha)^2 = \frac{1}{z^2}\,.$$

(b) Trouver tous les nombres $z \in \mathbb{C}$ tels que

$$(z + 2\cos\alpha)^4 = \frac{1}{z^4}\,.$$

8. Pour des entiers $n > 0$ et $p \geq 0$ on note $S(n,p)$ la somme des p^{emes} puissances des entiers positifs de 1 à n inclus :

$$S(n,p) \;=\; \sum_{k=1}^{n} k^p \;=\; 1^p + \cdots + n^p\,.$$

(a) Démontrer que

$$\begin{aligned} S(n,0) &= n\,; \\ S(n,1) &= \tfrac{1}{2}n(n+1)\,; \\ S(n,3) &= \left[\tfrac{1}{2}n(n+1)\right]^2\,. \end{aligned}$$

(b) En utilisant la formule du binôme de Newton, démontrer l'égalité

$$pS(n,p-1) \;=\; (n+1)^p - 1 - \sum_{k=0}^{p-2} C_p^k S(n,k)\,,$$

valable pour tous entiers $p > 0$ et $n \geq 0$ et retrouver ainsi les égalités du point a.

(c) Démontrer que $S(n,p-1)$ est un polynôme de degré p en la variable n dont le coefficient du terme de degré p est $1/p$ et dont le terme indépendant est nul.

9. Déterminer tous les polynômes $P(x)$ qui vérifient, pour tout x, la relation

$$P(2x) = P'(x)P''(x)$$

où $P'(x)$ et $P''(x)$ désignent respectivement les dérivées première et seconde du polynôme $P(x)$.

Suggestion : commencer par déterminer le degré n d'un polynôme $P(x)$ qui vérifie cette relation.

10. Soit le polynôme $P(x) = x^4 - 6x^3 + mx^2 + 42x + 40$. Déterminer le réel m sachant que la somme de deux racines de $P(x)$ est égale à la somme des deux autres racines.

11. Déterminer le polynôme $P(x)$ du quatrème degré tel que

(a) le coefficient de x^4 dans $P(x)$ vaut 1,

(b) $P(x)$ est divisible par $x^2 + x + 1$,

(c) le reste de la division $P(x)$ par $x^2 - 1$ est $-3x + 9$.

Donner les racines réelles de l'équation $P(x) = 0$.

12. Trouver un réel m tel que les quatre racines de l'équation

$$x^4 - (3m+1)x^2 + m^2 = 0$$

soient quatre réels distincts en progression arithmétique. Quelles sont alors ces quatre racines ?

13. Déterminer les réels a, b et c tels que le polynôme

$$P(x) = 2x^4 + x^3 + ax^2 + bx + c$$

soit divisible par $(x-1)^2(x+1)$. Factoriser ensuite le polynôme.

14. Démontrer que, pour tout naturel n strictement supérieur à 1, le polynôme

$$x^n - x^{n-2} - 2x + 2$$

est divisible par $(x-1)^2$. Déterminer le quotient.

15. Déterminer le quotient et le reste de la division de $(x^7 - a^7)$ par $(x-a)$ avec a réel. En déduire la valeur de $\displaystyle\sum_{k=0}^{6} 3^k$.

16. Soient $Q_1(x)$ et $R_1(x)$ respectivement le quotient et le reste de la division du polynôme $P(x)$ par $x-a$ et, $Q_2(x)$ et $R_2(x)$ respectivement le quotient et le reste de la division du polynôme $P(x)$ par $x-b$ $(a \neq b)$.
Quel est le reste $R(x)$ de la division de $P(x)$ par $(x-a)(x-b)$?
Si on appelle $Q_3(x)$ le quotient de cette division, Déterminer une expression de $Q_1(x)$ en fonction de $Q_3(x)$.

17. Démontrer la condition nécessaire et suffisante suivante :

un polynôme $P(x)$ est divisible par $(x-a)^2$ si et seulement si $P(a) = P'(a) = 0$ où $P'(x)$ désigne la dérivée première du polynôme $P(x)$.

18. Résoudre l'équation $4x^3 - 24x^2 + 23x + 18 = 0$ sachant que ses racines sont en progression arithmétique.

19. Déterminer toutes les valeurs réelles des paramètres a et b telles que le polynôme

$$P(x) = x^5 + bx^4 + ax^3 + a^2 + x^2 + b^2x + b$$

soit divisible par $x^2 + b$.

20. Déterminer les coefficients du polynôme $P(x)$ sachant que

    (a) il est du quatrième degré,

    (b) la somme des racines est égale à 6,

    (c) le produit des racines est égal à - 24,

    (d) il est divisible par $x^2 - 2x - 8$,

    (e) le reste de la division par $x - 2$ vaut 8.

    Calculer les quatres racines du polynôme trouvé.

21. Déterminer le(s) polynôme(s) $P(x)$ de degré six ayant les propriétés suivantes

    (a) le coefficient de x^6 est égal à 1,

    (b) les coefficients de x^3 et de x^4 sont égaux,

    (c) le polynôme $P(x)$ est divisible par $x^2 - x + 1$,

    (d) le polynôme $\dfrac{P(x)}{x^2 + x + 1} - \dfrac{P(x)}{x^2 - x + 1}$ est divisible par $x^2 - x$.

    Ensuite, calculer toutes les racines de $P(x)$.

22. Soit un polynôme de degré trois à coefficients réels

$$P(x) = x^3 - ax^2 + bx - c.$$

    Déterminer tous les réels a, b et c tels que le polynôme $P(x)$ admette ces mêmes nombres a, b, c comme racines.

23. Déterminer le polynôme $P(x)$ du troisième degré (ayant trois racines, réelles ou complexes) tels que

    — le coefficient de x^3 vaut 1,

    — la somme des racines de $P(x)$ vaut -3,

    — la somme des carrés des racines de $P(x)$ vaut 7,

    — le produit des racines de $P(x)$ vaut 5.

    Ensuite, déterminer toutes les raines réelles ou complexes de $P(x)$.

24. Factoriser le polynôme

$$P(x) = 3x^4 - 11x^3 + 9x^2 + 4x - 4$$

    sachant que l'équation $P(x) = 0$ admet deux racines dont le produit vaut -1.

25. Factoriser dans $\mathbb{C}$ les polynômes suivants

    (a) $P_1(z) = z^{2n} - 2z^n + 2$,

    (b) $P_2(z) = z^{2n} + z^n + 1$.

26. Montrer que $z = 1$ est un zéro triple pour chaque polynôme

    (a) $P_1(z) = z^{2n} - nz^{n+1} + nz^{n-1} - 1$, avec $n > 1$,

    (b) $P_2(z) = z^{2n+1} - (2n+1)z^{n+1} + (2n+1)z^{n-1} - 1$, avec $n > 1$.

27. Soit z un nombre complexe. Le polynôme $P(z) = z^3 + az^2 + bz + c$ admet pour racines les complexes α, β et γ. Montrer que

$$\begin{cases} \alpha + \beta + \gamma = -a \\ \alpha\beta + \alpha\gamma + \beta\gamma = b \\ \alpha\beta\gamma = -c. \end{cases}$$

Chapitre 10

Calcul matriciel

10.1 Définitions

On appelle *matrice* à n lignes et p colonnes un tableau rectangulaire de nombres comportant n lignes et p colonnes. Chacun de ces nombres est appelé un élément de la matrice.
On appelle indifféremment *rangée* d'une matrice une ligne ou une colonne.
Exemple :

$$A = \begin{pmatrix} 1 & 0 & 1 \\ -1 & 1 & 0 \end{pmatrix}$$

est une matrice de dimensions (2,3).
Si la matrice s'appelle A, l'élément de la i^{eme} ligne et de la j^{eme} colonne est noté $(A)_{ij}$ ou plus simplement a_{ij}.
Une matrice qui ne comporte qu'une seule ligne est appelée *matrice-ligne*.
Une matrice qui ne comporte qu'une seule colonne est appelée *matrice-colonne*.
Une matrice est *carrée* si elle possède autant de lignes que de colonnes (si $n = p$).
Une matrice carrée est *diagonale* ssi $a_{ij} = 0, \forall i \neq j$.
Une matrice carrée est *symétrique* ssi $a_{ij} = a_{ji}, \forall 1 \leq i, j \leq n$.
L'ensemble des matrices réelles de n lignes et p colonnes est noté $\mathbb{R}_{(n,p)}$.

10.2 Propriétés

10.2.1 Egalité

Deux matrices de mêmes dimensions sont égales si tous leurs éléments correspondants sont égaux.
Si A et B sont deux matrices de $\mathbb{R}_{(n,p)}$, alors

$$A = B \Leftrightarrow a_{ij} = b_{ij}, \forall 1 \leq i \leq n, 1 \leq j \leq p.$$

10.2.2 Transposée

La transposée d'une matrice s'obtient en échangeant les lignes et les colonnes de la matrice. Ainsi, si les dimensions de la matrice de départ sont (n, p), les dimensions de la transposée sont (p, n).

Si A est une matrice de $\mathbb{R}_{(n,p)}$, la transposée de A est la matrice de $\mathbb{R}_{(p,n)}$, notée $\widetilde{A}$ ou A^T telle que

$$\widetilde{A}_{ij} = A_{ji}, \forall 1 \leq i \leq n, 1 \leq j \leq p.$$

10.2.3 Multiplication par un scalaire

Si A est une matrice de $\mathbb{R}_{(n,p)}$, le produit de la matrice A par le réel α est la matrice de $\mathbb{R}_{(n,p)}$, notée αA telle que

$$(\alpha A)_{ij} = \alpha A_{ji}, \forall 1 \leq i \leq n, 1 \leq j \leq p.$$

Pour multiplier une matrice par un scalaire, il faut donc multiplier chacun des éléments par ce scalaire.

10.2.4 Somme

Si A et B sont deux matrices de $\mathbb{R}_{(n,p)}$, alors la somme des matrices A et B est la matrice de $\mathbb{R}_{(n,p)}$ notée $A + B$ telle que

$$(A + B)_{ij} = a_{ij} + b_{ij}, \forall 1 \leq i \leq n, 1 \leq j \leq p.$$

Pour additionner deux matrices de mêmes dimensions, il faut donc additionner les éléments correspondants.

On peut démontrer sans problème que $\mathbb{R}_{(n,p)}$ muni de l'addition est un groupe commutatif.

Remarque

Le neutre pour l'addition des matrices dans $\mathbb{R}_{(n,p)}$ est appelée la matrice nulle. Elle est notée O. Cette notation est ambigue car elle ne stipule pas la dimension de cette matrice O.

10.2.5 Produit

Définition

Si A est une matrice de $\mathbb{R}_{(n,p)}$ et B une matrice de $\mathbb{R}_{(p,q)}$, alors le produit des matrices A et B est la matrice de $\mathbb{R}_{(n,q)}$ notée AB telle que

$$(AB)_{ij} = \sum_{k=1}^{p} a_{ik} b_{kj}, \forall 1 \leq i \leq n, 1 \leq j \leq q.$$

Remarques

- On appelle parfois ce type de produit le produit "ligne par colonne".
- De par sa définition, on voit de suite que le produit de deux matrices n'existe pas toujours. Il faut que le nombre de colonnes de la première matrice soit égal au nombre de lignes de la deuxième.

  Ainsi, on ne peut pas multiplier deux matrices de $\mathbb{R}_{(2,4)}$ entre elles.

  Le produit de deux matrices n'est donc ni interne, ni partout défini.
- Par contre, dans la cas particulier du produit de deux matrices carrées de mêmes dimensions, le produit est interne et partout défini.
- Toujours par la définition, on voit que le produit de deux matrices n'est pas commutatif.
  - Le produit AB peut exister sans que BA n'existe.

    Ainsi, si $A \in \mathbb{R}_{(3,2)}$ et $B \in \mathbb{R}_{(2,4)}$, alors $AB \in \mathbb{R}_{(3,4)}$ et BA n'existe pas.
  - Mais même si AB et BA existent simultanément, elles peuvent ne pas avoir les mêmes dimensions.

Ainsi, si $A \in \mathbb{R}_{(3,2)}$ et $B \in \mathbb{R}_{(2,3)}$, alors $AB \in \mathbb{R}_{(3,3)}$ et $BA \in \mathbb{R}_{(2,2)}$.

— Enfin, même si AB et BA existent toutes les deux et ont les mêmes dimensions (si A et B sont carrées de même dimension), elles peuvent très bien êtres différentes.

Conséquence, des formules telles que $(A+B)^2 = A^2 + 2AB + B^2$ sont fausses ! On a $(A+B)^2 = A^2 + AB + BA + B^2$

Propriétés

- Lorsqu'il existe, le produit matriciel est associatif
- Si $A \in \mathbb{R}_{(n,p)}$ et $I \in \mathbb{R}_{(p,p)}$ est la matrice $diag(1, 1, \cdots, 1)$, alors $AI = A$.
- Si $A \in \mathbb{R}_{(n,p)}$ et $I \in \mathbb{R}_{(n,n)}$ est la matrice $diag(1, 1, \cdots, 1)$, alors $IA = A$.
- Si A et $I \in \mathbb{R}_{(n,n)}$ où $I = diag(1, 1, \cdots, 1)$, alors $IA = A = AI$. On dit que I est la matrice neutre.

10.2.6 Particularités

Certaines propriétés usuelles d'algèbre avec les nombres ne sont pas vraies avec les matrices.

- Pour certaines matrices, il existe plusieurs matrices X telles $AX = A$.

  On ne peut donc pas simplifier $AX = A$ en $X = I$!

  Exemple : $A = \begin{pmatrix} 4 & 4 \\ 4 & 4 \end{pmatrix}$ et $B = \begin{pmatrix} \frac{1}{2} & \frac{1}{2} \\ \frac{1}{2} & \frac{1}{2} \end{pmatrix}$
- De même, il existe des matrices non nulles telles que leur produit est nul.

  On ne peut donc pas conclure $AB = 0 \Leftrightarrow A = 0$ ou $B = 0$. Exemple : $A = \begin{pmatrix} 1 & -1 \\ -1 & 1 \end{pmatrix}$ et $B = \begin{pmatrix} 1 & 2 \\ 1 & 2 \end{pmatrix}$

Ces particularités sont dues au fait que certaines matrices n'admettent pas d'inverse (voir chapitre suivant).

Chapitre 11

Déterminants

11.1 Définition

Toute matrice carrée admet un déterminant. Une définition générale peut être donnée. Comme le programme n'exige la connaissance des déterminants que de taille 3 maximum, nous nous contenterons de ne définir que ceux-ci.

La définition peut alors être donnée en fonction de la taille de la matrice :

- Si $A = (a)$ est une matrice carrée de dimension 1, alors le déterminant de A est le nombre, noté $detA$ ou $dtmA$ tel que

$$detA = a.$$

- Si $A = \begin{pmatrix} a_{11} & a_{12} \\ a_{21} & a_{22} \end{pmatrix}$ est une matrice carrée de dimension 2, alors le déterminant de A est le nombre, noté $detA$ ou $dtmA$ tel que

$$detA = \begin{vmatrix} a_{11} & a_{12} \\ a_{21} & a_{22} \end{vmatrix} = a_{11}a_{22} - a_{12}a_{21}.$$

- Si $A = \begin{pmatrix} a_{11} & a_{12} & a_{13} \\ a_{21} & a_{22} & a_{23} \\ a_{31} & a_{32} & a_{33} \end{pmatrix}$ est une matrice carrée de dimension 3, alors le déterminant de A est le nombre, noté $detA$ ou $dtmA$ tel que

$$detA = \begin{vmatrix} a_{11} & a_{12} & a_{13} \\ a_{21} & a_{22} & a_{23} \\ a_{31} & a_{32} & a_{33} \end{vmatrix} = a_{11}a_{22}a_{33}+a_{12}a_{23}a_{31}+a_{13}a_{21}a_{32}-a_{13}a_{22}a_{13}-a_{32}a_{23}a_{11}-a_{33}a_{21}a_{12}.$$

Remarque

— Cette dernière définition est appelée règle de Sarrus.

— Les trois définitions ne sont que des cas particuliers de la définition générale.

— Une matrice dont le déterminant est nul est dite singulière.

11.2 Règles des mineurs

11.2.1 Définition

Si $A = (a_{ij})$ est une matrice carrée de dimension n, alors on appelle mineur de l'élément a_{ij} le déterminant de dimension $n-1$ obtenu en supprimant la i^{eme} ligne et la j^{eme} colonne de A.

Exemple

Si A est la matrice de dimension 3 décrite plus haut, le mineur de l'élément a_{12} est le déterminant

$$\begin{vmatrix} a_{21} & a_{23} \\ a_{31} & a_{33} \end{vmatrix}.$$

Si $A = (a_{ij})$ est une matrice carrée de dimension n, on appelle cofacteur de l'élément a_{ij} le produit de son mineur par $(-1)^{i+j}$.

11.2.2 Première règle des mineurs

Si A est une matrice carrée de dimension n, alors $detA$ est égal à la somme des produits des éléments d'une rangée par leurs cofacteurs.

On peut constater l'exactitude de cette propriété sur la définition d'un déterminant de dimension 3 :

$$\begin{vmatrix} a_{11} & a_{12} & a_{13} \\ a_{21} & a_{22} & a_{23} \\ a_{31} & a_{32} & a_{33} \end{vmatrix} = a_{11}a_{22}a_{33} + a_{12}a_{23}a_{31} + a_{13}a_{21}a_{32} - a_{13}a_{22}a_{13} - a_{32}a_{23}a_{11} - a_{33}a_{21}a_{12}$$

$$= a_{11}\left(a_{22}a_{33} - a_{23}a_{32}\right) - a_{12}\left(a_{21}a_{33} - a_{23}a_{31}\right) + a_{13}\left(a_{21}a_{32} - a_{31}a_{22}\right)$$
$$= a_{11}\begin{vmatrix} a_{22} & a_{23} \\ a_{32} & a_{33} \end{vmatrix} - a_{12}\begin{vmatrix} a_{21} & a_{23} \\ a_{31} & a_{33} \end{vmatrix} + a_{13}\begin{vmatrix} a_{21} & a_{22} \\ a_{31} & a_{33} \end{vmatrix}$$

Remarque

Cette propriété est aussi parfois utilisée comme définition d'un déterminant.

11.2.3 Deuxième règle des mineurs

Si A est une matrice carrée de dimension n, alors la somme des produits des éléments d'une rangée par les cofacteurs des éléments d'une rangée parallèle est nulle.

11.3 Propriétés

Toutes les propriétés énoncées ici sont valables quelques soient la dimension des matrices carrées.

1. Si une rangée d'une matrice est nulle, son déterminant est nul.
2. Si on permute deux rangées parallèles d'une matrice, alors le déterminant change de signe.
3. Si une matrice a deux rangées parallèles égales, alors son déterminant est nul.
4. Si on mutiplie tous les éléments d'une rangée par un nombre α, alors le déterminant de la matrice est multiplié par α^n.

   Corrolaire :

   si on multiplie une matrice A de dimension n par le réel α, alors det $\alpha A = \alpha^n$ det A.
5. Si deux rangées parallèles d'une matrice sont multiples l'une de l'autre, le déterminant est nul.
6. Si deux déterminants ne diffèrent que par les éléments d'une même rangée, alors la somme de ces deux déterminants est égale au déterminant obtenu en additionnant les

éléments des rangées différentes et en laissant inchangées les rangées communes.

Ex :

$$\begin{vmatrix} a_{11} & a_{12} \\ a_{21} & a_{22} \end{vmatrix} + \begin{vmatrix} a'_{11} & a'_{12} \\ a_{21} & a_{22} \end{vmatrix} = \begin{vmatrix} a_{11} + a'_{11} & a_{12} + a'_{12} \\ a_{21} & a_{22} \end{vmatrix}$$

7. Si une rangée est combinaison linéaire des autres rangées parallèles, alors le déterminant est nul.
8. Réciproquement, le déterminant d'une matrice est nul si les rangées parallèles sont linéairement dépendantes.
9. Si on ajoute à une rangée une combinaison linéaire de rangées parallèles, le déterminant de la matrice ne change pas.
10. Le déterminant d'une matrice triangulaire est égal au produit des éléments diagonaux.
11. Le déterminant du produit de deux matrices carrées de mêmes dimensions est égal au produit des déterminants.

Chapitre 12

Matrice inverse

12.1 Problème

La notion d'inverse d'un nombre est naturelle : l'inverse du nombre non nul a est le nombre $\frac{1}{a}$ tel que

$$a \cdot \frac{1}{a} = 1$$

puisque 1 est le neutre pour la multiplication des réels.

Comme le produit matriciel n'est interne et partout défini que dans l'ensemble des matrices carrées de dimension n, il est logique de ne chercher l'inverse que d'une matrice carrée.

Comme il existe une matrice

$$I = diag(1, 1, \cdots, 1)$$

qui est neutre pour la multiplication des matrices carrées de dimension n, il est donc logique de se poser la question de l'existence d'une matrice inverse d'une matrice A.

Enfin, comme la multiplication des matrices n'est pas commutative, il serait logique de penser que pour une matrice A donnée, il existe une matrice A_g inverse à gauche telle que

$$A_g A = I$$

et une matrice A_d inverse à droite telle que

$$A \cdot A_d = I$$

.

12.2 Existence et unicité de la matrice inverse

On peut démontrer successivement les propriétés suivantes :

1. Si une matrice A admet une inverse à gauche A_g et une inverse à droite A_d, alors les inverses sont égales.

   Conséquence : on ne fera plus la distinction entre inverse à gauche et inverse à droite. On parlera de matrice inverse.

2. Si une matrice A admet une matrice inverse, alors cette inverse est unique.

   Conséquence : on parlera donc de LA matrice inverse d'une matrice donnée. On la notera A^{-1}

3. Si une matrice admet une inverse, alors $\det A^{-1} = \dfrac{1}{\det A}$.
   Conséquence : si $\det A = 0$, alors A n'admet pas de matrice inverse

4. Si $\det A \neq 0$, alors
$$A^{-1} = \frac{1}{\det A}\widetilde{\mathcal{A}}$$
   où $\mathcal{A}$ est la matrice des cofacteurs des éléments de A.

Remarque

Une matrice qui admet une inverse est dite *inversible*.

12.3 Propriétés

- L'inverse du produit de deux matrices carrées de même dimensions est égale au produit des inverses des deux matrices dans l'ordre inverse
$$(AB)^{-1} = B^{-1}A^{-1}.$$
  Cette propriété n'a de sens que si A et B sont inversibles.
- Si A est inversible, alors l'inverse de l'inverse de A est A.
$$\left(A^{-1}\right)^{-1} = A.$$

Chapitre 13

Systèmes linéaires

13.1 Définitions

On appelle système linéaire de n équations à p inconnues $x_1, \cdots, x_p$ un ensemble d'équations du 1er degré du type

$$\begin{cases} a_{11}x_1 + a_{12}x_2 + \cdots + a_{1p}x_p & = b_1 \\ a_{21}x_1 + a_{22}x_2 + \cdots + a_{2p}x_p & = b_2 \\ \vdots & \vdots \\ a_{n1}x_1 + a_{n2}x_2 + \cdots + a_{np}x_p & = b_n \end{cases}$$

On peut écrire un tel système sous la forme matricielle

$$TX = B$$

où

- $X = \begin{pmatrix} x_1 \\ \vdots \\ x_p \end{pmatrix}$ est la matrice colonne qui contient les inconnues,
- $T = \begin{pmatrix} a_{11} & a_{12} & \cdots & a_{1p} \\ a_{21} & a_{22} & \cdots & a_{2p} \\ \vdots & \vdots & & \\ a_{n1} & a_{n2} & \cdots & a_{np} \end{pmatrix}$ est la matrice de dimensions (n, p) qui contient les coefficients des inconnues,

- $B = \begin{pmatrix} b_1 \\ \vdots \\ b_n \end{pmatrix}$ est la matrice colonne qui contient les termes indépendants.

Résoudre un système consiste à trouver les valeurs des inconnues qui vérifient chacune des équations. Une solution d'un système de n équations à p inconnues est donc un ensemble ordonné de p nombres.

Deux systèmes sont équivalents s'ils sont le même ensemble de solutions.

Un système est compatible s'il admet au moins une solution. Il est incompatible (ou impossible) s'il n'admet aucune solution.

Si un système compatible admet plusieurs solutions, il est dit indéterminé.

Un système est homogène si le terme indépendant de chaque équation est nul. Il s'écrit alors $TX = 0$.

Un système est dit carré s'il comporte autant d'inconnues que d'équations. On a alors $n = p$ et la matrice T est carrée.

13.2 Principes d'équivalence

Pour résoudre un système de n équations à p inconnues, on le transforme en un système plus simple qui lui est équivalent. Pour cela, on peut appliquer les règles suivantes :

1. on peut permuter deux équations,
2. on peut appliquer à chaque équation les principes d'équivalence des équations,
3. on peut ajouter à une équation une combinaison linéaire des autres équations,
4. on peut supprimer une équation qui est une combinaison linéaire des autres équations (équation redondante).

13.3 Propriétés des solutions d'un système

- Si un système admet deux solutions distinctes, alors il en admet une infinité.

  Conséquence : un système admet donc 0, 1 ou une infinité de solutions.
- Un système homogène est toujours compatible ; il admet toujours la solution

$$X = \begin{pmatrix} 0 \\ \vdots \\ 0 \end{pmatrix}$$

Ces propriétés se comprennent très facilement si on veut bien faire le lien avec la géométrie analytique.
Si on considère un système de deux équations à deux inconnues, les deux équations sont celles de droites. Or, dans le plan, ces droites ne peuvent être que strictement parallèles (système impossible), sécantes (1 seule solution) ou confondues (une infinité de solutions). Pour un système de 3 équations à 3 inconnues, chacune des équations est celle d'un plan dans l'espace.

Enfin, si le système est homogène, toutes les droites (2 inconnues) ou tous les plans (3 inconnues) passent par l'origine.

13.4 Méthodes générales de résolution

13.4.1 Par substitution

Cette méthode consiste à exprimer une inconnue en fonction des autres dans une équation, puis à remplacer cette inconnue par l'expression obtenue dans les autres équations.

Exemple

$$\left\{\begin{array}{lll} x & -y & =1 \\ 2x & -y & =1 \end{array}\right. \Leftrightarrow \left\{\begin{array}{lll} x & & =1+y \\ 2(1+y) & -y & =1 \end{array}\right. \Leftrightarrow \left\{\begin{array}{lll} x & & =1+y \\ & y & =-1 \end{array}\right. \Leftrightarrow \left\{\begin{array}{lll} x & & =0 \\ & y & =-1 \end{array}\right.$$

13.4.2 Par combinaisons linéaires

Cette méthode consiste, conformément au 3eme principe d'équivalence décrit ci-dessus, à ajouter (ou retrancher) à une équation une combinaison linéaire des autres équations afin de faire disparaître une ou plusieurs inconnues de cette équation.

13.4.3 Méthode de Gauss ou du pivot

Cette méthode consiste, conformément au 3eme principe d'équivalence décrit ci-dessus, à ajouter (ou retrancher) à chacune (sauf une) des équations un multiple de la dernière équation afin de faire rendre la matrice T des coefficients triangulaire (ou diagonale).

Remarque

Une autre façon de visualiser la méthode est de se dire qu'on recherche une forme échelonnée du système où la première équation dépend des p inconnues, la seconde équation dépend de $p-1$ inconnues, $\cdots$, l'avant dernière dépend de 2 inconnues et la dernière d'une seule inconnue. Ensuite, on résoud les équations dans l'ordre inverse, en "remontant" à partir de cette dernière équation à une inconnue.

13.5 Systèmes carrés

13.5.1 Par la matrice inverse

Cette méthode est plus théorique que pratique. Mais si T admet une matrice inverse, càd si $\det T \neq 0$, alors le système $TX = B$ admet $X = T^{-1}B$ comme solution unique.

13.5.2 Méthode de Cramer

La méthode de Cramer est basée sur la propriété suivante :

si $\det T \neq 0$, le système $TX = B$ admet la solution unique $X = \begin{pmatrix} X_1 \\ \vdots \\ X_p \end{pmatrix}$ où

$$X_i = \frac{|C_1 \cdots B \cdots C_n|}{\det T}$$

dont le numérateur est le déterminant de T dont on a remplacé la i^{eme} colonne par la colonne des termes indépendants.

Cette méthode se prête très bien à la discussion des systèmes paramétriques carrés.

13.5.3 Systèmes rectangulaires où $n > p$

Si un système comporte plus d'équations que d'inconnues, on peut chercher à le transformer en système carré en

— ne conservant que p équations,

— résolvant le système de p équations à p inconnues,

— vérifiant que les solutions obtenues vérifient aussi les $n - p$ équations écartées au départ.

13.6 Exercices

1. (09/09) Résoudre et discuter le système suivant suivant dans lequel a est un paramètre réel

$$\begin{cases} 2ax + (a+1)y + (a-1)z = 2a+3 \\ 2x + (a+1)y + (1-a)z = 4a+1 \\ (a+1)x + (a+1)y = 3a+2 \end{cases}$$

2. (09/10) Résoudre et discuter le système suivant dans lequel a est un paramètre réel

$$\begin{cases} (a+6)x + 2y + a(a+4)z = 1 \\ 2x - (a+1)y - 2az = 17 + a \\ (a+10)x + (a^2-15)y + a^2z = 35 + a \end{cases}$$

Chapitre 14

Probabilités

14.1 Quelques définitions

- Un *phénomène* ou une *expérience* est aléatoire si on ne peut prévoir le résultat avec certitude.
- La *catégorie d'épreuve* ou *l'ensemble des possibles* d'un phénomène aléatoire est l'ensemble des résultats possibles. On note cet ensemble Ω.

  Le nombre de résultats possibles est noté $\#\Omega$ (on lit « cardinal de Ω »).
- Un *événement* relatif à un phénomène aléatoire est un sous-ensemble de la catégorie d'épreuve ou un ensemble de résultats possibles.

  Lors d'une exécution d'un phénomène aléatoire, on dit que l'événement E *se réalise* si le résultat obtenu est un élément de E.

  Les éléments de E sont appelés les *cas favorables* à la réalisation de E.
- L'*événement certain* d'un phénomène aléatoire est l'événement qui est réalisé lors de chaque exécution du phénomène. Il est donc noté Ω.
- L'*événement impossible* d'un phénomène aléatoire est l'événement qui n'est jamais réalisé lors d'une exécution du phénomène. Il est donc noté $\emptyset$.
- Un événement est *élémentaire* s'il contient un seul élément.
- L'*union* des événements E_1 et E_2, notée $E_1 \cup E_2$, est l'événement composé des résultats qui appartiennent à E_1 **ou** à E_2.

  En logique mathématique, le « **ou** » n'est pas exclusif, mais inclusif.

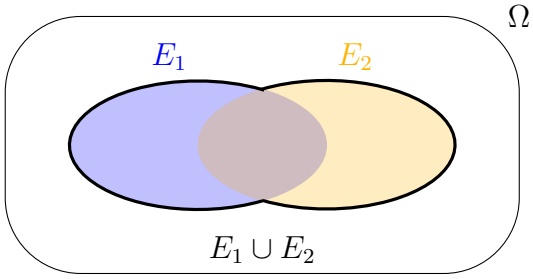

Lors d'une exécution du phénomène aléatoire, l'événement $E_1 \cup E_2$ se réalise si E_1 se réalise **ou** si E_2 se réalise.

- L'*intersection* des événements E_1 et E_2, notée $E_1 \cap E_2$ est l'événement composé des résultats qui appartiennent à E_1 **et** à E_2.

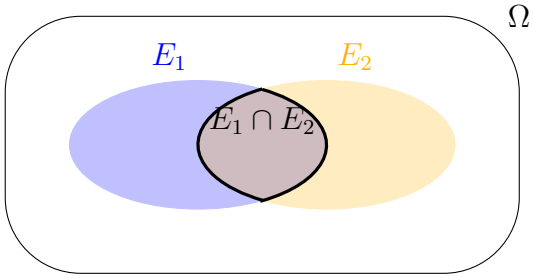

Lors d'une exécution du phénomène aléatoire, l'événement $E_1 \cap E_2$ se réalise si E_1 se réalise **et** si E_2 se réalise.

- Le *complémentaire* d'un événement E est composé des éléments de la catégorie d'épreuve qui n'appartiennent pas à E. On le note $\mathrm{C}_\Omega E$ ou $\overline{E}$.

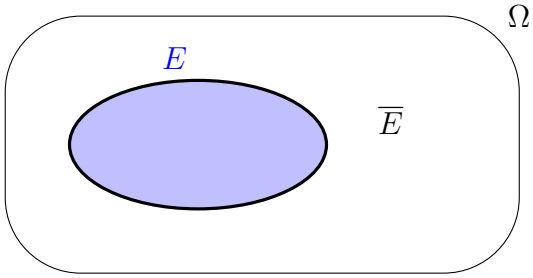

Lors d'une exécution du phénomène aléatoire, le complémentaire de l'événement E se réalise si l'événement E ne se réalise pas.

- *Deux* événements E_1 et E_2 sont *disjoints* ou *incompatibles* s'ils n'ont pas de résultat commun ou encore si leur intersection est vide.

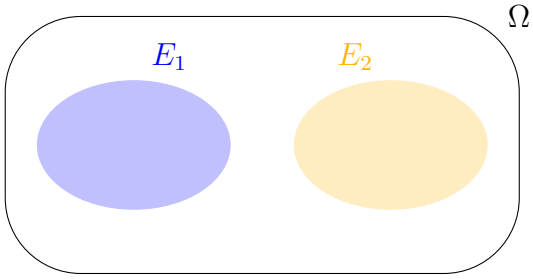

Lors d'une exécution du phénomène aléatoire, les événements E_1 et E_2 ne se réalisent pas simultanément.

- La *différence* des événements E_1 et E_2, notée $E_1 \backslash E_2$ est l'événement composé des résultats qui appartiennent à E_1 **et** pas à E_2.

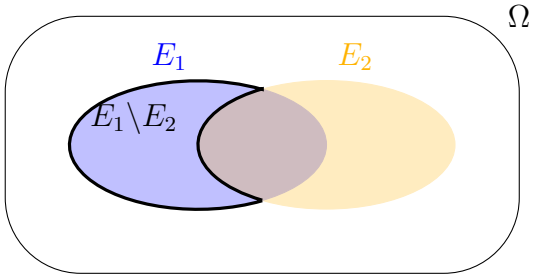

Lors d'une exécution du phénomène aléatoire, l'événement $E_1 \backslash E_2$ se réalise si E_1 se réalise **et** si E_2 ne se réalise pas.

14.2 Probabilité d'un événement

La *probabilité* d'un événement est une mesure de la propension ou de la tendance qu'il se produise.

On pourrait aussi dire que la probabilité d'un événement est une mesure de la confiance que l'on a en sa réalisation.

Intuitivement, la probabilité d'un événement associé à un phénomène aléatoire est sa fréquence lorsqu'on exécute l'expérience un grand nombre de fois. La notion de probabilité est déterminée par trois axiomes proposés par A. Kolmogorov au XXe siècle.

14.2.1 Axiomes de A. Kolmogorov

Soit un phénomène aléatoire de catégorie d'épreuve Ω.

La probabilité d'un événement E est notée $\Pr E$ et vérifie les axiomes suivants :

- La probabilité d'un événement E est un nombre positif inférieur ou égal à 1 :

$$0 \leq \Pr E \leq 1, \text{pour tout } E \subset \Omega.$$

- La probabilité de l'événement certain est 1 :

$$\Pr \Omega = 1.$$

- La probabilité de l'union de deux événements disjoints E et E' est la somme des probabilités de ces deux événements :

$$\Pr(E \cup E') = \Pr E + \Pr E' \text{ si } E \cap E' = \emptyset.$$

14.2.2 Propriétés

À partir de ces axiomes, on peut démontrer plusieurs propriétés.

- Si E est un événement, alors $\Pr \overline{E} = 1 - \Pr E$.
- La probabilité de l'événement impossible est nulle : $\Pr \emptyset = 0$.
- Si E et E' sont deux événements de Ω, alors la probabilité de leur différence est égale à la différence de la probabilité du premier et de la probabilité de leur intersection.

$$\Pr(E \backslash E') = \Pr(E) - \Pr(E \cap E')$$

- La probabilité de l'union de deux événements est la somme des probabilités de ces deux événements moins la probabilité de leur intersection :

$$\Pr(E \cup E') = \Pr E + \Pr E' - \Pr(E \cap E').$$

- Si les événements $E_1, \ldots, E_n$ sont les événements aléatoires élémentaires d'un phénomène aléatoire, alors $\Pr E_1 + \cdots + \Pr E_n = 1$.
- Si E et E' sont deux événements tels que $E \subset E'$, alors $\Pr E \leq \Pr E'$.

Remarque

La réciproque de cette propriété n'est pas vraie.

14.3 Événements équiprobables

14.3.1 Définition

- Deux événements E et E' sont *équiprobables* si leurs probabilités sont égales.

On suppose généralement que

— une « urne » est parfaite càd que les objets qui s'y trouvent sont indiscernables et qu'ils ont la même probabilité d'être choisis,

— « une pièce ou un dé équilibré » sous-entend l'équiprobabilité de l'apparition de chaque face,

— « jeu de cartes » sous-entend l'équiprobabilité de tirer chacune des cartes.

14.3.2 Propriétés

Si la catégorie d'épreuve d'un phénomène aléatoire est composée de n événements élémentaires $E_1, \cdots, E_n$ équiprobables, alors

$$\Pr E_i = \frac{1}{n}, \forall i = 1, \cdots, n.$$

Si l'événement E est composé de k événements élémentaires équiprobables, alors sa probabilité vaut

$$\Pr E = \frac{k}{n} = \frac{\#E}{\#\Omega}$$

où $\#E$ désigne le nombre d'éléments de E.

On écrit parfois sous la forme

$$\Pr E = \frac{\text{Nb de cas favorables}}{\text{Nb de cas possibles}}.$$

14.4 PROBABILITÉS CONDITIONNELLES

14.4.1 Définition

Soient A et B deux événements d'un phénomène aléatoire tels que B n'est pas impossible.

La *probabilité conditionnelle de A si B* est définie par

$$\Pr(A|B) = \frac{\Pr(A \cap B)}{\Pr B}.$$

Remarques

- la définition a un sens car $\Pr B \neq 0$
- $0 \leq \Pr(A|B) \leq 1$ car $A \cap B \subset B$,

14.4.2 Arbre de probabilité pondéré

Beaucoup de problèmes peuvent être se résoudre à l'aide d'un arbre notamment lorsque le phénomène aléatoire peut être décomposé en plusieurs phénomènes aléatoires consécutifs.

Exemple

Deux urnes de même apparence extérieure contiennent des boules rouges et vertes indiscernables au toucher.

L'urne U_1 contient 3 rouges et 2 vertes et l'urne U_2 contient 2 rouges et 1 verte.

On choisit une urne au hasard et on y tire une boule.

Chaque urne et chaque boule a la même probabilité d'êtrte choisie.

1. Quelle est la probabilité qu'elle soit rouge ?
2. Si on tire une boule rouge, quelle est la probabilité qu'elle provienne de l'urne U_1 ?

14.4.3 Construction

Un arbre pondéré peut modéliser un phénomène aléatoire.
Il est constitué de noeuds et de branches. Il se lit de gauche à droite.

- Chaque noeud de l'arbre correspond à un état de l'expérience aléatoire.
- De chaque noeud sont issues des branches qui mènent à des événements disjoints deux à deux dont l'union est la catégorie d'épreuve du phénomène aléatoire correspondant au niveau.
- Sur chaque branche, on écrit la probabilité d'accéder à chacun des états suivants ; ce sont des probabilités <u>conditionnelles</u> sauf pour les branches issues du noeud initial.
  La somme des probabilités (conditionnelles) inscrites sur les branches issues d'un même noeud est égale à 1.
- Un chemin càd une succession de noeuds représente l'intersection des événements constituant le chemin.

Exemple

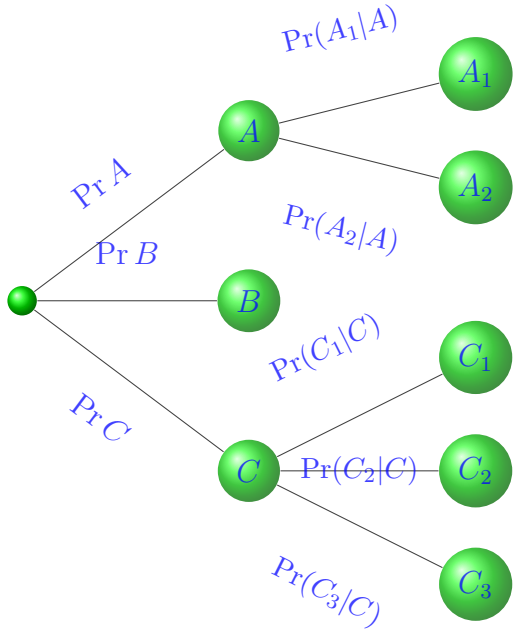

Ici les événements A, B et C sont disjoints 2 à 2 et leur réunion est Ω.
Par conséquent, on doit avoir $\Pr A + \Pr B + \Pr C = 1$.

Les événements A_1 et A_2 sont disjoints et constituent l'ensemble des issues du phénomène aléatoire du 2e niveau sachant que A est réalisé.
Par conséquent, on doit avoir $\Pr(A_1|A) + \Pr(A_2|A) = 1$.

Le chemin

$$\bullet \overset{\Pr A}{\text{———}} A \overset{\Pr(A_1|A)}{\text{———}} A_1$$

correspond à l'événement « A et A_1 » dont la probabilité est $\Pr(A \cap A_1) = \Pr(A_1|A) \cdot \Pr A$.

14.4.4 Calcul de probabilités

Grâce aux arbres de probabilités, le calcul des probabilités se fait en utilisant les propriétés suivantes

- La probabilité d'un « chemin » est le produit des probabilités inscrites sur chaque branche du chemin.
- La probabilité d'un événement est la somme des probabilités des chemins qui constituent l'événement.

14.5 Événements indépendants

14.5.1 Définition

Les événements non vides A et B sont *indépendants* si la réalisation de A ne dépend pas de la réalisation de B càd si

$$\Pr(A|B) = \Pr A.$$

14.5.2 Propriétés

Soient A et B deux événements non impossibles.
A et B sont indépendants ssi $P(A \cap B) = P(A) \cdot P(B)$ ssi $P(B|A) = P(B)$

Remarques

Cas où l'hypothèse d'indépendance est admise :

1. Lancers de plusieurs pièces ou lancers successifs d'une pièce ;
2. Lancers de plusieurs dés ou lancers successifs d'un dé ;
3. Naissances d'enfants d'une même famille (sans vrais jumeaux) ;
4. Tirages successifs d'une carte <u>avec remise</u>.

14.6 Exercices

14.6.1 Probabilités

Série 1 - Compréhension des concepts

1. À la Commission européenne, un groupe est formé de Français, d'Italiens et d'Allemands ; on choisit 3 personnes pour présider à une réunion. On s'intéresse aux événements suivants :

A : les 3 personnes ont la même nationalité

B : les trois personnes sont de trois nationalités différentes

(a) Les événements A et B sont-ils complémentaires ? Justifier.

(b) Les événements A et B sont-ils disjoints ? Justifier.

2. Billy joue au dé. Il prétend que la probabilité des événements élémentaires de son expérience aléatoire est donné par :

$$P(1) = \frac{3}{25}, P(2) = \frac{7}{25}, P(3) = \frac{4}{25}, P(4) = \frac{1}{25}, P(5)\frac{2}{25}, P(6) = \frac{1}{25}$$

Est-ce que les propos de Billy ont du sens ? Pourquoi ? Cela dépend-t-il du dé ?

Série 2 - Équiprobabilité

1. Une urne parfaite contient 15 billes numérotées de 1 à 15. On effectue un seul tirage et on note le numéro de la bille choisie.

(a) Énumérer quelques éléments de la catégorie d'épreuve.

(b) Déterminer les liens entre les événements suivants, ainsi que leur probabilité :

A : tirer le nombre 13,

B : tirer un nombre pair,

C : tirer un multiple de 3,

D : tirer un nombre pair et multiple de 3,

E : tirer un nombre pair ou multiple de 3,

F : tirer un nombre supérieur à 9,

G : ne pas tirer un multiple de 3,

H : ne tirer ni un multiple de 3, ni un nombre pair.

2. On dispose d'un jeu de de belotte qui contient 32 cartes : as, roi, dame, valet, 10, 9, 8, 7 de coeur, carreau, trèfle et pique.

On tire une carte dans ce jeu.

Et on considère les événements suivants :

A : obtenir le roi de pique,

B : obtenir un as,

C : obtenir un coeur,

D : obtenir une image (R, D ou V),

E : obtenir une image de coeur,

F : obtenir une image ou un coeur,

G : ne pas obtenir un coeur.

(a) Énumérer quelques éléments de la catégorie d'épreuve ?

(b) Rechercher des liens entre les événements.

(c) Calculer leur probabilité.

3. Dans une réserve naturelle, des scientifiques ont comptabilisé 500 oiseaux la 1re semaine d'avril. Parmi eux, 200 sont migrateurs et 150 sont aquatiques. De plus, 50 oiseaux sont sédentaires et aquatiques.

   On choisit un oiseau au hasard, chacun ayant la même probabilité d'être choisi.

   (a) Calculer la probabilité que l'oiseau choisi soit sédentaire.

   (b) Calculer la probabilité que l'oiseau choisi soit migrateur et non aquatique.

   (c) Calculer la probabilité que l'oiseau choisi soit sédentaire ou non aquatique.

   (d) Calculer la probabilité que l'oiseau choisi ne soit ni sédentaire, ni aquatique.

4. Dans un club multisport sont inscrits 200 enfants dont 120 filles. On sait que 50 garçons et 20 filles pratiquent le basket.

   (a) On choisit un enfant au hasard, chacun ayant la même probabilité d'être choisi.

      i. Calculer la probabilité de choisir une fille qui ne pratique pas le basket.

      ii. Calculer la probabilité de choisir un garçon ou un enfant qui joue au basket.

   (b) On choisit un enfant qui joue au basket au hasard, chacun ayant la même probabilité d'être choisi.

      Calculer la probabilité de choisir une fille.

5. Un coffre est protégé par un cadenas à code à trois chiffres. Billy ne parvient plus à se rappeler de son code, il se souvient uniquement qu'il contenait un 3. Quelle est la probabilité qu'il ouvre le coffre du premier coup ?

6. Le conseil des étudiants doit être constitué de 5 personnes. Il y a 10 candidats qui se sont présentés pour rejoindre le conseil. Cependant, l'urne qui contenait les votes a malencontreusement été égarée. C'est pourquoi, le responsable du dépouillement des votes (un peu malhonnête) a décidé de choisir au hasard les 5 étudiants qui constitueront le conseil. Quelle est le probabilité que Sophie et Lucas (2 candidats) ne soient pas ensemble dans le conseil ?

Série 3

1. À la sortie d'un spectacle, on demande à une personne (homme ou femme) choisie au hasard si elle a aimé ou non le spectacle. La réponse est soit « oui » soit « non ».
   On considère les événements suivants :

   F : La personne est une femme.

   O : La personne répond « oui ».

   (a) Décrire les événements suivants : $F \cap O$, $\overline{F}$, $\overline{F \cup O}$ et $\overline{F \cap O}$.

   (b) Sachant que $P(F) = 0,65; P(O) = 0,9$ et $P(F \cup O) = 0,94$,
   calculer la probabilité des événements décris ci-dessus.

   (a) Calculer la probabilité de chaque événement élémentaire lorsqu'on lance ce dé.

   (b) Calculer la probabilité d'obtenir un nombre pair.

2. On lance un dé à 6 faces déséquilibré. La probabilité de sortie de chaque numéro est proportionnelle à ce numéro.

   (a) Calculer la probabilité de chaque événement élémentaire.

   (b) Calculer la probabilité d'obtenir un nombre supérieur ($>$) à 4.

3. Benoît, Pierre, Marielle et Aurore organisent entre eux un jeu où il y a un seul gagnant. Benoît a 4 fois plus de chance de gagner que Marielle, Pierre a 3 fois plus de chance de gagner que Marielle et Aurore a la même chance de gagner que Pierre.
   Quelle est la probabilité qu'Aurore ne gagne pas ?

Série 4

1. Le triathlon est une discipline sportive où il faut effectuer 3 sports différents : la natation, le cyclisme et la course à pied. Jade s'entraîne régulièrement pour effectuer un triathlon, elle organise ses entrainements selon les règles suivantes :
   — Chaque entraînement est composé de deux disciplines différentes.
   — Elle commence toujours soit par le vélo, soit par la course à pied.
   — Si elle commence sa séance par de la course à pied, il y a 4 chances sur 10 qu'elle enchaine avec de la natation.
   — Si elle commence sa séance par du vélo, il y a 8 chances sur 10 qu'elle enchaine avec de la natation.

Si lors d'un entrainement quelconque, elle a 18 chances sur 25 d'effectuer du vélo, alors quelle est la probabilité pour qu'elle commence sa séance par de la course à pied ?

2. Les visiteurs d'un musée peuvent acheter leur ticket d'entrée soit via internet ou directement sur place aux caisses du musée. Il y a 70 % des visiteurs qui achètent leur ticket via internet. Parmi les visiteurs qui réservent leur ticket en ligne, 35% d'entre eux payent un supplément pour avoir un audio-guide avec eux lors de la visite. Parmi les visiteurs qui achètent leur ticket sur place, 55 % d'entre eux prennent un audio-guide. Si on prend un visiteur au hasard, quelle est la probabilité pour
   — qu'il n'ait pas pris un audio-guide ?
   — qu'il ait acheté son ticket en ligne ou qu'il ait pris le supplément pour l'audio-guide ?
3. Une entreprise a commandé 2000 ampoules. 600 ampoules sont rouges, 1200 sont blanches et les autres sont bleues. Parmi les bleues, 1% des ampoules sont défectueuses ; et parmi les rouges, 2% sont défectueuses. Si on prend une ampoule au hasard, on a 0,3 % de chance que celle-ci soit blanche et défectueuse. Si on prend une ampoule au hasard, quelle est la probabilité pour qu elle ne soit pas défectueuse ?
4. Les élèves de sixième année ont voté parmi ces trois destinations pour leur voyage rhéto : Italie, Espagne ou Portugal. Personne n'a voté pour le Portugal en premier choix. Un quart des élèves qui ont choisi l'Espagne comme premier choix ont pris le Portugal comme deuxième choix. Si on prend un élève de sixième au hasard, il y a 6 chances sur 7 pour qu'il ait voté pour l'Espagne (en premier ou deuxième choix) et il y a 2 chances sur 7 qu'il ait voté pour le Portugal (en premier ou deuxième choix).
   (a) Quelle est la probabilité qu'un élève choisi au hasard ait voté pour l'Espagne en premier choix ?
   (b) Quelle est la probabilité qu'un élève choisi au hasard n'ait pas voté pour l'Espagne en deuxième choix ?

Série 5

1. Problème des anniversaires :
   Dans une classe de 34 élèves, est-il raisonnable de parier qu'au moins 2 élèves fêtent leur anniversaire le même jour ?

On néglige les années bissextiles et on suppose que chaque élève est né de façon équiprobable l'un des 365 jours de l'année. On peut aussi faire les calculs pour 15, 20 et 30 élèves.

Suggestion : calculer la probabilité du complémentaire de l'événement « au moins deux élèves ont leur anniversaire le même jour ».

14.6.2 Probabilités conditionnelles

Série 1

1. En Syldavie, il fait beau ou il pleut. S'il fait beau, alors il fera beau le lendemain avec une probabilité de $\frac{5}{6}$ et s'il pleut, alors il pleuvra le lendemain avec une probabilité de $\frac{2}{3}$. On est dimanche et il fait beau.
   (a) Quelle est la probabilité pour qu'il fasse beau mardi ?
   (b) Quelle est la probabilité pour qu'il pleuve mercredi ?
2. Les observations effectuées au Zwin ont permis de constater que la proportion d'oiseaux migrateurs à une période déterminée y était de 50% ; celle des oiseaux aquatiques de 35% et celle des oiseaux aquatiques sédentaires de 15%.
   On choisit un oiseau au hasard au Zwin.
   (a) Calculer la probabilité que l'oiseau soit sédentaire et non aquatique,
   (b) Calculer la probabilité que l'oiseau soit aquatique sachant qu'il est migrateur.
3. Une cible tournante est divisée en 4 parties égales : une bleue, une rouge, une jaune et une verte. On peut lancer au maximum deux fléchettes suivant les règles suivantes :
   — On gagne si la 1re fléchette atteint le quartier rouge.
   — Si elle atteint le quartier vert, on lance une deuxième fléchette.
   — On gagne si la 2e fléchette atteint le rouge ou le vert.
   Quelle est la probabilité de gagner ?
4. Deux ateliers A et B fabriquent des puces électroniques. Pour une commande de 2000 pièces, A en a produit 1200 et B en a produit 800. L'atelier A produit 4 % de puces défectueuses et B en produit 3 %.
   On prend une puce au hasard dans la commande.
   (a) Calculer la probabilité d'obtenir une puce défectueuse. Justifier.

(b) Calculer la probabilité d'obtenir une puce provenant de l'atelier A si elle est défectueuse.

5. Dans une classe de rhéto de 32 élèves, il y a 18 filles dont 12 suivent l'option histoire et il y a 20 élèves en option histoire.

   On choisit un délégué au hasard.

   Déterminer la probabilité des événements suivants (réponse sous forme de fraction simplifiée) :

   A : le délégué est un garçon de l'option histoire

   B : le délégué n'est ni un garçon, ni un élève de l'option histoire

   C : le délégué est une fille ou suit l'option histoire

   D : le délégué n'est pas dans l'option histoire si on sait que c'est une fille

   E : le délégué est une fille si on sait qu'elle n'est pas dans l'option histoire.

Série 2

1. Une urne contient sept boules blanches et trois boules noires. On se livre à l'expérience "tirer deux boules".

   On envisage deux cas différents : soit on remet la première boule avant de tirer la deuxième, soit on ne la remet pas.

   (a) Construire l'arbre pondéré correspondant à chacune de ces situations.

   (b) Calculer, dans chaque cas, la probabilité d'obtenir :

   A : une boule blanche, puis une noire

   B : une boule noire, puis une blanche

   C : deux boules blanches

   D : deux boules noires

   E : une 1re boule blanche

   F : une 2e boule noire

   (c) Déterminer si les événements E et F sont indépendants.

   (d) Calculer la probabilité de tirer une boule blanche en 1er lieu si une noire est tirée en 2nd lieu.

2. On tire successivement 2 cartes d'un jeu de 32 cartes (belote). On envisage deux cas : les tirages se font avec et sans remise.

(a) Dans chaque cas, calculer la probabilité des événements suivants :

A : la 1re carte est un as

B : la 2e carte est un coeur

C : la 1re carte tirée est un as de coeur

(b) Déterminer si les événements A et B sont indépendants.

(c) Déterminer si les événements B et C sont indépendants.

Chapitre 15

Statistiques descriptives univariées

15.1 Notions de base

15.1.1 Introduction

"Statistique" vient du mot latin "status" qui signifie "état".

La statistique étudie l'ensemble des méthodes ayant pour but l'étude numérique des collectivités. Elle a pour objet la collecte, l'analyse et l'interprétation des ensembles d'observations relatives à un même phénomène et susceptibles d'être caractérisées par un nombre dans le but d'émettre certaines hypothèses, de les tester, de prendre certaines décisions.

Dans le cadre de ces notes, nous ne considérerons que la *statistique descriptive* dont le rôle se limite à résumer et représenter les données.

15.1.2 Population - Échantillon

- Une *population statistique* est composée d'éléments ou individus satisfaisant tous au(x) même(s) critère(s) d'observation ou d'expérimentation.
- Le nombre d'éléments de cette population est appelé l'*effectif* de la population. Il est souvent noté N.

Dans la pratique, il est généralement impossible d'étudier le même caractère chez tous les individus d'une population. Donc, lors d'études statistiques, on se limite à étudier un même aspect de chaque individu sur une partie de la population.

- Un *échantillon* de la population est un sous-ensemble fini d'éléments pris au hasard

dans la population.

Un bon échantillon doit être *représentatif* de la population de façon à ce que les conclusions tirées sur la population à partir de celui-ci ne soient pas biaisées. Ainsi les individus choisis pour former un échantillon doivent être pris au hasard au sein de la population.

En effet, on ne pourrait pas faire une étude sérieuse des revenus des habitants d'une ville en sélectionnant soit les allocataires sociaux, soit les cadres supérieurs !

- La *taille* ou l'*effectif* d'un échantillon est le nombre d'individus de l'échantillon. Il est souvent noté n.

15.1.3 Variables statistiques

Une étude statistique consiste à observer un même aspect des individus d'une population donnée, cet aspect est appelé *variable*.

On distingue les types suivants de variables :

- les variables *qualitatives* qui ne se mesurent pas à l'aide de nombres.

  Exemples

  Le critère "couleur des pétales" d'un certain type de fleurs, l'état civil, le sexe, la couleur des cheveux,...

  Parmi ces variables, certaines prennent des valeurs qui peuvent quand même être classées selon un ordre (dé)croissant ; on dit qu'elles sont *ordinales*.

  Exemples

  Les tailles de vêtements (XS, S, M, ...), les grades universitaires (A, S, D, GD,...), les couleurs de ceintures dans les sports d'arts martiaux (blanche, jaune, orange, ..., noire), les performances énergétiques d'un bâtiment (PEB : A- B- ... - H)

- les variables *quantitatives* qui se mesurent à l'aide de valeurs numériques.

  On distingue :

- les variables quantitatives *discrètes* qui ne peuvent prendre que des valeurs isolées en nombre fini ;

  Exemples

  Le nombre d'enfants d'une famille, la valeur des pièces de monnaie d'un pays,...

- les variables quantitatives *continues* qui peuvent prendre toutes les valeurs d'un intervalle.

  Exemples

  Le poids, la taille,...

Remarques

1. La différence entre ces deux types de variables quantitatives est parfois faible. Ainsi, la taille de personnes est par nature une variable continue (il n'y a pas de raisons pour que toutes les personnes mesurent un nombre entier de cm (ou de demi cm). Cependant, en raison de la difficulté et de l'inutilité de prendre des mesures très précises, on se contente de ne retenir que des tailles exprimées à l'aide d'entiers.

2. Il faut aussi faire la distinction entre la nature d'une variable (qualitative) et la façon dont les valeurs sont encodées (qui peut être numérique).

   Exemples

   Ainsi, il arrive que le sexe d'une personne soit encodée suivant la convention "0 = femme", "1 = homme".
   De même, la commune dans laquelle l'individu étudié habite peut-être encodée par son code postal au lieu du nom complet de la commune.

3. Une façon simple de faire la distinction entre une variable vraiment quantitative et un encodage numérique d'une variable qualitative est d'imaginer ce que donnerait un calcul de moyenne.

Exemples

Sur un échantillon représentatif de la population, la "moyenne des sexes" est de 0.5. cela a-t-il un sens ?

La "moyenne des communes" d'un échantillon représentatif de la population belge est aux environs de 5000 ? Cela veut-il dire qu'un habitant habite "en moyenne" dans la province de Namur ?

On peut s'intéresser à l'étude de plusieurs caractères ou variables des individus d'un échantillon : taille et poids, IMC et cholestérol,...

Mais dans la suite, nous nous contenterons d'étudier une seule variable par individu. On parle alors de *statistique univariée*.

15.1.4 Série statistique

La variable mesurée est désignée par une lettre majuscule.

Si la variable est notée X, on note chacune des valeurs différentes $x_1, \cdots, x_m$ où $0 < m \leq n$

Définitions

- L'ensemble des valeurs de la variable X observées est appelée *série statistique*.
- Chaque valeur $x_j, j \in \{1, \ldots, m\}$ de la variable X est appelée *modalité* de la variable statistique.

15.1.5 Tableau recensé

On observe la variable X sur un échantillon d'effectif n pris au sein d'une population.
Les données récoltées peuvent être encodées sous la forme d'une simple liste de n nombres (ou de caractères). On parle alors de *tableau brut*.
Pour faciliter l'étude de la série statistique, il est préférable de classer les données dans un *tableau recensé* contenant :

- les différentes modalités notées $x_1, \ldots, x_m$ classées par ordre croissant,
- les nombres de répétitions n_j des différentes modalités ; leur somme est égale à l'effectif n de l'échantillon,

- la *fréquence* des modalités :

  la fréquence de x_j est le quotient du nombre de répétitions par l'effectif de l'échantillon : $f_j = \dfrac{n_j}{n}$.

  Elles sont souvent exprimées en % de la taille de l'échantillon. De plus, leur somme vaut 1.

Si la variable est quantitative (ou qualitative ordinale), on classe les modalités dans le tableau recensé et on peut alors ajouter

- la *fréquence cumulée* des modalités : la fréquence cumulée de la valeur x_j est la somme des fréquences des valeurs inférieures ou égales à x_j :

$$c_j = f_1 + \cdots + f_j = \sum_{i=1}^{j} f_i.$$

  Si m est le nombre de valeurs différentes de la variable X, on a $c_m = 1$.

Un tableau recensé se présente alors comme suit :

Modalités	Nb de répétitions	Fréquences	Fréquences cumulées
x_1	n_1	f_1	$c_1 = f_1$
x_2	n_2	f_2	$c_2 = c_1 + f_2$
$\vdots$	$\vdots$	$\vdots$	$\vdots$
x_m	n_m	f_m	$c_m = c_{m-1} + f_m = 1$
Total	n	100 %	

15.2 Représentations graphiques des variables qualitatives

Pour présenter des données statistiques, on construit souvent des graphiques. Le choix du type de graphiques dépend du type de variables traitées. On peut choisir de représenter les nombres de répétitions ou les fréquences des modalités.

15.2.1 Diagrammes en bâtons ou en barres

La diagramme en barres permet de visualiser les répétitions des différentes modalités les unes par rapport aux autres.

Sur l'axe des abscisses, on place les différentes modalités ; leur ordre n'a pas d'importance sauf si la variable est ordinale.
Et sur l'axe des ordonnées, on écrit les nombres de répétitions ou les fréquences.

Exemple

Dans une classe de 22 élèves, on considère la variable statistique "sexe". Les différentes modalités sont F ou G. On note les résultats suivants : FF FF GF FG FF GG FG GF FF FF GF.
On peut dresser le tableau recensé suivant :

Modalités x_j	Nb de répétitions n_j	Fréquences f_j
F	15	$\frac{15}{22} = 68{,}1$ %
G	7	$\frac{7}{22} = 31{,}8$ %
Total	22	100

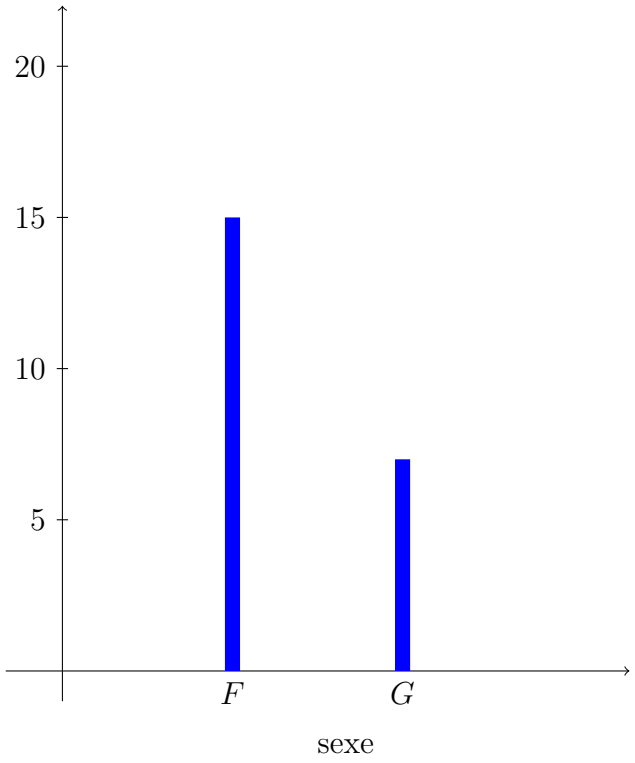

15.2.2 Diagramme circulaire

Le diagramme circulaire permet de visualiser les répétitions des différentes modalités par rapport au tout.

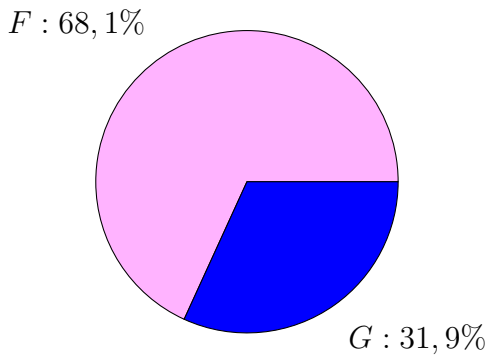

FIGURE 15.1 – Répartition des élèves en fonction de leur sexe

15.3 Représentations graphiques des variables quantitatives discrètes

On représente les nombre de répétitions ou les fréquences des modalités d'une série statistique à partir du tableau recensé.

Exemple

- Lors d'un entraînement de basket-ball, on a relevé le nombre de lancers francs réussis par différents joueurs lors d'une série de 10 essais.

  Voici la série statistique :

  1 2 1 4 2 4 9 8 5 5 2 4 6 1 3 5 2 4 2 8 3 2 5 4 6 1 6 4 9 5 2 7 9 2 2 2 7 5 7 6
- Tableau recensé :

Modalités x_i	Nb de Répétitions n_i	Fréquences (en %) f_i	Fréquences cumulées (en %) c_i
1	4	10	10
2	10	25	35
3	2	5	40
4	6	15	55
5	6	15	70
6	4	10	80
7	3	8	87.5
8	2	5	92.5
9	3	8	100
Effectif	$n = 40$	100	

- Diagramme en bâtonnets

  On trace des axes tels que les modalités $x_1, \ldots, x_m$ de la variable soient en abscisses et les nombres de répétitions (ou les fréquences) en ordonnées. On trace alors des bâtonnets d'une hauteur égale au nombre de répétitions (ou la fréquence) de la valeur considérée.

  Le graphique ainsi obtenu est le diagramme en bâtonnets de la série statistique.

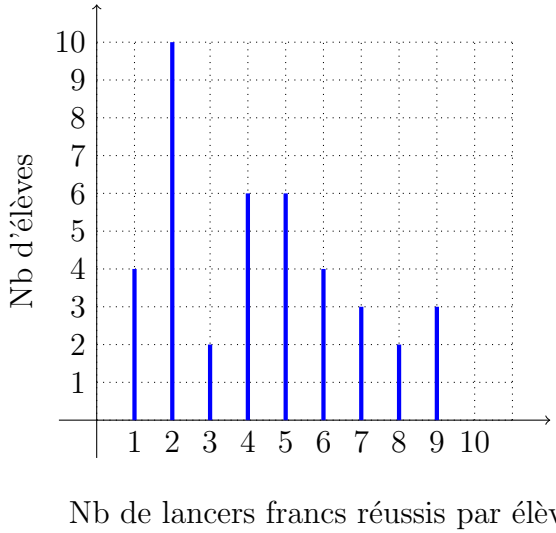

FIGURE 15.2 – Distribution du nombre de lancers réussis par élèves lors de 10 lancers.

- Diagramme des fréquences cumulées

Le diagramme des fréquences cumulées est une courbe "en escaliers" qui permet de répondre à des questions comme celles-ci :

- quelle est la proportion d'élèves ayant réussi moins de 3 essais ?
- quelle est la proportion d'élèves ayant réussi au moins 6 essais ?

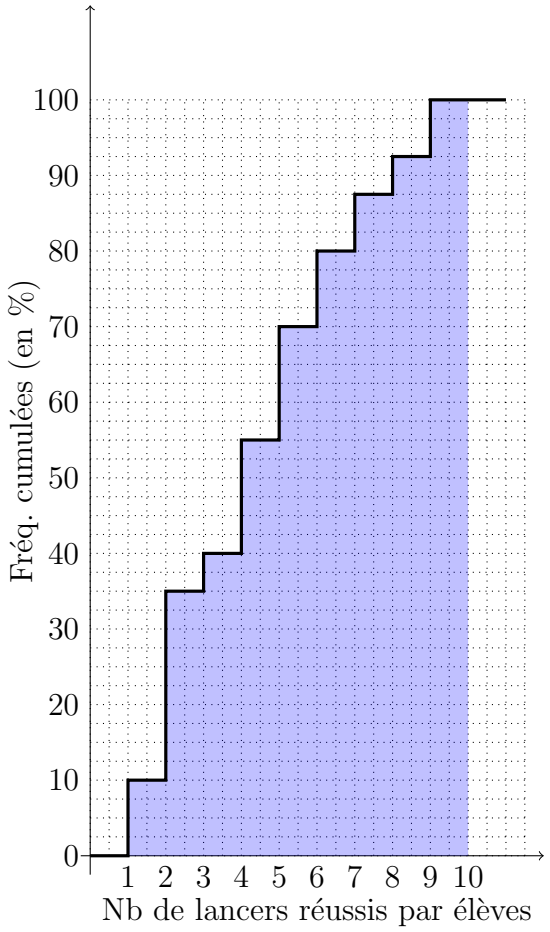

FIGURE 15.3 – Diagramme cumulatif du nb de lancers réussis par élève lors de 10 lancers.

Attention à la position des modalités par rapport aux extrémités des rectangles : on l'inscrit à la gauche du rectangle la concernant.

15.4 Moyenne et écart-type

L'ensemble des données brutes d'une série statistique ne donne pas toujours une idée précise. Il convient donc de définir des valeur qui résument toutes les données de la série. Ces valeurs sont des grandeurs numériques obtenues par des opérations sur les différentes valeurs de l'effectif. Elles ne peuvent donc caractériser que des séries quantitatives et non des séries

qualitatives.
On distingue deux types d'indicateurs : les indicateurs de *position* (moyenne, mode, médiane) qui permettent d'étudier l'ordre de grandeur de l'ensemble des mesures et les indicateurs de *dispersion* (étendue, variance, écart-type, , quartiles, percentiles) qui donnent une idée de la concentration des mesures.

15.4.1 Moyenne

Considérons une variable X mesurée sur un échantillon d'effectif n et $x_1, \cdots, x_n$ les différentes valeurs.

Définition

La *moyenne* d'un échantillon est le quotient de la somme de toutes les valeurs de la variable par l'effectif total :

$$\bar{x} = \frac{1}{n} \sum_{i=1}^{n} x_i.$$

Remarque

Dans le cas où le tableau de recensement donne les modalités $x_1, \cdots, x_m$ et les répétitions correspondantes n_j, on peut calculer la moyenne par

$$\bar{x} = \frac{1}{n} \sum_{j=1}^{m} n_j \cdot x_j.$$

où n_j représente l'effectif de la modalité x_j.

Exemple

Reprenons l'exemple des lancers francs au basket :

Modalités x_j	Répétitions n_j	$n_j \cdot x_j$
1	4	4
2	10	20
3	2	6
4	6	24
5	6	30
6	4	24
7	3	21
8	2	16
9	3	27
Effectif	40	172

D'où $\bar{x} = \dfrac{172}{40} = 4,3$.

Remarques

- La moyenne donne une bonne idée de l'ordre de grandeur d'une série.
- La moyenne est très sensible aux valeurs extrêmes.

Propriété

La moyenne d'une série statistique vérifie la relation

$$\sum_{i=1}^{n}(x_i - \bar{x}) = 0.$$

15.4.2 Variance et écart type

Définition

- La *variance* σ^2 de la population est la moyenne arithmétique des carrés des écarts des valeurs de la série statistique à leur moyenne :

  $$\sigma^2 = \frac{1}{n}\sum_{i=1}^{n}(x_i - \bar{x})^2$$

  où n est l'effectif de la population.
- L'*écart-type* de la population σ est la racine carrée de la variance de la population.

Remarque

Dans le cas d'une série discrète, la variance peut aussi être obtenue par :

$$\sigma^2 = \frac{1}{n}\sum_{j=1}^{m} n_j \cdot (x_j - \bar{x})^2$$

où n_j est le nombre de répétitions de la valeur x_j et n l'effectif de la population.

Remarques

- L'écart-type a la même unité que la variable.
- L'écart-type est une mesure de la dispersion de la série.

  En effet, si tous les éléments de la série statistique ont des valeurs proches de la moyenne, les différences $x_i - \bar{x}$ sont de faible valeur, la variance est donc petite. Par contre, si les valeurs sont plus écartées de la moyenne, les différences sont plus grandes, et la variance est importante.
- La variance et l'écart-type permettent aussi de déterminer le caractère "normal" ou "exceptionnel" d'une valeur de la série. Ainsi, la plupart des phénomènes naturels sont tels que les valeurs obtenues se répartissent suivant une loi dite "loi normale ou de Laplace-Gauss".

  Lorsqu'on dispose d'une distribution normale,

  65% des éléments sont compris dans l'intervalle $[\bar{x} - s, \bar{x} + s]$,

  95% des éléments sont compris dans l'intervalle $[\bar{x} - 2s, \bar{x} + 2s]$.

Propriétés

1. La variance σ^2 est aussi égale à la différence entre la moyenne des carrés des modalités et le carré de la moyenne :

$$\sigma^2 = \frac{1}{n}\sum_{i=1}^{n} x_i^2 - \bar{x}^2.$$

2. Soit X une variable aléatoire qui prend les valeurs $x_1, \cdots, x_n$ dans une population. La variable $Y = aX + b$ a une moyenne égale à $\bar{y} = a\bar{x} + b$ et un écart-type égal à $\sigma_y = |a|\sigma_x$.

15.5 Percentiles

15.5.1 Médiane

Définition

Dans le cas d'une série statistique discrète, la **médiane** est la valeur telle que 50% des observations lui sont supérieures ou égales et telle que 50% lui sont inférieures ou égales. On la note M ou P_{50}.

Médiane d'une série discrète

Supposons la série triée par ordre croissant : on note alors les éléments $x_{(1)}, \ldots, x_{(n)}$ où $x_{(1)}$ est donc la plus petite valeur de la série et $x_{(n)}$ la plus grande.

- Si la série comporte un nombre impair de valeurs, la médiane est la valeur située à la $\left(\dfrac{n+1}{2}\right)^{\text{e}}$ position de la série ordonnée :

$$P_{50} = x_{\left(\frac{n+1}{2}\right)}.$$

- Si la série comporte un nombre pair de valeurs, la médiane est la moyenne arithmétique du $\frac{n}{2}^{\text{e}}$ terme de la série ordonnée et du suivant :

$$P_{50} = \frac{x_{\left(\frac{n}{2}\right)} + x_{\left(\frac{n+1}{2}\right)}}{2}.$$

Remarques

- La médiane est "robuste", elle n'est pas modifiée par des variations des modalités extrêmes.
- Ne pas confondre médiane et moyenne :

15.5.2 Obtenir la médiane graphiquement

On peut obtenir la médiane graphiquement (variable discrète et continue) à partir du diagramme des fréquences cumulées. La médiane est l'abscisse du point de ce diagramme ayant une ordonnée égale à 50%.

Dans le cas d'une variable discrète, cette abscisse est nécessairement une valeur de la série statistique.

Exemple

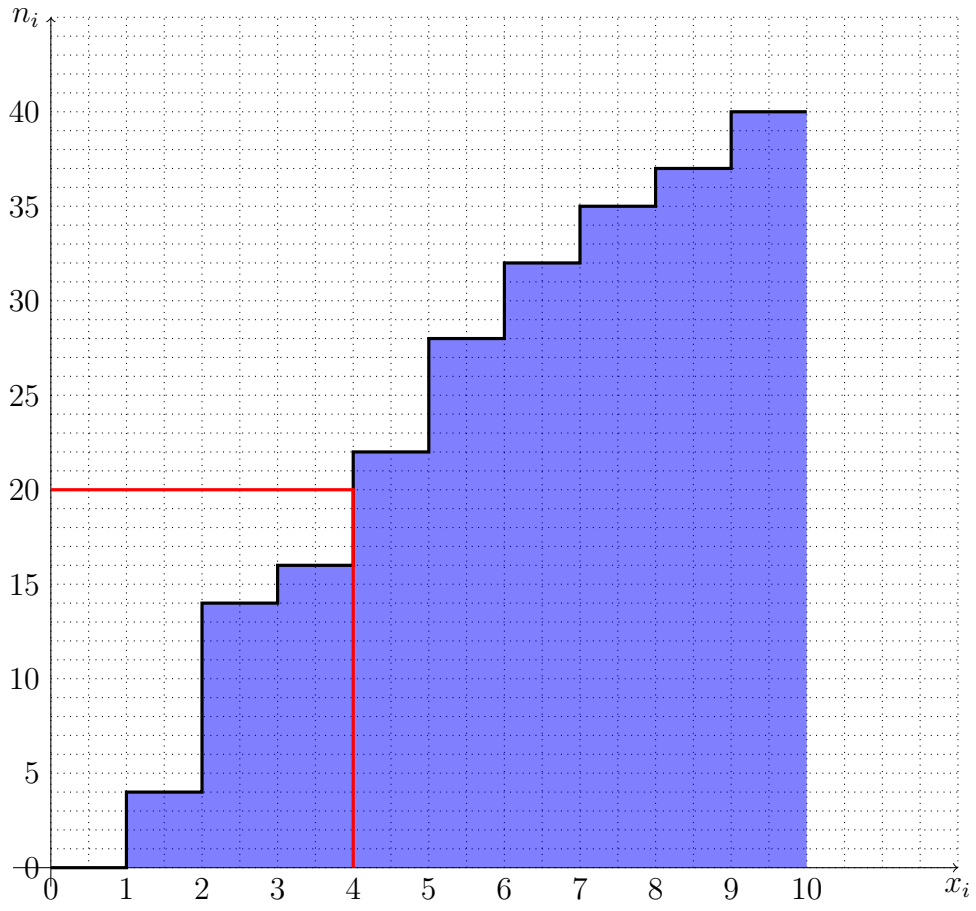

FIGURE 15.4 – Détermination graphique de la médiane d'une série discrète

La médiane est donc $P_{50} = 4$

15.6 Quartiles

15.6.1 Définitions

- Le *premier quartile* Q_1 est la plus petite valeur de la variable telle que au moins un quart des termes de la série aient une valeur inférieure ou égale à Q_1. On l'appelle aussi le percentile 25 et on le note P_{25}.

- Le 2e quartile est la médiane.
- Le 3e quartile Q_3 est la plus petite valeur de la variable telle qu'au moins $\frac{3}{4}$ des termes aient une valeur inférieure ou égale à Q_3. On l'appelle aussi le percentile 75 et on le note P_{75}.
- Les *déciles* partagent une population en 10 parties de même effectif.
- Les centiles ou *percentiles* partagent une population en 100 parties de même effectif.

15.6.2 Obtenir des quartiles, déciles et percentiles graphiquement

On peut obtenir le premier (resp. troisième) quartile Q_1 (resp. Q_3) graphiquement (variable discrète et continue) à partir du diagramme des fréquences cumulées.
Le premier quartile est l'abscisse du point de ce diagramme ayant une ordonnée égale à 25% (resp. 75%).
Le percentile "n" est l'abscisse du point du diagramme des fréquences cumulées ayant une ordonnée de n %.

15.7 Boîtes à moustaches

Une boîte à moustache est une représentation graphique des différentes valeurs mesurées sur l'échantillon.

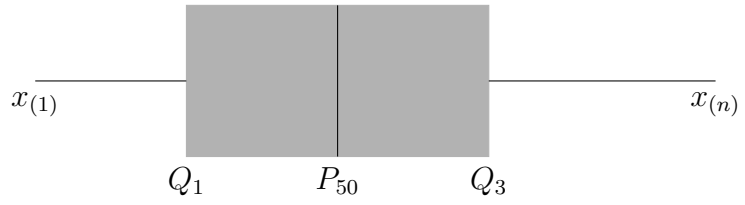

Elle permet d'y lire facilement

- la médiane (séparation verticale intérieure à la boîte)
- les premier et troisième quartiles (extrémités gauche et droite de la boîte)
- les valeurs extrêmes -et donc l'étendue- (extrémités gauche et droite des moustaches)
- Elle sépare l'étendue en 4 zones contenant chacune 25% des observations.

Exemple

La boîte à moustache représentant la série statistique de l'exercice "basket ball" dont les caractéristiques sont les suivantes :

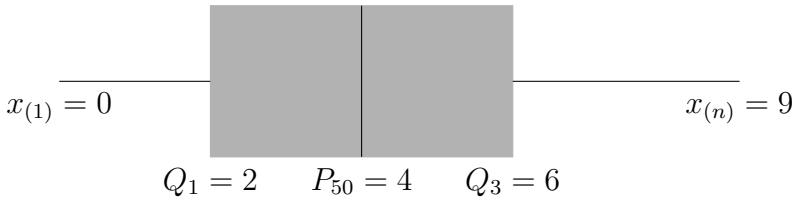

Remarque

Les extrémités de la boîtes à moustaches représentent parfois le 1er et le 9e décile ou le 1er et le 99e percentile.

15.8 Autres caractéristiques d'une série

15.8.1 Mode

Définition

Dans le cas d'une série discrète, le mode est la valeur la plus fréquente.
Dans le cas d'une série continue, la classe modale est la classe ayant le plus grand effectif.

Obtenir le mode

On peut facilement déterminer le mode d'une série statistique discrète sur un diagramme en bâtonnets : c'est la modalité du bâtonnet le plus grand. Si la série est continue, c'est la classe dont l'histogramme a la plus grande superficie (le plus haut si toutes les classes ont la même étendue).

Exemple

Dans un magasin de chaussures, il est évident que le mode est la valeur statistique la plus importante. Il faut prévoir des chaussures dont la pointure est le mode plutôt que la pointure

moyenne !

15.8.2 Indicateurs de dispersion

Étendue

L'étendue d'une série statistique est la différence entre la plus grande et la plus petite valeur de la variable.

Ecart interquartile

L'écart interquartile est le nombre positif H donné par $H = P_{75} - P_{25}$.

15.9 Exercices

1. Pour l'année 1992, voici la répartition des accidents corporels de la route selon les heures de la journée.

   Dégager les tendances essentielles de ces informations.

   Quels types d'indicateurs serait-il intéressant de faire apparaître ?

Tranche horaire	[0,3[	[3,6[	[6,9[	[9,12[	[12,15[	[15,18[	[18,21[	[21,24[
Accidents	8155	6258	15284	18006	23703	29759	29172	13022
Fréq (%)								
Fréq.cum.								

2. Comparer les deux séries de notes suivantes :

   Série A : 8 9 9 10 10 10 11 11 11 11 11 12 12 12 13 13 14

   Série B : 3 5 6 7 8 8 9 10 11 12 13 13 15 15 15 17 20

   Pour chaque série,

   (a) construire un tableau recensé,

   (b) calculer les moyennes, écarts-types,

   (c) construire les diagrammes en bâtonnets et des fréquences cumulées,

   (d) construire le diagramme des fréquences cumulées,

   (e) déterminer la médiane, les quartiles et construire la boîte à moustaches,

(f) céterminer si les distributions sont normales.

3. Voici les résultats d'un examen noté sur 20

10	10	8	3	12	5	19	7	12	12	8	11	15	5	4
18	8	18	1	20	2	13	5	8	8	7	13	11	5	12
12	11	15	10	9	7	6	9	3	12	11	8	10	10	9
8	7	9	12	15	8	7	13	11	8	9	15	14	1	13
4	9	8	12	13	16	12	10	9	9	11	10	8	13	10
12	11	7	8	9	7	13	7	14	8	9	9	7	12	14

(a) Calculer le nombre de répétitions de chaque valeur. Représenter sur un diagramme en bâtonnets.

(b) Calculer les fréquences cumulées et représenter le diagramme des fréquences cumulées.

(c) Calculer la moyenne, la variance, l'écart type et le mode.

(d) Calculer la médiane, les quartiles et construire la boîte à moustaches

(e) La distribution des cotes est-elle normale ?

4. Contrôle de qualité

Une conserverie alimentaire fabrique des plats cuisinés mis en barquettes automatiquement. Les « poids nets »de produit de 60 barquettes sont consignés ci-dessous (en grammes) :

826	829	823	838	828	825	825
832	835	845	836	838	838	835
833	835	840	812	835	832	839
838	833	830	826	830	830	832
812	826	816	824	832	831	820
809	834	818	840	828	821	817
817	837	828	834	837	817	
837	829	821	819	825	819	
832	821	832	814	831	820	

L'appareil de remplissage est en bon état de marche

- si la moyenne des poids est comprise entre 820 g et 840 g,
- si l'écart type est inférieur à 10 g
- et si la proportion de barquettes hors de l'intervalle $[\bar{x} - \sigma_x, \bar{x} + \sigma_x]$ ne dépasse pas 30 %.

  Qu'en est-il ici ?

5. Dans une revue anglaise, une étude météorologique indique que la température moyenne d'une ville est de 52,3 ° F avec un écart-type de 14,7 ° F.
   La relation entre les températures F et C exprimées respectivement en degrés Farenheit et en degrés Celsius est :

$$5F = 9C + 160.$$

   Calculer la température moyenne et l'écart-type en degrés Celsius.

6. Dans une entreprise, le salaire moyen est de 1060 € et l'écart-type est de 380 €.
   Que deviennent la moyenne et l'écart-type

   (a) si les salaires augmentent de 5 % ?

   (b) si les salaires augmentent de 50 € ?

7. La moyenne des notes en mathématiques de la 6 F est 8/20 et l'écart-type est 2. La moyenne de la 6 G est de 11/20 et l'écart-type vaut 4.

   (a) Effectuer une transformation affine des notes pour que les moyennes des deux séries soient égales à 10 et l'écart-type à 3.

   (b) Pour chaque série, rechercher les conditions pour que les nouvelles notes soient dans l'intervalle $[0, 20]$?

   (c) Pour chaque série, rechercher les conditions pour que les nouvelles notes sont-elles supérieures aux anciennes ?

Bibliographie

A. ALBERT, *Biostatistique*, Édition de l'ULg, 2005

I. PAYS, *Cours de statistique*, ULg, 2008

Table des matières

1 Signe sommatoire **3**

1.1 Notation 3

1.2 Propriétés 3

1.3 Exercices 4

2 Démonstrations par récurrence **5**

2.1 Principe 5

2.2 Exemple 5

2.3 Précautions 6

2.4 Exercices 7

3 Valeur absolue **9**

3.1 Définition 9

3.2 Propriétés immédiates 9

3.3 Propriétés algébriques 10

3.4 Egalités et inégalités 10

3.5 Exercices 11

4 Équations et Inéquations **13**

4.1 Définitions 13

4.2 Principes d'équivalence pour les équations 13

4.3 Second degré 14

4.4 Equations du n^{eme} degré 15

4.5 Principes d'équivalence 15

4.6 Inéquations 17

4.6.1 Signe d'une expression du premier degré 17
4.6.2 Signe d'une expression du second degré 17
4.7 (In)équations fractionnaires 17
4.8 (In)Equations irrationnelles 18
4.8.1 Principes d'équivalence 18
4.8.2 Equation exemple 18
4.8.3 Inéquation exemple 19
4.9 Valeurs absolues 20
4.9.1 Principes d'équivalence 20
4.10 Exercices 20
4.10.1 Inéquations 20
4.10.2 Inéquations irrationnelles 21
4.10.3 Inéquations paramétriques 22

5 Equations paramètriques du 2e degré 23
5.1 Somme et produit 23
5.1.1 Propriété 23
5.1.2 Conséquences 23
5.2 Discussion 24
5.2.1 Théorie 24
5.2.2 Exemple 24
5.3 Position d'un nombre α 26
5.3.1 Théorie 26
5.3.2 Exemple 26
5.4 Exercices 27

6 SA et SG 31
6.1 Suites numériques 31
6.1.1 Définition 31
6.1.2 Détermination 31
6.2 Suites arithmétiques 32
6.2.1 Définitions 32

6.2.2 Propriétés 32
6.3 Suites géométriques 32
6.3.1 Définition 32
6.3.2 Propriétés 33
6.4 Exercices 33
6.5 Limites 35
6.5.1 Définitions 35
6.5.2 Limite d'une suite géométrique 36
6.5.3 Exercices 36

7 Combinatoire **41**
7.1 Dénombrements 41
7.1.1 Principe de multiplication 41
7.1.2 Principe de l'addition 42
7.2 Groupements sans répétition 43
7.2.1 Permutations 43
7.2.2 Arrangements sans répétition 43
7.2.3 Combinaisons sans répétition 44
7.3 Groupements avec répétition 45
7.3.1 Arrangements avec répétition 45
7.3.2 Permutations avec répétition 45
7.3.3 Combinaisons avec répétition 46
7.3.4 Organigramme de synthèse 46
7.4 Triangle de Pascal 47
7.5 Binôme de Newton 47
7.6 Exercices 48
7.6.1 Dénombrement 48
7.6.2 Démonstrations 50

8 Complexes **55**
8.1 Définitions 55
8.2 Opérations 56

8.2.1 Somme de deux nombres complexes 56
8.2.2 Produit de deux nombres complexes 56
8.2.3 Conjugué d'un nombre complexe 56
8.3 Module d'un nombre complexe 57
8.4 Racines carrées d'un nombre complexe 57
8.5 Plan de Gauss 58
8.6 Argument d'un nombre complexe 59
8.7 Forme trigonométrique d'un nombre complexe 60
8.7.1 Propriétés 61
8.7.2 Notation exponentielle 61
8.8 Racines n^{e} d'un nombre complexe 62
8.9 Racines n^{e} de l'unité 62
8.10 Exercices 63
8.10.1 Equations, racines 63
8.10.2 Complexes et analyse combinatoire 68

9 Polynômes dans $\mathbb{C}$ 71
9.1 Définitions 71
9.2 Division polynomiale 71
9.2.1 Définitions 71
9.2.2 Loi du reste 72
9.2.3 Zéro multiple 72
9.3 Théorême fondamental de l'algèbre 72
9.4 Polynômes à coefficients réels 73
9.4.1 Théorème 73
9.4.2 Conséquences 73
9.5 Exercices 73

10 Calcul matriciel 79
10.1 Définitions 79
10.2 Propriétés 80
10.2.1 Egalité 80

10.2.2 Transposée 80
10.2.3 Multiplication par un scalaire 80
10.2.4 Somme 80
10.2.5 Produit 81
10.2.6 Particularités 82

11 Déterminants **83**
11.1 Définition 83
11.2 Règles des mineurs 84
11.2.1 Définition 84
11.2.2 Première règle des mineurs 84
11.2.3 Deuxième règle des mineurs 85
11.3 Propriétés 85

12 Matrice inverse **87**
12.1 Problème 87
12.2 Existence et unicité 88
12.3 Propriétés 88

13 Systèmes linéaires **89**
13.1 Définitions 89
13.2 Principes d'équivalence 90
13.3 Propriétés des solutions d'un système 91
13.4 Méthodes 91
13.4.1 Par substitution 91
13.4.2 Par combinaisons linéaires 92
13.4.3 Méthode de Gauss ou du pivot 92
13.5 Systèmes carrés 92
13.5.1 Par la matrice inverse 92
13.5.2 Méthode de Cramer 92
13.5.3 Systèmes rectangulaires où $n > p$ 93
13.6 Exercices 93

14 Probabilités **95**

14.1 Quelques définitions 95

14.2 Probabilité d'un événement 97

14.2.1 Axiomes de A. Kolmogorov 97

14.2.2 Propriétés 98

14.3 Événements équiprobables 99

14.3.1 Définition 99

14.3.2 Propriétés 99

14.4 Prob. conditionnelles 99

14.4.1 Définition 99

14.4.2 Arbre pondéré 100

14.4.3 Construction 100

14.4.4 Calcul de probabilités 101

14.5 Événements indépendants 102

14.5.1 Définition 102

14.5.2 Propriétés 102

14.6 Exercices 102

14.6.1 Probabilités 102

14.6.2 Probabilités conditionnelles 107

15 Statistiques **111**

15.1 Notions de base 111

15.1.1 Introduction 111

15.1.2 Population - Échantillon 111

15.1.3 Variables statistiques 112

15.1.4 Série statistique 114

15.1.5 Tableau recensé 114

15.2 Représentations 115

15.2.1 Diagrammes en bâtons ou en barres 115

15.2.2 Diagramme circulaire 116

15.3 Représentations 117

15.4 Moyenne et écart-type 119

15.4.1 Moyenne 120
15.4.2 Écart-type 121
15.5 Percentiles 123
15.5.1 Médiane 123
15.5.2 Obtenir la médiane graphiquement 123
15.6 Quartiles 124
15.6.1 Définitions 124
15.6.2 Obtenir des quartiles, déciles et percentiles graphiquement 125
15.7 Boîtes à moustaches 125
15.8 Caractéristiques 126
15.8.1 Mode 126
15.8.2 Indicateurs de dispersion 127
15.9 Exercices 127